Visuell subtrahieren

Name:

Verwende die visuelle Methode um jede Aufgabe zu lösen.

1) Es gibt 13 Kreise unten.

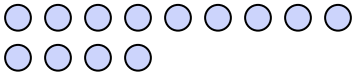

Wenn du 4 wegnehmen müsstest, wie viele wären noch übrig?
13 - 4 = ?

2) Es gibt 10 Vierecke unten.

Wenn du 6 wegnehmen müsstest, wie viele wären noch übrig?
10 - 6 = ?

3) Es gibt 7 Kreise unten.

Wenn du 3 wegnehmen müsstest, wie viele wären noch übrig?
7 - 3 = ?

4) Es gibt 15 Rechtecke unten.

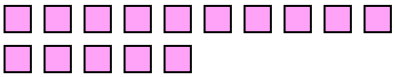

Wenn du 7 wegnehmen müsstest, wie viele wären noch übrig?
15 - 7 = ?

5) Es gibt 15 Rechtecke unten.



Wenn du 3 wegnehmen müsstest, wie viele wären noch übrig?
15 - 3 = ?

6) Es gibt 17 Sechsecke unten.

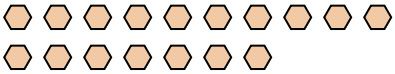

Wenn du 14 wegnehmen müsstest, wie viele wären noch übrig?
17 - 14 = ?

7) Es gibt 17 Rechtecke unten.



Wenn du 12 wegnehmen müsstest, wie viele wären noch übrig?
17 - 12 = ?

8) Es gibt 18 Vierecke unten.

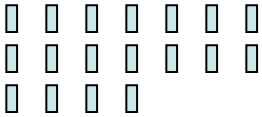

Wenn du 9 wegnehmen müsstest, wie viele wären noch übrig?
18 - 9 = ?

9) Es gibt 6 Dreiecke unten.

Wenn du 4 wegnehmen müsstest, wie viele wären noch übrig?
6 - 4 = ?

10) Es gibt 9 Kreise unten.

Wenn du 2 wegnehmen müsstest, wie viele wären noch übrig?
9 - 2 = ?

Antworten

1. _____
2. _____
3. _____
4. _____
5. _____
6. _____
7. _____
8. _____
9. _____
10. _____

Visuell subtrahieren

Name: **Lösungsschlüssel**

Verwende die visuelle Methode um jede Aufgabe zu lösen.

1) Es gibt 13 Kreise unten.

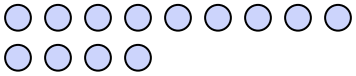

Wenn du 4 wegnehmen müsstest, wie viele wären noch übrig?
13 - 4 = ?

2) Es gibt 10 Vierecke unten.

Wenn du 6 wegnehmen müsstest, wie viele wären noch übrig?
10 - 6 = ?

3) Es gibt 7 Kreise unten.

Wenn du 3 wegnehmen müsstest, wie viele wären noch übrig?
7 - 3 = ?

4) Es gibt 15 Rechtecke unten.

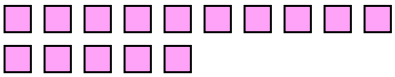

Wenn du 7 wegnehmen müsstest, wie viele wären noch übrig?
15 - 7 = ?

5) Es gibt 15 Rechtecke unten.



Wenn du 3 wegnehmen müsstest, wie viele wären noch übrig?
15 - 3 = ?

6) Es gibt 17 Sechsecke unten.

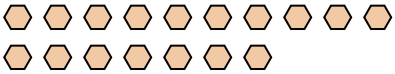

Wenn du 14 wegnehmen müsstest, wie viele wären noch übrig?
17 - 14 = ?

7) Es gibt 17 Rechtecke unten.



Wenn du 12 wegnehmen müsstest, wie viele wären noch übrig?
17 - 12 = ?

8) Es gibt 18 Vierecke unten.

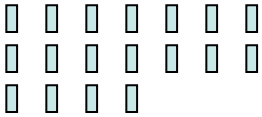

Wenn du 9 wegnehmen müsstest, wie viele wären noch übrig?
18 - 9 = ?

9) Es gibt 6 Dreiecke unten.

Wenn du 4 wegnehmen müsstest, wie viele wären noch übrig?
6 - 4 = ?

10) Es gibt 9 Kreise unten.

Wenn du 2 wegnehmen müsstest, wie viele wären noch übrig?
9 - 2 = ?

Antworten

1. 9
2. 4
3. 4
4. 8
5. 12
6. 3
7. 5
8. 9
9. 2
10. 7