Den absoluten Wert verstehen

Name:

Benutze den Zahlenstrahl um den absoluten Wert zu finden.

1) a. Was ist der Wert von A?

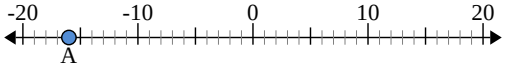

b. Wie weit ist A entfernt von 0 (absoluter Wert)

2) a. Was ist der Wert von A?

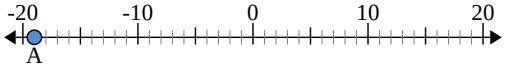

b. Wie weit ist A entfernt von 0 (absoluter Wert)

3) a. Was ist der Wert von A?

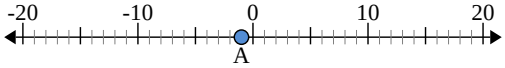

Antworten

1. _____ _____
2. _____ _____
3. _____ _____
4. _____ _____
5. _____ _____
6. _____ _____
7. _____ _____
8. _____ _____
9. _____ _____
10. _____ _____

1-10	90	80	70	60	50	40	30	20	10	0

Den absoluten Wert verstehen

Name: **Lösungsschlüssel**

Benutze den Zahlenstrahl um den absoluten Wert zu finden.

1) a. Was ist der Wert von A?

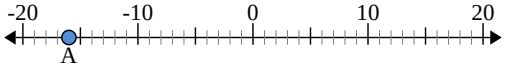

b. Wie weit ist A entfernt von 0 (absoluter Wert)

2) a. Was ist der Wert von A?

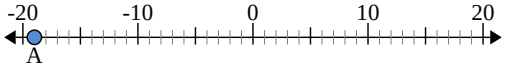

b. Wie weit ist A entfernt von 0 (absoluter Wert)

3) a. Was ist der Wert von A?

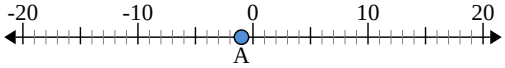

Antworten

1.	-16	16
2.	-19	19
3.	-1	1
4.	7	7
5.	-8	8
6.	-10	10
7.	20	20
8.	2	2
9.	-6	6
10.	9	9

1-10	90	80	70	60	50	40	30	20	10	0

Den absoluten Wert verstehen

Name:

Benutze den Zahlenstrahl um den absoluten Wert zu finden.

1) a. Was ist der Wert von A?

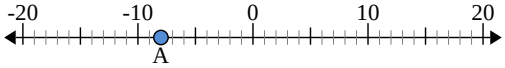

b. Wie weit ist A entfernt von 0 (absoluter Wert)

2) a. Was ist der Wert von A?

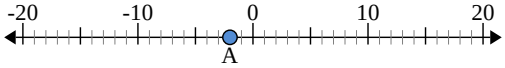

b. Wie weit ist A entfernt von 0 (absoluter Wert)

3) a. Was ist der Wert von A?

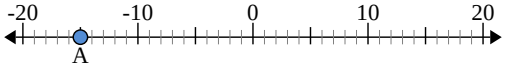

Antworten

1. _____ _____
2. _____ _____
3. _____ _____
4. _____ _____
5. _____ _____
6. _____ _____
7. _____ _____
8. _____ _____
9. _____ _____
10. _____ _____

1-10	90	80	70	60	50	40	30	20	10	0

Benutze den Zahlenstrahl um den absoluten Wert zu finden.

1) a. Was ist der Wert von A?

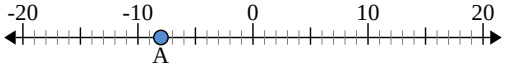

b. Wie weit ist A entfernt von 0 (absoluter Wert)

2) a. Was ist der Wert von A?

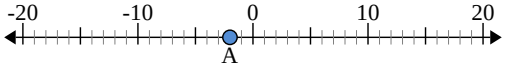

b. Wie weit ist A entfernt von 0 (absoluter Wert)

3) a. Was ist der Wert von A?

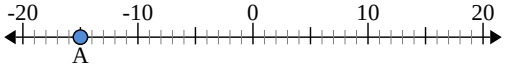

Antworten

1.	-8	8
2.	-2	2
3.	-15	15
4.	-13	13
5.	20	20
6.	14	14
7.	0	0
8.	4	4
9.	19	19
10.	3	3

1-10	90	80	70	60	50	40	30	20	10	0

Den absoluten Wert verstehen

Name:

Benutze den Zahlenstrahl um den absoluten Wert zu finden.

1) a. Was ist der Wert von A?

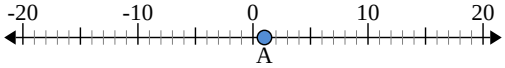

b. Wie weit ist A entfernt von 0 (absoluter Wert)

2) a. Was ist der Wert von A?

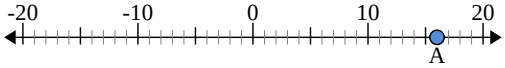

b. Wie weit ist A entfernt von 0 (absoluter Wert)

3) a. Was ist der Wert von A?

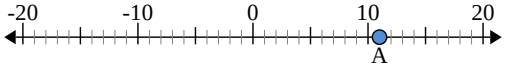

Antworten

1. _____ _____
2. _____ _____
3. _____ _____
4. _____ _____
5. _____ _____
6. _____ _____
7. _____ _____
8. _____ _____
9. _____ _____
10. _____ _____

1-10	90	80	70	60	50	40	30	20	10	0

Name: **Lösungsschlüssel**

Benutze den Zahlenstrahl um den absoluten Wert zu finden.

1) a. Was ist der Wert von A?

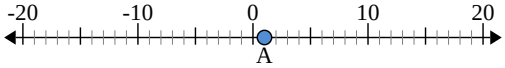

b. Wie weit ist A entfernt von 0 (absoluter Wert)

2) a. Was ist der Wert von A?

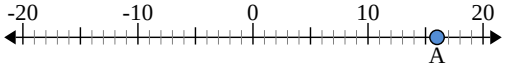

b. Wie weit ist A entfernt von 0 (absoluter Wert)

3) a. Was ist der Wert von A?

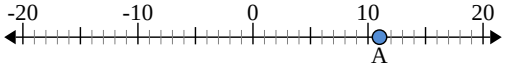

Antworten

1.	1	1
2.	16	16
3.	11	11
4.	-7	7
5.	14	14
6.	2	2
7.	-4	4
8.	-12	12
9.	5	5
10.	-19	19

1-10	90	80	70	60	50	40	30	20	10	0

Den absoluten Wert verstehen

Name:

Benutze den Zahlenstrahl um den absoluten Wert zu finden.

1) a. Was ist der Wert von A?

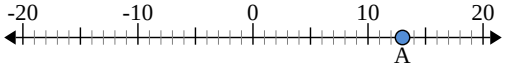

b. Wie weit ist A entfernt von 0 (absoluter Wert)

2) a. Was ist der Wert von A?

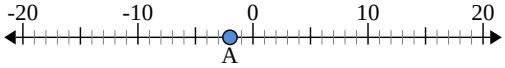

b. Wie weit ist A entfernt von 0 (absoluter Wert)

3) a. Was ist der Wert von A?

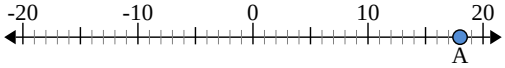

Antworten

1. _____ _____
2. _____ _____
3. _____ _____
4. _____ _____
5. _____ _____
6. _____ _____
7. _____ _____
8. _____ _____
9. _____ _____
10. _____ _____

1-10	90	80	70	60	50	40	30	20	10	0

Name: **Lösungsschlüssel**

Benutze den Zahlenstrahl um den absoluten Wert zu finden.

1) a. Was ist der Wert von A?

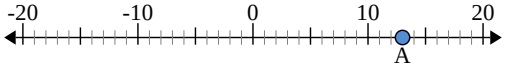

b. Wie weit ist A entfernt von 0 (absoluter Wert)

2) a. Was ist der Wert von A?

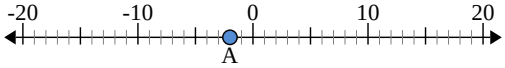

b. Wie weit ist A entfernt von 0 (absoluter Wert)

3) a. Was ist der Wert von A?

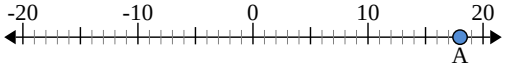

Antworten

1.	13	13
2.	-2	2
3.	18	18
4.	20	20
5.	-3	3
6.	4	4
7.	-6	6
8.	0	0
9.	-15	15
10.	-14	14

1-10	90	80	70	60	50	40	30	20	10	0

Den absoluten Wert verstehen

Name:

Benutze den Zahlenstrahl um den absoluten Wert zu finden.

1) a. Was ist der Wert von A?

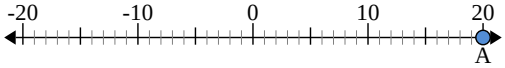

b. Wie weit ist A entfernt von 0 (absoluter Wert)

2) a. Was ist der Wert von A?

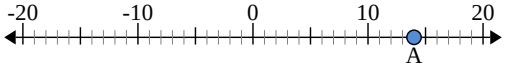

b. Wie weit ist A entfernt von 0 (absoluter Wert)

3) a. Was ist der Wert von A?

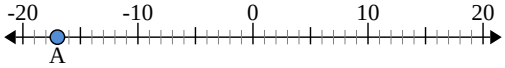

Antworten

1. _____ _____
2. _____ _____
3. _____ _____
4. _____ _____
5. _____ _____
6. _____ _____
7. _____ _____
8. _____ _____
9. _____ _____
10. _____ _____

1-10	90	80	70	60	50	40	30	20	10	0

Name: **Lösungsschlüssel**

Benutze den Zahlenstrahl um den absoluten Wert zu finden.

1) a. Was ist der Wert von A?

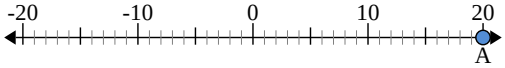

b. Wie weit ist A entfernt von 0 (absoluter Wert)

2) a. Was ist der Wert von A?

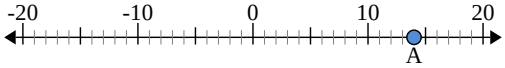

b. Wie weit ist A entfernt von 0 (absoluter Wert)

3) a. Was ist der Wert von A?

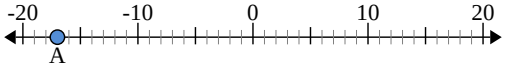

Antworten

1.	20	20
2.	14	14
3.	-17	17
4.	18	18
5.	-16	16
6.	-10	10
7.	-9	9
8.	-12	12
9.	-7	7
10.	13	13

1-10	90	80	70	60	50	40	30	20	10	0

Den absoluten Wert verstehen

Name:

Benutze den Zahlenstrahl um den absoluten Wert zu finden.

1) a. Was ist der Wert von A?

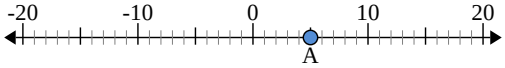

b. Wie weit ist A entfernt von 0 (absoluter Wert)

2) a. Was ist der Wert von A?

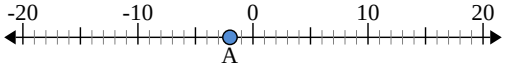

b. Wie weit ist A entfernt von 0 (absoluter Wert)

3) a. Was ist der Wert von A?

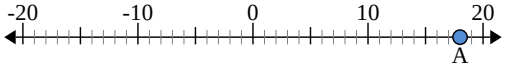

Antworten

1. _____ _____
2. _____ _____
3. _____ _____
4. _____ _____
5. _____ _____
6. _____ _____
7. _____ _____
8. _____ _____
9. _____ _____
10. _____ _____

1-10	90	80	70	60	50	40	30	20	10	0

Name: **Lösungsschlüssel**

Benutze den Zahlenstrahl um den absoluten Wert zu finden.

1) a. Was ist der Wert von A?

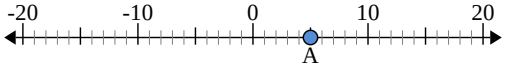

b. Wie weit ist A entfernt von 0 (absoluter Wert)

2) a. Was ist der Wert von A?

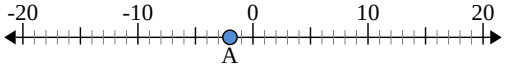

b. Wie weit ist A entfernt von 0 (absoluter Wert)

3) a. Was ist der Wert von A?

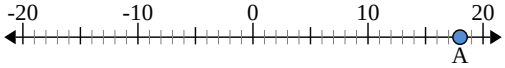

Antworten

1.	5	5
2.	-2	2
3.	18	18
4.	-17	17
5.	0	0
6.	13	13
7.	-14	14
8.	11	11
9.	-4	4
10.	-8	8

1-10	90	80	70	60	50	40	30	20	10	0

Den absoluten Wert verstehen

Name:

Benutze den Zahlenstrahl um den absoluten Wert zu finden.

1) a. Was ist der Wert von A?

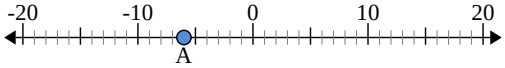

b. Wie weit ist A entfernt von 0 (absoluter Wert)

2) a. Was ist der Wert von A?

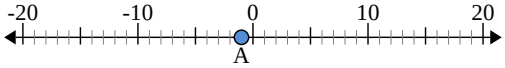

b. Wie weit ist A entfernt von 0 (absoluter Wert)

3) a. Was ist der Wert von A?

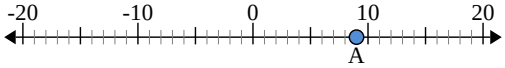

Antworten

1. _____ _____
2. _____ _____
3. _____ _____
4. _____ _____
5. _____ _____
6. _____ _____
7. _____ _____
8. _____ _____
9. _____ _____
10. _____ _____

1-10	90	80	70	60	50	40	30	20	10	0

Name: **Lösungsschlüssel**

Benutze den Zahlenstrahl um den absoluten Wert zu finden.

1) a. Was ist der Wert von A?

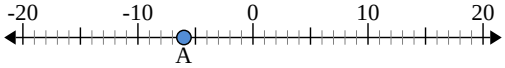

b. Wie weit ist A entfernt von 0 (absoluter Wert)

2) a. Was ist der Wert von A?

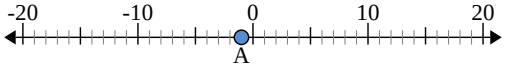

b. Wie weit ist A entfernt von 0 (absoluter Wert)

3) a. Was ist der Wert von A?

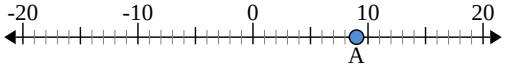

Antworten

1.	-6	6
2.	-1	1
3.	9	9
4.	-8	8
5.	-3	3
6.	19	19
7.	-13	13
8.	12	12
9.	5	5
10.	-20	20

1-10	90	80	70	60	50	40	30	20	10	0

Den absoluten Wert verstehen

Name:

Benutze den Zahlenstrahl um den absoluten Wert zu finden.

1) a. Was ist der Wert von A?

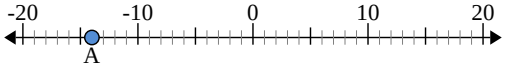

b. Wie weit ist A entfernt von 0 (absoluter Wert)

2) a. Was ist der Wert von A?

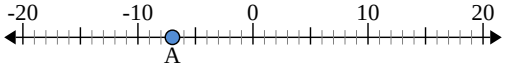

b. Wie weit ist A entfernt von 0 (absoluter Wert)

3) a. Was ist der Wert von A?

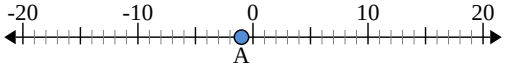

Antworten

1. _____ _____
2. _____ _____
3. _____ _____
4. _____ _____
5. _____ _____
6. _____ _____
7. _____ _____
8. _____ _____
9. _____ _____
10. _____ _____

1-10	90	80	70	60	50	40	30	20	10	0

Benutze den Zahlenstrahl um den absoluten Wert zu finden.

1) a. Was ist der Wert von A?

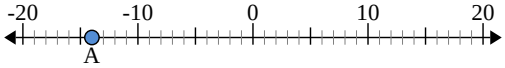

b. Wie weit ist A entfernt von 0 (absoluter Wert)

2) a. Was ist der Wert von A?

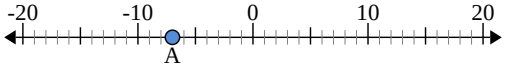

b. Wie weit ist A entfernt von 0 (absoluter Wert)

3) a. Was ist der Wert von A?

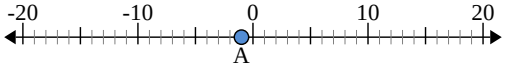

Antworten

1.	-14	14
2.	-7	7
3.	-1	1
4.	10	10
5.	20	20
6.	5	5
7.	-17	17
8.	-6	6
9.	12	12
10.	-2	2

1-10	90	80	70	60	50	40	30	20	10	0

Den absoluten Wert verstehen

Name:

Benutze den Zahlenstrahl um den absoluten Wert zu finden.

1) a. Was ist der Wert von A?

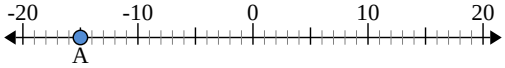

b. Wie weit ist A entfernt von 0 (absoluter Wert)

2) a. Was ist der Wert von A?

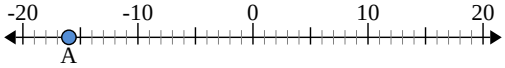

b. Wie weit ist A entfernt von 0 (absoluter Wert)

3) a. Was ist der Wert von A?

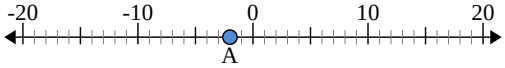

Antworten

1. _____ _____
2. _____ _____
3. _____ _____
4. _____ _____
5. _____ _____
6. _____ _____
7. _____ _____
8. _____ _____
9. _____ _____
10. _____ _____

1-10	90	80	70	60	50	40	30	20	10	0

Benutze den Zahlenstrahl um den absoluten Wert zu finden.

1) a. Was ist der Wert von A?

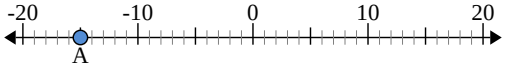

b. Wie weit ist A entfernt von 0 (absoluter Wert)

2) a. Was ist der Wert von A?

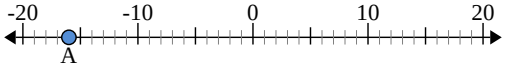

b. Wie weit ist A entfernt von 0 (absoluter Wert)

3) a. Was ist der Wert von A?

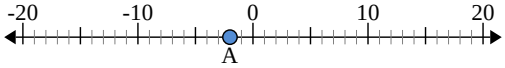

Antworten

1.	-15	15
2.	-16	16
3.	-2	2
4.	6	6
5.	-7	7
6.	14	14
7.	-17	17
8.	3	3
9.	-10	10
10.	13	13

1-10	90	80	70	60	50	40	30	20	10	0

Den absoluten Wert verstehen

Name:

Benutze den Zahlenstrahl um den absoluten Wert zu finden.

1) a. Was ist der Wert von A?

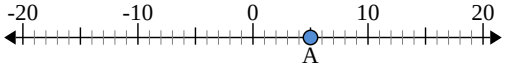

b. Wie weit ist A entfernt von 0 (absoluter Wert)

2) a. Was ist der Wert von A?

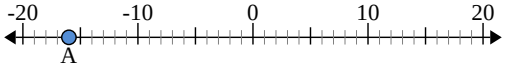

b. Wie weit ist A entfernt von 0 (absoluter Wert)

3) a. Was ist der Wert von A?

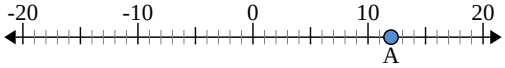

Antworten

1. _____ _____
2. _____ _____
3. _____ _____
4. _____ _____
5. _____ _____
6. _____ _____
7. _____ _____
8. _____ _____
9. _____ _____
10. _____ _____

1-10	90	80	70	60	50	40	30	20	10	0

Den absoluten Wert verstehen

Name: **Lösungsschlüssel**

Benutze den Zahlenstrahl um den absoluten Wert zu finden.

1) a. Was ist der Wert von A?

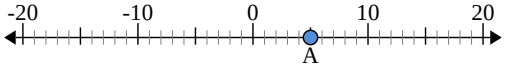

b. Wie weit ist A entfernt von 0 (absoluter Wert)

2) a. Was ist der Wert von A?

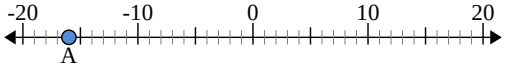

b. Wie weit ist A entfernt von 0 (absoluter Wert)

3) a. Was ist der Wert von A?

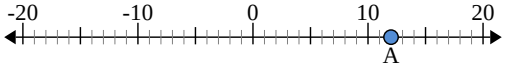

Antworten

1.	5	5
2.	-16	16
3.	12	12
4.	6	6
5.	-7	7
6.	8	8
7.	-11	11
8.	-20	20
9.	-2	2
10.	0	0

1-10	90	80	70	60	50	40	30	20	10	0