Lage negativer Zahlen auf dem Zahlenstrahl

Name:

Löse jede Aufgabe.

1) Welcher Buchstabe zeigt die korrekte Lage von -24



2) Welcher Buchstabe zeigt die korrekte Lage von -101

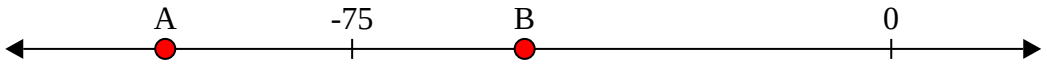

3) Welcher Buchstabe zeigt die korrekte Lage von -83



4) Welcher Buchstabe zeigt die korrekte Lage von -95

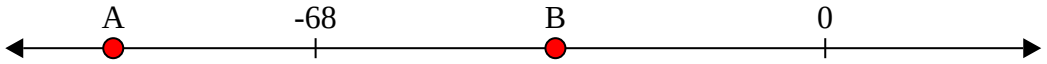

5) Welcher Buchstabe zeigt die korrekte Lage von -86



6) Welcher Buchstabe zeigt die korrekte Lage von -112



7) Welcher Buchstabe zeigt die korrekte Lage von -79

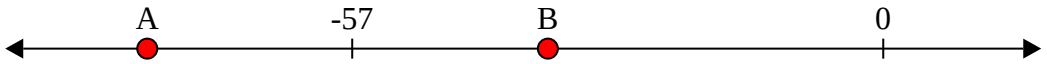

8) Welcher Buchstabe zeigt die korrekte Lage von -10



9) Welcher Buchstabe zeigt die korrekte Lage von -27



10) Welcher Buchstabe zeigt die korrekte Lage von -100

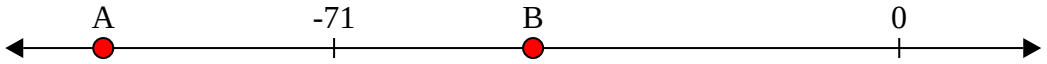

Antworten

1. _____
2. _____
3. _____
4. _____
5. _____
6. _____
7. _____
8. _____
9. _____
10. _____

1-10	90	80	70	60	50	40	30	20	10	0

Lage negativer Zahlen auf dem Zahlenstrahl

Name: **Lösungsschlüssel**

Löse jede Aufgabe.

1) Welcher Buchstabe zeigt die korrekte Lage von -24

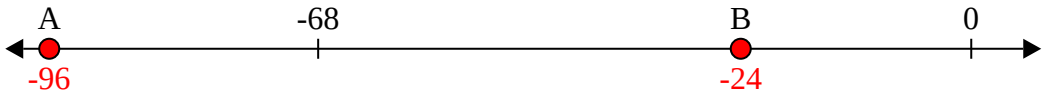

2) Welcher Buchstabe zeigt die korrekte Lage von -101

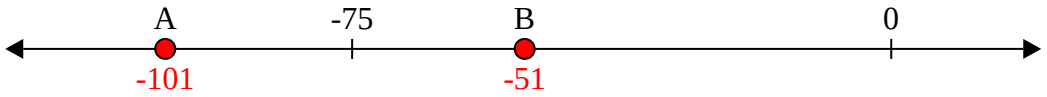

3) Welcher Buchstabe zeigt die korrekte Lage von -83

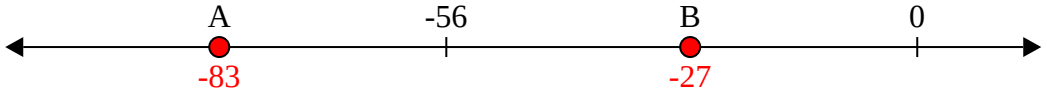

4) Welcher Buchstabe zeigt die korrekte Lage von -95

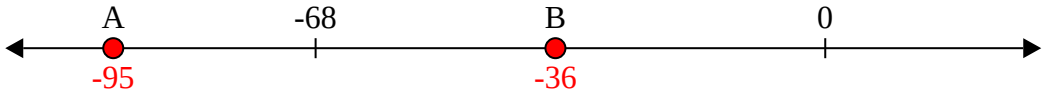

5) Welcher Buchstabe zeigt die korrekte Lage von -86

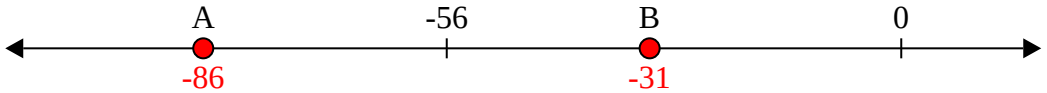

6) Welcher Buchstabe zeigt die korrekte Lage von -112

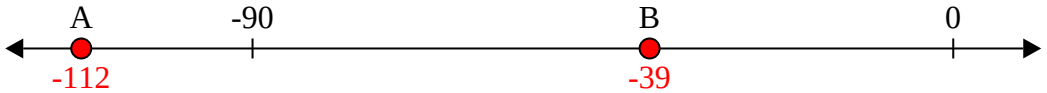

7) Welcher Buchstabe zeigt die korrekte Lage von -79

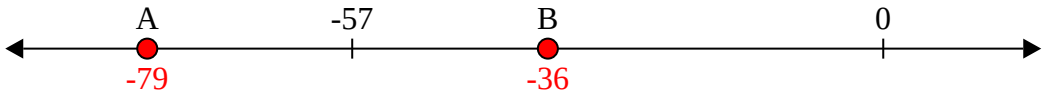

8) Welcher Buchstabe zeigt die korrekte Lage von -10

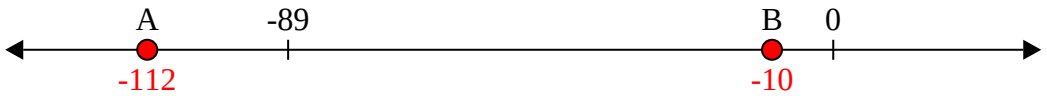

9) Welcher Buchstabe zeigt die korrekte Lage von -27

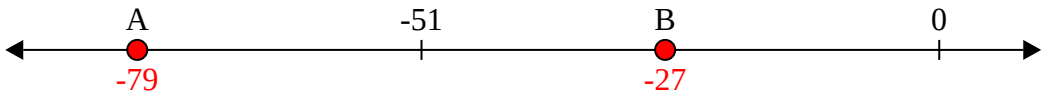

10) Welcher Buchstabe zeigt die korrekte Lage von -100

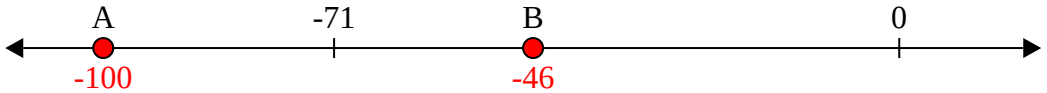

Antworten

1. **B**
2. **A**
3. **A**
4. **A**
5. **A**
6. **A**
7. **A**
8. **B**
9. **B**
10. **A**

1-10	90	80	70	60	50	40	30	20	10	0