Umwandeln von Multiplikationsaufgaben

Name:

Schreibe jede Anordnung als eine Multiplikationsaufgabe um und löse sie.

Bsp)

1)

2)



3)

4)



5)

6)

7)

8)

9)

10)

11)



Antworten

Bsp. **5 • 8 = 40**

1. _____
2. _____
3. _____
4. _____
5. _____
6. _____
7. _____
8. _____
9. _____
10. _____
11. _____

1-10	91	82	73	64	55	45	36	27	18	9
11	0									

Umwandeln von Multiplikationsaufgaben Name: **Lösungsschlüssel**

Schreibe jede Anordnung als eine Multiplikationsaufgabe um und löse sie.

Bsp)

1)

2)



3)

4)



5)

6)

7)

8)

9)

10)

11)

Antworten

Bsp.	5 • 8 = 40
1.	10 • 5 = 50
2.	4 • 5 = 20
3.	2 • 8 = 16
4.	3 • 9 = 27
5.	7 • 2 = 14
6.	4 • 4 = 16
7.	2 • 2 = 4
8.	8 • 2 = 16
9.	7 • 3 = 21
10.	4 • 2 = 8
11.	10 • 2 = 20

1-10	91	82	73	64	55	45	36	27	18	9
11	0									