Spiegelungen im Koordinatenkreuz Name:

Spiegle jede Figur wie beschrieben.

1)

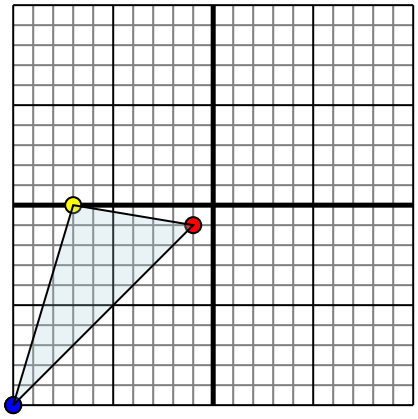

Die obige Figur hat die folgenden Koordinaten:

A. (-1,-1)

B. (-7,0)

C. (-10,-10)

Spiegle die Figur an der X-Achse.

2)

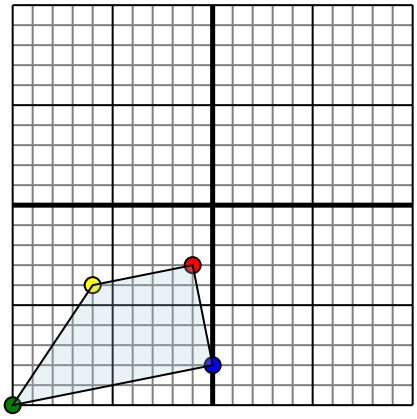

Die obige Figur hat die folgenden Koordinaten:

A. (-1,-3)

B. (-6,-4)

C. (-10,-10)

D. (0,-8)

Spiegle die Figur an der X-Achse.

3)

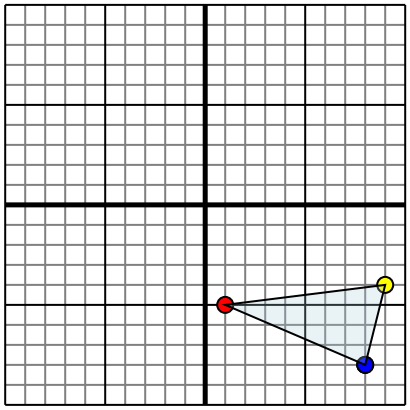

Die obige Figur hat die folgenden Koordinaten:

A. (1,-5)

B. (9,-4)

C. (8,-8)

Spiegle die Figur an der X-Achse.

4)

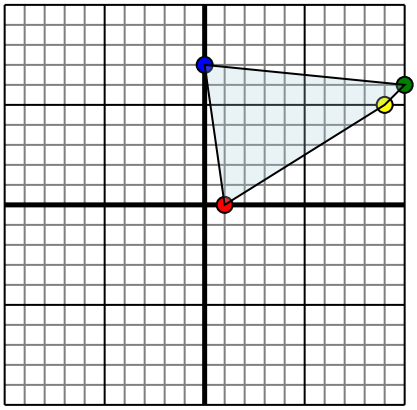

Die obige Figur hat die folgenden Koordinaten:

A. (1,0)

B. (9,5)

C. (10,6)

D. (0,7)

Spiegle die Figur an der X-Achse.

Antworten

1. ___ ___ ___ ___

2. ___ ___ ___ ___ ___

3. ___ ___ ___ ___

4. ___ ___ ___ ___ ___

1-4	75	50	25	0

Spiegelungen im Koordinatenkreuz

Name: **Lösungsschlüssel**

Spiegle jede Figur wie beschrieben.

1)

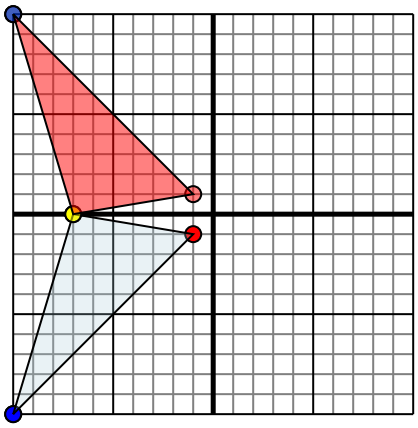

Die obige Figur hat die folgenden Koordinaten:

A. (-1,-1)

B. (-7,0)

C. (-10,-10)

Spiegle die Figur an der X-Achse.

2)

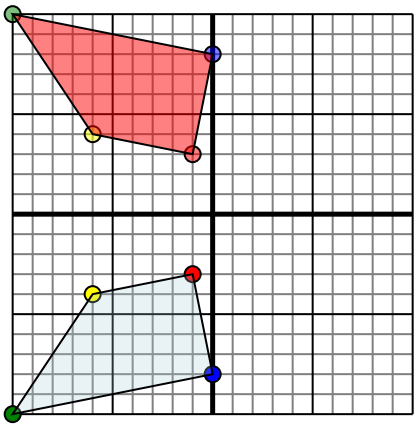

Die obige Figur hat die folgenden Koordinaten:

A. (-1,-3)

B. (-6,-4)

C. (-10,-10)

D. (0,-8)

Spiegle die Figur an der X-Achse.

3)

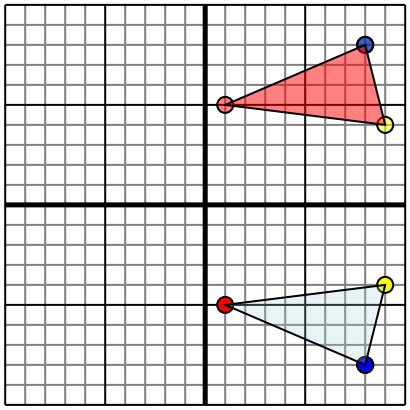

Die obige Figur hat die folgenden Koordinaten:

A. (1,-5)

B. (9,-4)

C. (8,-8)

Spiegle die Figur an der X-Achse.

4)

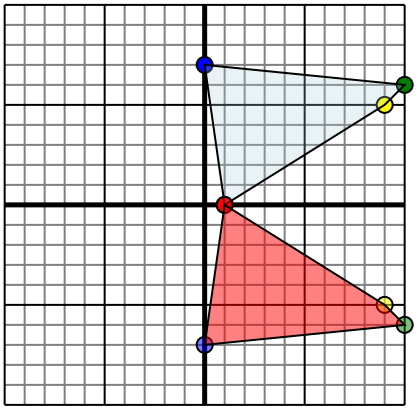

Die obige Figur hat die folgenden Koordinaten:

A. (1,0)

B. (9,5)

C. (10,6)

D. (0,7)

Spiegle die Figur an der X-Achse.

Antworten

1. -1.1 -7.0 -10.10 Graph
2. -1.3 -6.4 -10.10 0.8 Graph
3. 1.5 9.4 8.8 Graph
4. 1.0 9.-5 10.-6 0.-7 Graph

1-4	75	50	25	0