Löse jede Aufgabe.

Antworten

1. _____
2. _____
3. _____
4. _____
5. _____
6. _____

1) Which choice represents the un-shaded portion of the number wheel?

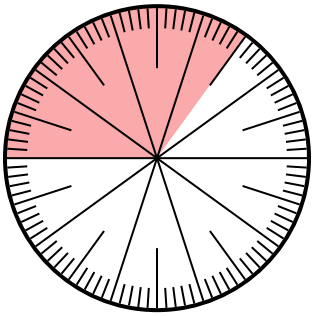

A. $^{65}/_{100}$ B. $^{6.5}/_{100}$

C. $^{35}/_{65}$ D. $^{6,50}/_{100}$

2) Welche Auswahl steht für den schattierten Teil des Zahlenrads?

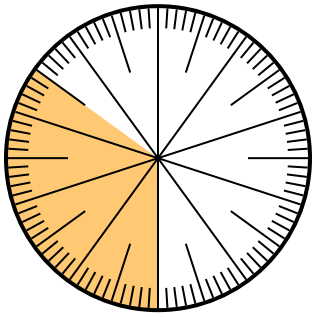

A. 3,50 B. 0,035

C. $^{3.5}/_{100}$ D. 0,35

3) Welche Auswahl steht für den schattierten Teil des Zahlenrads?

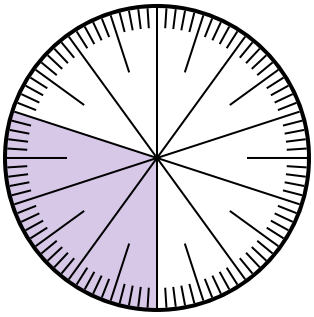

A. $^{30}/_{10}$ B. 0,3

C. 30,0 D. 3,0

4) Which choice represents the un-shaded portion of the number wheel?

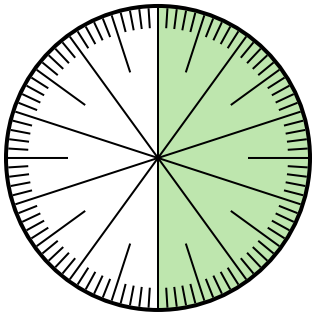

A. 0,50 B. $^{0.5}/_{100}$

C. 5 D. 50

5) Welche Auswahl steht für den schattierten Teil des Zahlenrads?

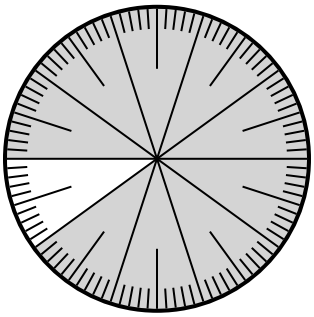

A. $^{90}/_{100}$ B. 0,090

C. 90 D. $^{9}/_{100}$

6) Welche Auswahl steht für den schattierten Teil des Zahlenrads?

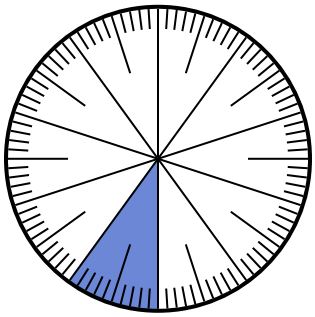

A. 0,10 B. 10

C. $^{0.1}/_{100}$ D. $^{1,00}/_{100}$

1-6	83	67	50	33	17	0

Löse jede Aufgabe.

1) Which choice represents the un-shaded portion of the number wheel?

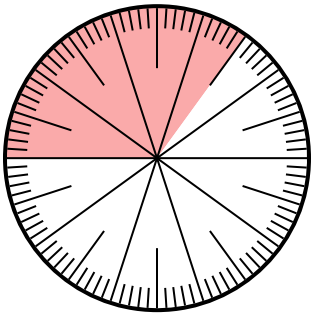

A. $^{65}/_{100}$ B. $^{6.5}/_{100}$

C. $^{35}/_{65}$ D. $^{6,50}/_{100}$

2) Welche Auswahl steht für den schattierten Teil des Zahlenrads?

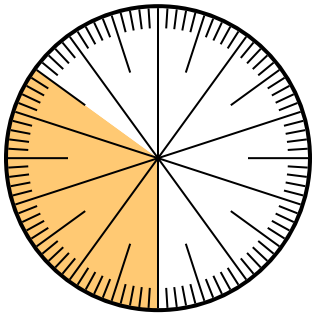

A. 3,50 B. 0,035

C. $^{3.5}/_{100}$ D. 0,35

3) Welche Auswahl steht für den schattierten Teil des Zahlenrads?

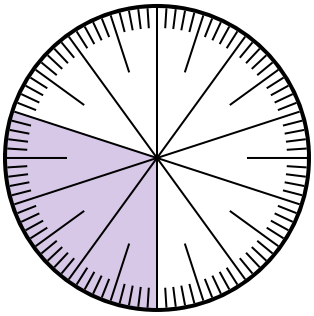

A. $^{30}/_{10}$ B. 0,3

C. 30,0 D. 3,0

4) Which choice represents the un-shaded portion of the number wheel?

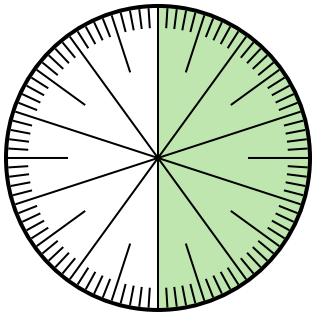

A. 0,50 B. $^{0.5}/_{100}$

C. 5 D. 50

5) Welche Auswahl steht für den schattierten Teil des Zahlenrads?

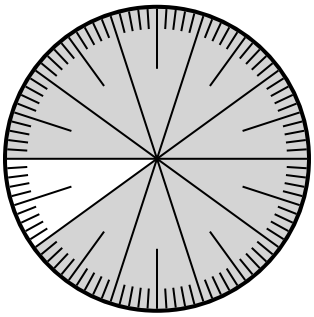

A. $^{90}/_{100}$ B. 0,090

C. 90 D. $^{9}/_{100}$

6) Welche Auswahl steht für den schattierten Teil des Zahlenrads?

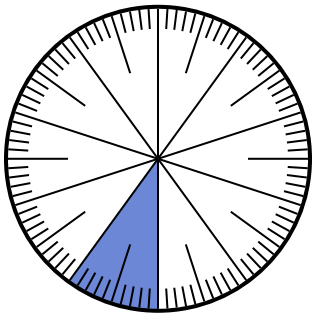

A. 0,10 B. 10

C. $^{0.1}/_{100}$ D. $^{1,00}/_{100}$

Antworten

1. A
2. D
3. B
4. A
5. A
6. A

1-6	83	67	50	33	17	0