# Bruchwert in Relation zum Ganzen

Name:

**Löse jede Aufgabe.**

**Bsp)** Drücke die Sterne als ein Bruchteil der ganzen Reihe aus.

**1)** Drücke die Kreise als ein Bruchteil der ganzen Reihe aus.

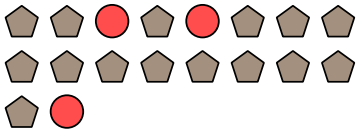

**2)** Drücke die Kreise als ein Bruchteil der ganzen Reihe aus.

**3)** Drücke die Dreiecke als ein Bruchteil der ganzen Reihe aus.



**4)** Drücke die Kreise als ein Bruchteil der ganzen Reihe aus.

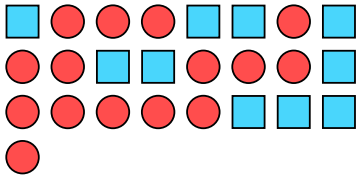

**5)** Drücke die hearts als ein Bruchteil der ganzen Reihe aus.

**6)** Drücke die Kreise als ein Bruchteil der ganzen Reihe aus.

**7)** Drücke die hearts als ein Bruchteil der ganzen Reihe aus.

**8)** Drücke die Fünfecke als ein Bruchteil der ganzen Reihe aus.

**9)** Drücke die Sterne als ein Bruchteil der ganzen Reihe aus.



**10)** Drücke die Rechtecke als ein Bruchteil der ganzen Reihe aus.



**11)** Drücke die Sterne als ein Bruchteil der ganzen Reihe aus.



## Antworten

Bsp. $\frac{6}{9}$

1. _____
2. _____
3. _____
4. _____
5. _____
6. _____
7. _____
8. _____
9. _____
10. _____
11. _____



| | | | | | | | | | | |
|---|---|---|---|---|---|---|---|---|---|---|
| 1-10 | 91 | 82 | 73 | 64 | 55 | 45 | 36 | 27 | 18 | 9 |
| 11 | 0 | | | | | | | | | |

# Bruchwert in Relation zum Ganzen

Name: **Lösungsschlüssel**

**Löse jede Aufgabe.**

**Bsp)** Drücke die Sterne als ein Bruchteil der ganzen Reihe aus.

**1)** Drücke die Kreise als ein Bruchteil der ganzen Reihe aus.

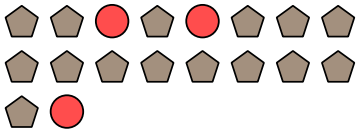

**2)** Drücke die Kreise als ein Bruchteil der ganzen Reihe aus.

**3)** Drücke die Dreiecke als ein Bruchteil der ganzen Reihe aus.



**4)** Drücke die Kreise als ein Bruchteil der ganzen Reihe aus.

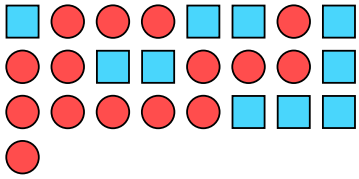

**5)** Drücke die hearts als ein Bruchteil der ganzen Reihe aus.

**6)** Drücke die Kreise als ein Bruchteil der ganzen Reihe aus.

**7)** Drücke die hearts als ein Bruchteil der ganzen Reihe aus.

**8)** Drücke die Fünfecke als ein Bruchteil der ganzen Reihe aus.

**9)** Drücke die Sterne als ein Bruchteil der ganzen Reihe aus.



**10)** Drücke die Rechtecke als ein Bruchteil der ganzen Reihe aus.



**11)** Drücke die Sterne als ein Bruchteil der ganzen Reihe aus.



## Antworten

| | |
|---|---|
| Bsp. | 6/9 |
| 1. | 3/18 |
| 2. | 4/9 |
| 3. | 4/17 |
| 4. | 15/25 |
| 5. | 2/15 |
| 6. | 3/7 |
| 7. | 5/11 |
| 8. | 5/9 |
| 9. | 5/20 |
| 10. | 8/23 |
| 11. | 13/19 |



| | | | | | | | | | | |
|---|---|---|---|---|---|---|---|---|---|---|
| 1-10 | 91 | 82 | 73 | 64 | 55 | 45 | 36 | 27 | 18 | 9 |
| 11 | 0 | | | | | | | | | |