Bruchwert in Relation zum Ganzen

Name:

Löse jede Aufgabe.

Bsp) Drücke die moons als ein Bruchteil der ganzen Reihe aus.

1) Drücke die Rechtecke als ein Bruchteil der ganzen Reihe aus.

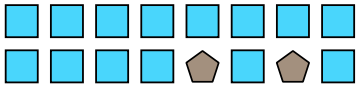

2) Drücke die Sterne als ein Bruchteil der ganzen Reihe aus.

3) Drücke die Sterne als ein Bruchteil der ganzen Reihe aus.



4) Drücke die moons als ein Bruchteil der ganzen Reihe aus.



5) Drücke die Rechtecke als ein Bruchteil der ganzen Reihe aus.

6) Drücke die Dreiecke als ein Bruchteil der ganzen Reihe aus.

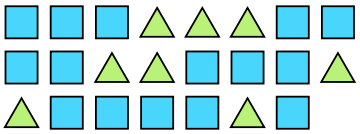

7) Drücke die Sterne als ein Bruchteil der ganzen Reihe aus.



8) Drücke die Sterne als ein Bruchteil der ganzen Reihe aus.

9) Drücke die Dreiecke als ein Bruchteil der ganzen Reihe aus.

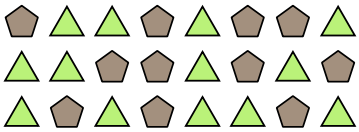

10) Drücke die Kreise als ein Bruchteil der ganzen Reihe aus.

11) Drücke die hearts als ein Bruchteil der ganzen Reihe aus.

Antworten

Bsp. $\frac{6}{8}$

1. _____
2. _____
3. _____
4. _____
5. _____
6. _____
7. _____
8. _____
9. _____
10. _____
11. _____

1-10	91	82	73	64	55	45	36	27	18	9
11	0									

Bruchwert in Relation zum Ganzen

Name: **Lösungsschlüssel**

Löse jede Aufgabe.

Bsp) Drücke die moons als ein Bruchteil der ganzen Reihe aus.

1) Drücke die Rechtecke als ein Bruchteil der ganzen Reihe aus.

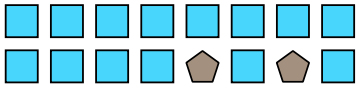

2) Drücke die Sterne als ein Bruchteil der ganzen Reihe aus.

3) Drücke die Sterne als ein Bruchteil der ganzen Reihe aus.



4) Drücke die moons als ein Bruchteil der ganzen Reihe aus.



5) Drücke die Rechtecke als ein Bruchteil der ganzen Reihe aus.

6) Drücke die Dreiecke als ein Bruchteil der ganzen Reihe aus.

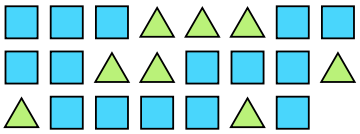

7) Drücke die Sterne als ein Bruchteil der ganzen Reihe aus.



8) Drücke die Sterne als ein Bruchteil der ganzen Reihe aus.

9) Drücke die Dreiecke als ein Bruchteil der ganzen Reihe aus.

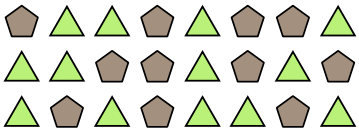

10) Drücke die Kreise als ein Bruchteil der ganzen Reihe aus.

11) Drücke die hearts als ein Bruchteil der ganzen Reihe aus.

Antworten

Bsp.	6/8
1.	14/16
2.	11/19
3.	13/25
4.	5/14
5.	4/7
6.	8/23
7.	9/24
8.	6/13
9.	13/24
10.	3/5
11.	3/12

1-10	91	82	73	64	55	45	36	27	18	9
11	0									