Division durch Brüche (visuell)

Name:

Löse jede Aufgabe indem du die Brüche markierst. Die erste Aufgabe ist bereits gelöst.

Bsp) $4 : \frac{1}{4}$ = ? Dies ist gleichbedeutend zu: Wie viele $\frac{1}{4}$ gibt es in 4 Ganzen?

1 Ganzes	1 Ganzes	1 Ganzes	1 Ganzes

1) $3 : \frac{1}{4}$ =

1 Ganzes	1 Ganzes	1 Ganzes

2) $4 : \frac{1}{7}$ =

1 Ganzes	1 Ganzes	1 Ganzes	1 Ganzes

3) $6 : \frac{1}{7}$ =

1 Ganzes	1 Ganzes	1 Ganzes	1 Ganzes	1 Ganzes	1 Ganzes

4) $5 : \frac{1}{7}$ =

1 Ganzes	1 Ganzes	1 Ganzes	1 Ganzes	1 Ganzes

5) $5 : \frac{1}{2}$ =

1 Ganzes	1 Ganzes	1 Ganzes	1 Ganzes	1 Ganzes

6) $3 : \frac{1}{3}$ =

1 Ganzes	1 Ganzes	1 Ganzes

7) $3 : \frac{1}{7}$ =

1 Ganzes	1 Ganzes	1 Ganzes

8) $5 : \frac{1}{5}$ =

1 Ganzes	1 Ganzes	1 Ganzes	1 Ganzes	1 Ganzes

9) $4 : \frac{1}{6}$ =

1 Ganzes	1 Ganzes	1 Ganzes	1 Ganzes

Antworten

Bsp. 16

1. _____
2. _____
3. _____
4. _____
5. _____
6. _____
7. _____
8. _____
9. _____

1-9	89	78	67	56	44	33	22	11	0

Division durch Brüche (visuell) Name: **Lösungsschlüssel**

Löse jede Aufgabe indem du die Brüche markierst. Die erste Aufgabe ist bereits gelöst.

Bsp) $4:\frac{1}{4}$ = ? Dies ist gleichbedeutend zu: Wie viele $\frac{1}{4}$ gibt es in 4 Ganzen?

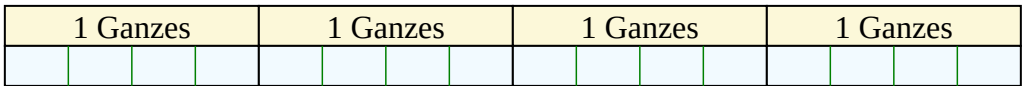

1) $3:\frac{1}{4}$ = Dies ist gleichbedeutend zu: Wie viele $\frac{1}{4}$ gibt es in 3 Ganzen?

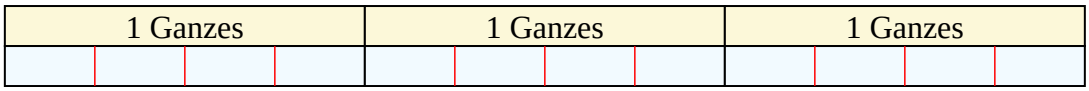

2) $4:\frac{1}{7}$ = Dies ist gleichbedeutend zu: Wie viele $\frac{1}{7}$ gibt es in 4 Ganzen?

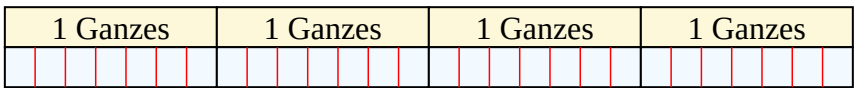

3) $6:\frac{1}{7}$ = Dies ist gleichbedeutend zu: Wie viele $\frac{1}{7}$ gibt es in 6 Ganzen?

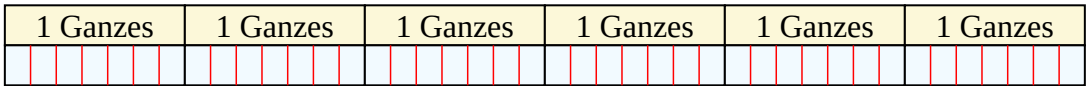

4) $5:\frac{1}{7}$ = Dies ist gleichbedeutend zu: Wie viele $\frac{1}{7}$ gibt es in 5 Ganzen?

5) $5:\frac{1}{2}$ = Dies ist gleichbedeutend zu: Wie viele $\frac{1}{2}$ gibt es in 5 Ganzen?

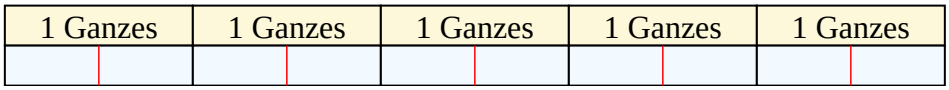

6) $3:\frac{1}{3}$ = Dies ist gleichbedeutend zu: Wie viele $\frac{1}{3}$ gibt es in 3 Ganzen?

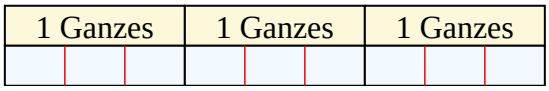

7) $3:\frac{1}{7}$ = Dies ist gleichbedeutend zu: Wie viele $\frac{1}{7}$ gibt es in 3 Ganzen?

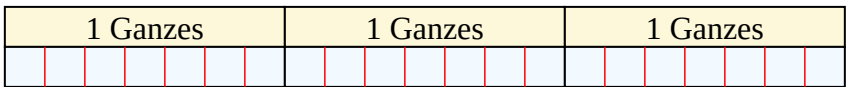

8) $5:\frac{1}{5}$ = Dies ist gleichbedeutend zu: Wie viele $\frac{1}{5}$ gibt es in 5 Ganzen?

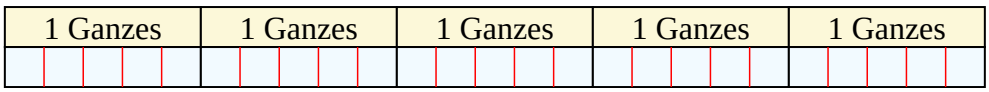

9) $4:\frac{1}{6}$ = Dies ist gleichbedeutend zu: Wie viele $\frac{1}{6}$ gibt es in 4 Ganzen?

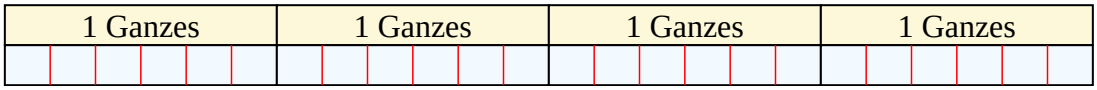

Antworten

Bsp.	16
1.	12
2.	28
3.	42
4.	35
5.	10
6.	9
7.	21
8.	25
9.	24

1-9	89	78	67	56	44	33	22	11	0