Division durch Brüche (visuell)

Name:

Löse jede Aufgabe indem du die Brüche markierst. Die erste Aufgabe ist bereits gelöst.

Bsp) $4:\frac{1}{5}$ = ? Dies ist gleichbedeutend zu: Wie viele $\frac{1}{5}$ gibt es in 4 Ganzen?

1 Ganzes	1 Ganzes	1 Ganzes	1 Ganzes

1) $3:\frac{1}{3}$ =

1 Ganzes	1 Ganzes	1 Ganzes

2) $5:\frac{1}{5}$ =

1 Ganzes	1 Ganzes	1 Ganzes	1 Ganzes	1 Ganzes

3) $3:\frac{1}{2}$ =

1 Ganzes	1 Ganzes	1 Ganzes

4) $6:\frac{1}{5}$ =

1 Ganzes	1 Ganzes	1 Ganzes	1 Ganzes	1 Ganzes	1 Ganzes

5) $2:\frac{1}{6}$ =

1 Ganzes	1 Ganzes

6) $4:\frac{1}{2}$ =

1 Ganzes	1 Ganzes	1 Ganzes	1 Ganzes

7) $2:\frac{1}{4}$ =

1 Ganzes	1 Ganzes

8) $6:\frac{1}{7}$ =

1 Ganzes	1 Ganzes	1 Ganzes	1 Ganzes	1 Ganzes	1 Ganzes

9) $3:\frac{1}{7}$ =

1 Ganzes	1 Ganzes	1 Ganzes

Antworten

Bsp. 20

1. _____
2. _____
3. _____
4. _____
5. _____
6. _____
7. _____
8. _____
9. _____

1-9	89	78	67	56	44	33	22	11	0

Division durch Brüche (visuell) Name: **Lösungsschlüssel**

Löse jede Aufgabe indem du die Brüche markierst. Die erste Aufgabe ist bereits gelöst.

Bsp) $4:\frac{1}{5}$ = ? Dies ist gleichbedeutend zu: Wie viele $\frac{1}{5}$ gibt es in 4 Ganzen?

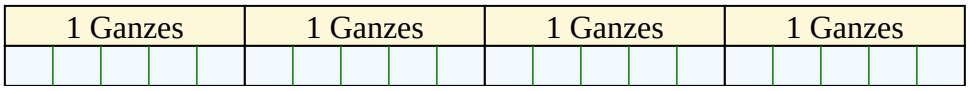

1) $3:\frac{1}{3}$ = Dies ist gleichbedeutend zu: Wie viele $\frac{1}{3}$ gibt es in 3 Ganzen?

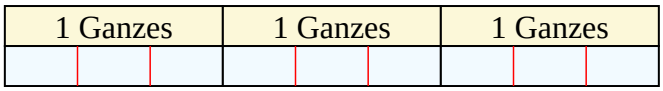

2) $5:\frac{1}{5}$ = Dies ist gleichbedeutend zu: Wie viele $\frac{1}{5}$ gibt es in 5 Ganzen?

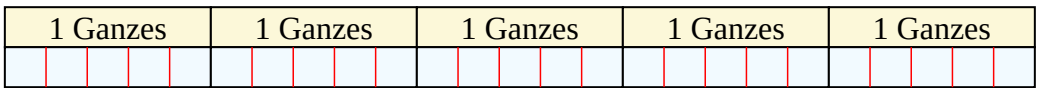

3) $3:\frac{1}{2}$ = Dies ist gleichbedeutend zu: Wie viele $\frac{1}{2}$ gibt es in 3 Ganzen?

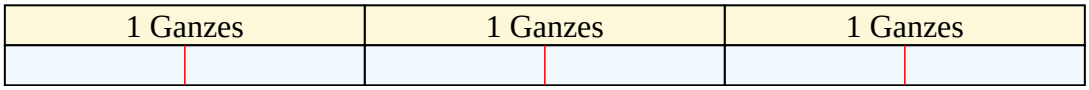

4) $6:\frac{1}{5}$ = Dies ist gleichbedeutend zu: Wie viele $\frac{1}{5}$ gibt es in 6 Ganzen?

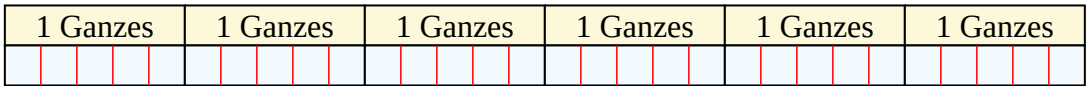

5) $2:\frac{1}{6}$ = Dies ist gleichbedeutend zu: Wie viele $\frac{1}{6}$ gibt es in 2 Ganzen?

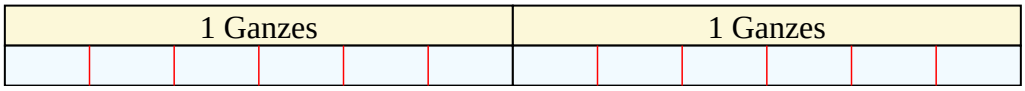

6) $4:\frac{1}{2}$ = Dies ist gleichbedeutend zu: Wie viele $\frac{1}{2}$ gibt es in 4 Ganzen?

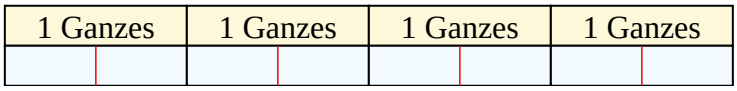

7) $2:\frac{1}{4}$ = Dies ist gleichbedeutend zu: Wie viele $\frac{1}{4}$ gibt es in 2 Ganzen?

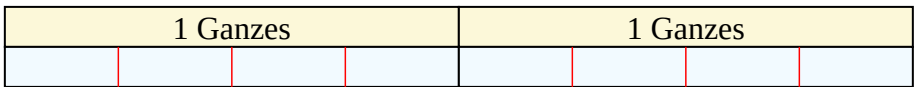

8) $6:\frac{1}{7}$ = Dies ist gleichbedeutend zu: Wie viele $\frac{1}{7}$ gibt es in 6 Ganzen?

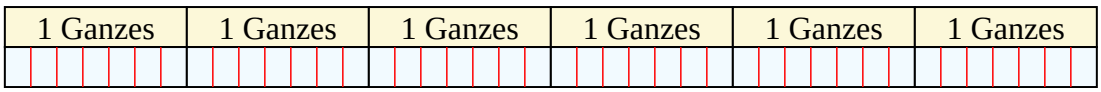

9) $3:\frac{1}{7}$ = Dies ist gleichbedeutend zu: Wie viele $\frac{1}{7}$ gibt es in 3 Ganzen?

Antworten

Bsp.	20
1.	9
2.	25
3.	6
4.	30
5.	12
6.	8
7.	8
8.	42
9.	21

1-9	89	78	67	56	44	33	22	11	0