Brüche visuell darstellen

Name:

Stelle fest, welche Wahlmöglichkeit die Frage beantwortet.

1) Welche der unten stehenden Figuren ist so schattiert, dass sie $^{3}/_{8}$ darstellt?

A.
B.
C. 
D. 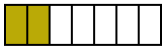

2) Welche der unten stehenden Figuren ist so schattiert, dass sie $^{2}/_{6}$ darstellt?

A.
B. 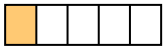
C.
D. 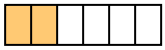

3) Welche der unten stehenden Figuren ist so schattiert, dass sie $^{6}/_{10}$ darstellt?

A.
B.
C.
D.

4) Welche der unten stehenden Figuren ist so schattiert, dass sie $^{4}/_{6}$ darstellt?

A.
B.
C. 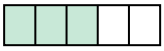
D.

5) Welche der unten stehenden Figuren ist so schattiert, dass sie $^{6}/_{8}$ darstellt?

A.
B.
C.
D.

6) Welche der unten stehenden Figuren ist so schattiert, dass sie $^{4}/_{8}$ darstellt?

A.
B.
C.
D.

7) Welche der unten stehenden Figuren ist so schattiert, dass sie $^{4}/_{10}$ darstellt?

A.
B.
C.
D.

8) Welche der unten stehenden Figuren ist so schattiert, dass sie $^{5}/_{8}$ darstellt?

A.
B.
C.
D.

9) Welche der unten stehenden Figuren ist so schattiert, dass sie $^{2}/_{7}$ darstellt?

A. B. C. D.

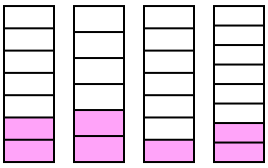

10) Welche der unten stehenden Figuren ist so schattiert, dass sie $^{8}/_{10}$ darstellt?

A. B. C. D.

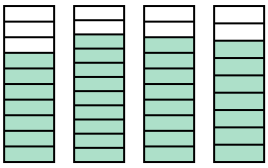

Antworten

1. _____
2. _____
3. _____
4. _____
5. _____
6. _____
7. _____
8. _____
9. _____
10. _____

1-10	90	80	70	60	50	40	30	20	10	0

Stelle fest, welche Wahlmöglichkeit die Frage beantwortet.

1) Welche der unten stehenden Figuren ist so schattiert, dass sie $^{3}/_{8}$ darstellt?

A. 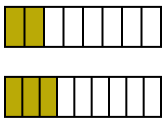
B.
C.
D. 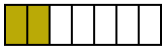

2) Welche der unten stehenden Figuren ist so schattiert, dass sie $^{2}/_{6}$ darstellt?

A.
B. 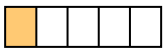
C.
D. 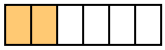

3) Welche der unten stehenden Figuren ist so schattiert, dass sie $^{6}/_{10}$ darstellt?

A.
B.
C.
D.

4) Welche der unten stehenden Figuren ist so schattiert, dass sie $^{4}/_{6}$ darstellt?

A.
B.
C. 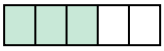
D.

5) Welche der unten stehenden Figuren ist so schattiert, dass sie $^{6}/_{8}$ darstellt?

A.
B.
C.
D.

6) Welche der unten stehenden Figuren ist so schattiert, dass sie $^{4}/_{8}$ darstellt?

A.
B.
C.
D.

7) Welche der unten stehenden Figuren ist so schattiert, dass sie $^{4}/_{10}$ darstellt?

A.
B.
C.
D.

8) Welche der unten stehenden Figuren ist so schattiert, dass sie $^{5}/_{8}$ darstellt?

A.
B.
C.
D.

9) Welche der unten stehenden Figuren ist so schattiert, dass sie $^{2}/_{7}$ darstellt?

A. B. C. D.

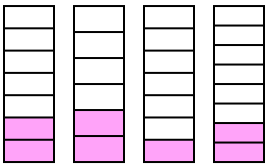

10) Welche der unten stehenden Figuren ist so schattiert, dass sie $^{8}/_{10}$ darstellt?

A. B. C. D.

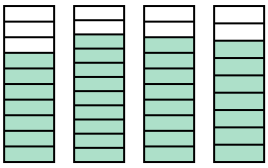

Antworten

1. B
2. D
3. A
4. B
5. C
6. D
7. A
8. A
9. A
10. C

1-10	90	80	70	60	50	40	30	20	10	0