Thermometer den Temperaturen zuordnen

Name:

Bestimme, welcher Buchstabe die Frage richtig beantwortet.

1) Welcher Thermometer zeigt die Temperatur von 92° richtig an?

2) Welcher Thermometer zeigt die Temperatur von 84° richtig an?

3) Welcher Thermometer zeigt die Temperatur von 56° richtig an?

4) Welcher Thermometer zeigt die Temperatur von 110° richtig an?

5) Welcher Thermometer zeigt die Temperatur von 13° richtig an?

6) Welcher Thermometer zeigt die Temperatur von 39° richtig an?

7) Welcher Thermometer zeigt die Temperatur von 3° richtig an?

8) Welcher Thermometer zeigt die Temperatur von 44° richtig an?

9) Welcher Thermometer zeigt die Temperatur von 74° richtig an?

10) Welcher Thermometer zeigt die Temperatur von 103° richtig an?

A.

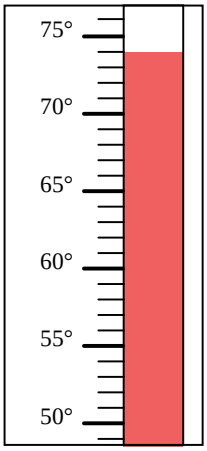

B.

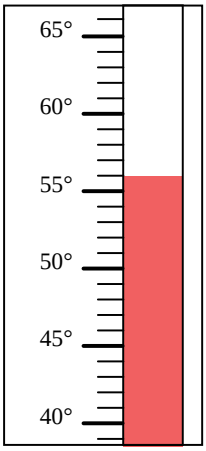

C.

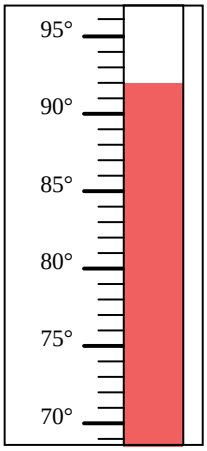

D.

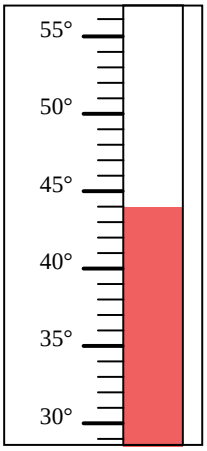

E.

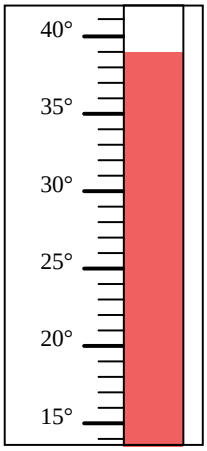

F.

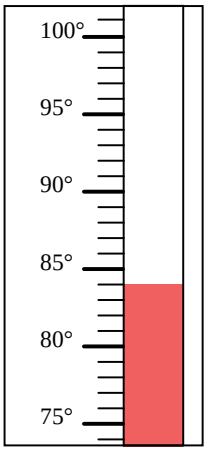

G.

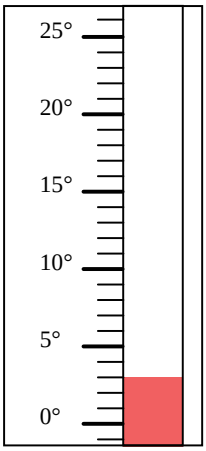

H.

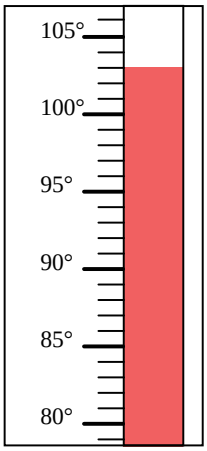

I.

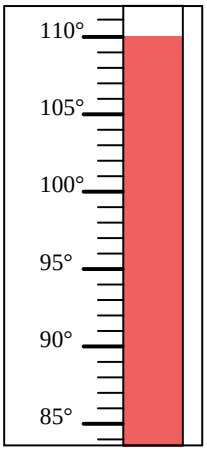

J.

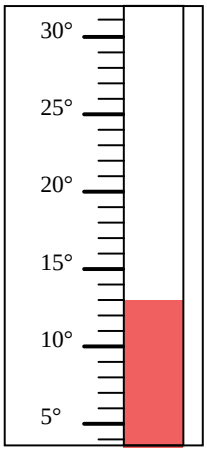

Antworten

1. _____
2. _____
3. _____
4. _____
5. _____
6. _____
7. _____
8. _____
9. _____
10. _____

1-10	90	80	70	60	50	40	30	20	10	0

Thermometer den Temperaturen zuordnen

Name: **Lösungsschlüssel**

Bestimme, welcher Buchstabe die Frage richtig beantwortet.

1) Welcher Thermometer zeigt die Temperatur von 92° richtig an?

2) Welcher Thermometer zeigt die Temperatur von 84° richtig an?

3) Welcher Thermometer zeigt die Temperatur von 56° richtig an?

4) Welcher Thermometer zeigt die Temperatur von 110° richtig an?

5) Welcher Thermometer zeigt die Temperatur von 13° richtig an?

6) Welcher Thermometer zeigt die Temperatur von 39° richtig an?

7) Welcher Thermometer zeigt die Temperatur von 3° richtig an?

8) Welcher Thermometer zeigt die Temperatur von 44° richtig an?

9) Welcher Thermometer zeigt die Temperatur von 74° richtig an?

10) Welcher Thermometer zeigt die Temperatur von 103° richtig an?

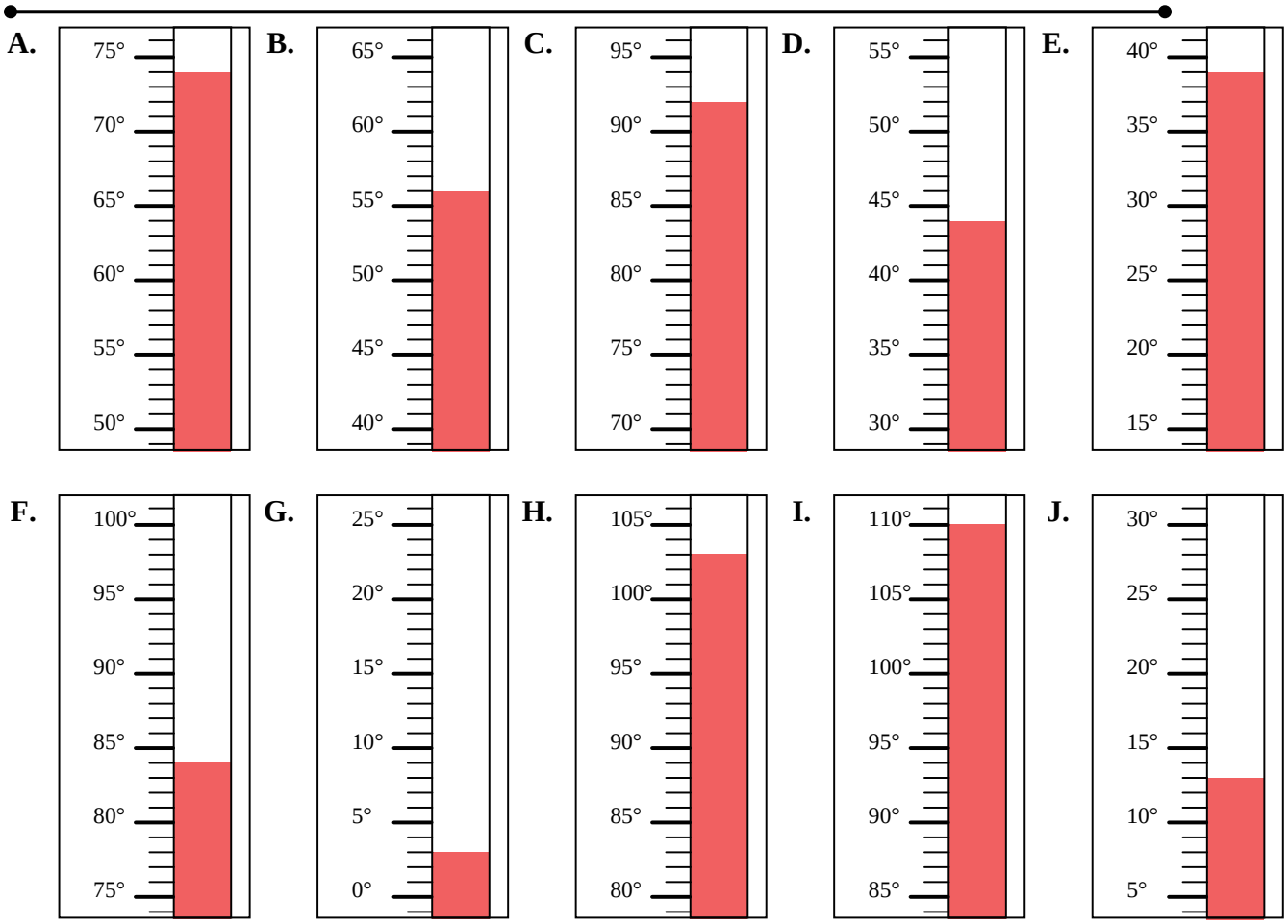

Antworten

1. **C**
2. **F**
3. **B**
4. **I**
5. **J**
6. **E**
7. **G**
8. **D**
9. **A**
10. **H**

1-10	90	80	70	60	50	40	30	20	10	0