Visuell subtrahieren

Name:

Verwende die visuelle Methode um jede Aufgabe zu lösen.

1) Es gibt 6 Sechsecke unten.

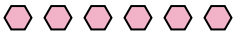

Wenn du 1 wegnehmen müsstest, wie viele wären noch übrig?
6 - 1 = ?

2) Es gibt 9 Rechtecke unten.

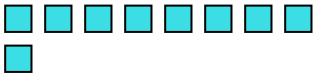

Wenn du 7 wegnehmen müsstest, wie viele wären noch übrig?
9 - 7 = ?

3) Es gibt 2 Kreise unten.

Wenn du 1 wegnehmen müsstest, wie viele wären noch übrig?
2 - 1 = ?

4) Es gibt 18 Dreiecke unten.

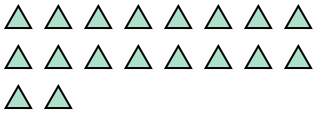

Wenn du 5 wegnehmen müsstest, wie viele wären noch übrig?
18 - 5 = ?

5) Es gibt 5 Vierecke unten.

Wenn du 4 wegnehmen müsstest, wie viele wären noch übrig?
5 - 4 = ?

6) Es gibt 3 Sterne unten.

Wenn du 1 wegnehmen müsstest, wie viele wären noch übrig?
3 - 1 = ?

7) Es gibt 20 Rechtecke unten.



Wenn du 16 wegnehmen müsstest, wie viele wären noch übrig?
20 - 16 = ?

8) Es gibt 6 Sechsecke unten.

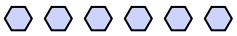

Wenn du 4 wegnehmen müsstest, wie viele wären noch übrig?
6 - 4 = ?

9) Es gibt 17 Kreise unten.

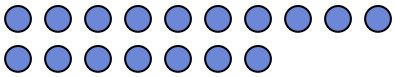

Wenn du 10 wegnehmen müsstest, wie viele wären noch übrig?
17 - 10 = ?

10) Es gibt 7 Vierecke unten.

Wenn du 6 wegnehmen müsstest, wie viele wären noch übrig?
7 - 6 = ?

Antworten

1. _____
2. _____
3. _____
4. _____
5. _____
6. _____
7. _____
8. _____
9. _____
10. _____

1-10	90	80	70	60	50	40	30	20	10	0

Visuell subtrahieren

Name: **Lösungsschlüssel**

Verwende die visuelle Methode um jede Aufgabe zu lösen.

1) Es gibt 6 Sechsecke unten.

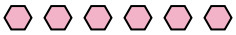

Wenn du 1 wegnehmen müsstest, wie viele wären noch übrig?
6 - 1 = ?

2) Es gibt 9 Rechtecke unten.

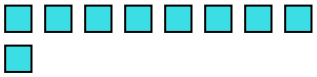

Wenn du 7 wegnehmen müsstest, wie viele wären noch übrig?
9 - 7 = ?

3) Es gibt 2 Kreise unten.

Wenn du 1 wegnehmen müsstest, wie viele wären noch übrig?
2 - 1 = ?

4) Es gibt 18 Dreiecke unten.

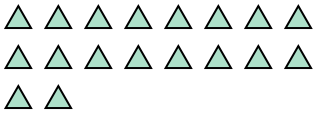

Wenn du 5 wegnehmen müsstest, wie viele wären noch übrig?
18 - 5 = ?

5) Es gibt 5 Vierecke unten.

Wenn du 4 wegnehmen müsstest, wie viele wären noch übrig?
5 - 4 = ?

6) Es gibt 3 Sterne unten.

Wenn du 1 wegnehmen müsstest, wie viele wären noch übrig?
3 - 1 = ?

7) Es gibt 20 Rechtecke unten.



Wenn du 16 wegnehmen müsstest, wie viele wären noch übrig?
20 - 16 = ?

8) Es gibt 6 Sechsecke unten.

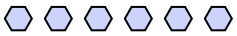

Wenn du 4 wegnehmen müsstest, wie viele wären noch übrig?
6 - 4 = ?

9) Es gibt 17 Kreise unten.

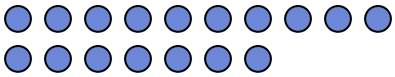

Wenn du 10 wegnehmen müsstest, wie viele wären noch übrig?
17 - 10 = ?

10) Es gibt 7 Vierecke unten.

Wenn du 6 wegnehmen müsstest, wie viele wären noch übrig?
7 - 6 = ?

Antworten

1. 5
2. 2
3. 1
4. 13
5. 1
6. 2
7. 4
8. 2
9. 7
10. 1

1-10	90	80	70	60	50	40	30	20	10	0