Grundwahrscheinlichkeit Name:

Verwenden Sie jedes Diagramm, um die Probleme zu lösen.

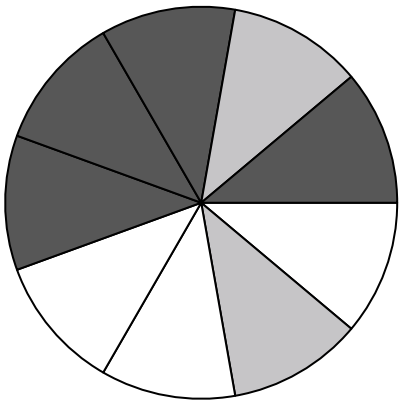

1) Wenn Sie den Spinner 1 Mal drehen, wie groß ist die Wahrscheinlichkeit, dass er auf einem schwarzen Stein landet?

2) Wenn Sie den Spinner 1 Mal drehen, wie groß ist die Wahrscheinlichkeit, auf einem black-Stück oder einem white-Stück zu landen?

3) Wenn Sie den Spinner 1 Mal drehen, wie groß ist die Wahrscheinlichkeit, dass er auf einem grauen Stück landet?

4) Wenn Sie den Spinner 1 Mal drehen, wie groß ist die Wahrscheinlichkeit, dass er auf einem weißen Stein landet?

5) Wie viele Teile befinden sich insgesamt im Spinner?

6) Wenn Sie einmal würfeln würden, wie hoch ist die Wahrscheinlichkeit, dass es {NICHT} auf einem 1 landet?



7) Wenn Sie einmal würfeln würden, wie hoch ist die Wahrscheinlichkeit, dass er auf einem 4 landet?

8) Wenn Sie einmal würfeln würden, wie groß ist die Wahrscheinlichkeit, dass er auf einer ungerade-Zahl landet?



9) Welche Form hat eine Wahrscheinlichkeit von 40,00 % (8 von 20), ausgewählt zu werden?

10) Wenn Sie zufällig 1 Form aus dem Array auswählen würden, welche Form haben Sie dann mit der größten Wahrscheinlichkeit auszuwählen?

11) Wenn Sie zufällig 1 Form aus dem Array auswählen würden, wie hoch ist die Wahrscheinlichkeit, dass es ein diamond ist?

12) Wie viele Formen gibt es insgesamt im Array?

Antworten

1. _____
2. _____
3. _____
4. _____
5. _____
6. _____
7. _____
8. _____
9. _____
10. _____
11. _____
12. _____

1-10	92	83	75	67	58	50	42	33	25	17
11-12	8	0								

Grundwahrscheinlichkeit Name: **Lösungsschlüssel**

Verwenden Sie jedes Diagramm, um die Probleme zu lösen.

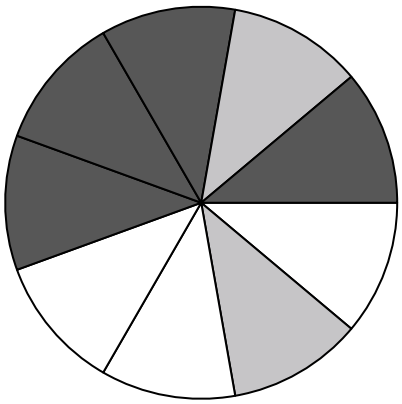

1) Wenn Sie den Spinner 1 Mal drehen, wie groß ist die Wahrscheinlichkeit, dass er auf einem schwarzen Stein landet?

2) Wenn Sie den Spinner 1 Mal drehen, wie groß ist die Wahrscheinlichkeit, auf einem black-Stück oder einem white-Stück zu landen?

3) Wenn Sie den Spinner 1 Mal drehen, wie groß ist die Wahrscheinlichkeit, dass er auf einem grauen Stück landet?

4) Wenn Sie den Spinner 1 Mal drehen, wie groß ist die Wahrscheinlichkeit, dass er auf einem weißen Stein landet?

5) Wie viele Teile befinden sich insgesamt im Spinner?

6) Wenn Sie einmal würfeln würden, wie hoch ist die Wahrscheinlichkeit, dass es {NICHT} auf einem 1 landet?



7) Wenn Sie einmal würfeln würden, wie hoch ist die Wahrscheinlichkeit, dass er auf einem 4 landet?

8) Wenn Sie einmal würfeln würden, wie groß ist die Wahrscheinlichkeit, dass er auf einer ungerade-Zahl landet?



9) Welche Form hat eine Wahrscheinlichkeit von 40,00 % (8 von 20), ausgewählt zu werden?

10) Wenn Sie zufällig 1 Form aus dem Array auswählen würden, welche Form haben Sie dann mit der größten Wahrscheinlichkeit auszuwählen?

11) Wenn Sie zufällig 1 Form aus dem Array auswählen würden, wie hoch ist die Wahrscheinlichkeit, dass es ein diamond ist?

12) Wie viele Formen gibt es insgesamt im Array?

Antworten

1. **4 von 9**
2. **7 von 9**
3. **2 von 9**
4. **3 von 9**
5. **9**
6. **5 von 6**
7. **1 von 6**
8. **3 von 6**
9. **star**
10. **circle**
11. **11 von 20**
12. **20**

1-10	92	83	75	67	58	50	42	33	25	17
11-12	8	0								

Verwenden Sie jedes Diagramm, um die Probleme zu lösen.

1) Wenn Sie einmal würfeln würden, wie hoch ist die Wahrscheinlichkeit, dass er auf einem 3 landet?

2) Wenn Sie einmal würfeln würden, wie hoch ist die Wahrscheinlichkeit, dass es {NICHT} auf einem 1 landet?

3) Wenn Sie einmal würfeln würden, wie groß ist die Wahrscheinlichkeit, dass er auf einer ungerade-Zahl landet?



4) Welche Form hat eine Wahrscheinlichkeit von 40,00 % (8 von 20), ausgewählt zu werden?

5) Wie viele Formen gibt es insgesamt im Array?

6) Wenn Sie zufällig 1 Form aus dem Array auswählen würden, welche Form haben Sie dann mit der größten Wahrscheinlichkeit auszuwählen?

7) Wenn Sie zufällig 1 Form aus dem Array auswählen würden, wie hoch ist die Wahrscheinlichkeit, dass es ein diamond ist?

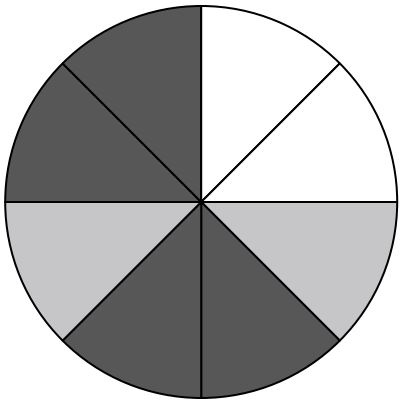

8) Wenn Sie den Spinner 1 Mal drehen, wie groß ist die Wahrscheinlichkeit, dass er auf einem weißen Stein landet?

9) Wenn Sie den Spinner 1 Mal drehen, wie groß ist die Wahrscheinlichkeit, dass er auf einem schwarzen Stein landet?

10) Wenn Sie den Spinner 1 Mal drehen, wie groß ist die Wahrscheinlichkeit, dass er auf einem grauen Stück landet?

11) Wie viele Teile befinden sich insgesamt im Spinner?

12) Wenn Sie den Spinner 1 Mal drehen, wie groß ist die Wahrscheinlichkeit, auf einem white-Stück oder einem gray-Stück zu landen?

Antworten

1. _____
2. _____
3. _____
4. _____
5. _____
6. _____
7. _____
8. _____
9. _____
10. _____
11. _____
12. _____

1-10	92	83	75	67	58	50	42	33	25	17
11-12	8	0								

Verwenden Sie jedes Diagramm, um die Probleme zu lösen.

1) Wenn Sie einmal würfeln würden, wie hoch ist die Wahrscheinlichkeit, dass er auf einem 3 landet?

2) Wenn Sie einmal würfeln würden, wie hoch ist die Wahrscheinlichkeit, dass es {NICHT} auf einem 1 landet?

3) Wenn Sie einmal würfeln würden, wie groß ist die Wahrscheinlichkeit, dass er auf einer ungerade-Zahl landet?

---

4) Welche Form hat eine Wahrscheinlichkeit von 40,00 % (8 von 20), ausgewählt zu werden?



5) Wie viele Formen gibt es insgesamt im Array?

6) Wenn Sie zufällig 1 Form aus dem Array auswählen würden, welche Form haben Sie dann mit der größten Wahrscheinlichkeit auszuwählen?

7) Wenn Sie zufällig 1 Form aus dem Array auswählen würden, wie hoch ist die Wahrscheinlichkeit, dass es ein diamond ist?

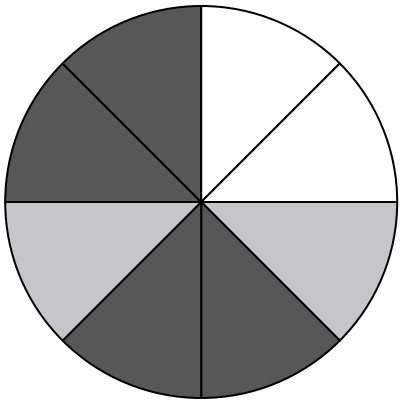

8) Wenn Sie den Spinner 1 Mal drehen, wie groß ist die Wahrscheinlichkeit, dass er auf einem weißen Stein landet?

9) Wenn Sie den Spinner 1 Mal drehen, wie groß ist die Wahrscheinlichkeit, dass er auf einem schwarzen Stein landet?

10) Wenn Sie den Spinner 1 Mal drehen, wie groß ist die Wahrscheinlichkeit, dass er auf einem grauen Stück landet?

11) Wie viele Teile befinden sich insgesamt im Spinner?

12) Wenn Sie den Spinner 1 Mal drehen, wie groß ist die Wahrscheinlichkeit, auf einem white-Stück oder einem gray-Stück zu landen?

Antworten

1. **1 von 6**
2. **5 von 6**
3. **3 von 6**
4. **circle**
5. **20**
6. **diamond**
7. **6 von 20**
8. **2 von 8**
9. **4 von 8**
10. **2 von 8**
11. **8**
12. **4 von 8**

1-10	92	83	75	67	58	50	42	33	25	17
11-12	8	0								

Grundwahrscheinlichkeit Name:

Verwenden Sie jedes Diagramm, um die Probleme zu lösen.



1) Wenn Sie zufällig 1 Form aus dem Array auswählen würden, wie hoch ist die Wahrscheinlichkeit, dass es ein star ist?

2) Welche Form hat eine Wahrscheinlichkeit von 43,75 % (7 von 16), ausgewählt zu werden?

3) Wenn Sie zufällig 1 Form aus dem Array auswählen würden, welche Form haben Sie dann mit der größten Wahrscheinlichkeit auszuwählen?

4) Wie viele Formen gibt es insgesamt im Array?

5) Wenn Sie einmal würfeln würden, wie hoch ist die Wahrscheinlichkeit, dass er auf einem 2 landet?



6) Wenn Sie einmal würfeln würden, wie hoch ist die Wahrscheinlichkeit, dass es {NICHT} auf einem 1 landet?

7) Wenn Sie einmal würfeln würden, wie groß ist die Wahrscheinlichkeit, dass er auf einer ungerade-Zahl landet?

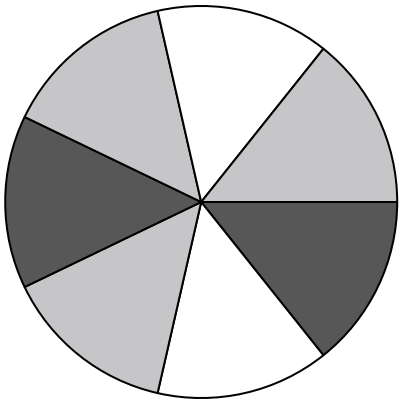

8) Wenn Sie den Spinner 1 Mal drehen, wie groß ist die Wahrscheinlichkeit, dass er auf einem weißen Stein landet?

9) Wie viele Teile befinden sich insgesamt im Spinner?

10) Wenn Sie den Spinner 1 Mal drehen, wie groß ist die Wahrscheinlichkeit, auf einem white-Stück oder einem black-Stück zu landen?

11) Wenn Sie den Spinner 1 Mal drehen, wie groß ist die Wahrscheinlichkeit, dass er auf einem schwarzen Stein landet?

12) Wenn Sie den Spinner 1 Mal drehen, wie groß ist die Wahrscheinlichkeit, dass er auf einem grauen Stück landet?

Antworten

1. _____
2. _____
3. _____
4. _____
5. _____
6. _____
7. _____
8. _____
9. _____
10. _____
11. _____
12. _____

1-10	92	83	75	67	58	50	42	33	25	17
11-12	8	0								

Verwenden Sie jedes Diagramm, um die Probleme zu lösen.



1) Wenn Sie zufällig 1 Form aus dem Array auswählen würden, wie hoch ist die Wahrscheinlichkeit, dass es ein star ist?

2) Welche Form hat eine Wahrscheinlichkeit von 43,75 % (7 von 16), ausgewählt zu werden?

3) Wenn Sie zufällig 1 Form aus dem Array auswählen würden, welche Form haben Sie dann mit der größten Wahrscheinlichkeit auszuwählen?

4) Wie viele Formen gibt es insgesamt im Array?

5) Wenn Sie einmal würfeln würden, wie hoch ist die Wahrscheinlichkeit, dass er auf einem 2 landet?



6) Wenn Sie einmal würfeln würden, wie hoch ist die Wahrscheinlichkeit, dass es {NICHT} auf einem 1 landet?

7) Wenn Sie einmal würfeln würden, wie groß ist die Wahrscheinlichkeit, dass er auf einer ungerade-Zahl landet?

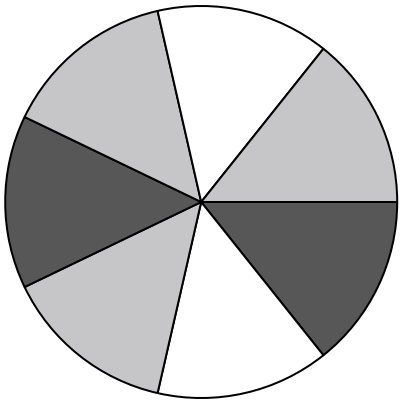

8) Wenn Sie den Spinner 1 Mal drehen, wie groß ist die Wahrscheinlichkeit, dass er auf einem weißen Stein landet?

9) Wie viele Teile befinden sich insgesamt im Spinner?

10) Wenn Sie den Spinner 1 Mal drehen, wie groß ist die Wahrscheinlichkeit, auf einem white-Stück oder einem black-Stück zu landen?

11) Wenn Sie den Spinner 1 Mal drehen, wie groß ist die Wahrscheinlichkeit, dass er auf einem schwarzen Stein landet?

12) Wenn Sie den Spinner 1 Mal drehen, wie groß ist die Wahrscheinlichkeit, dass er auf einem grauen Stück landet?

Antworten

1. **5 von 16**
2. **heart**
3. **circle**
4. **16**
5. **1 von 6**
6. **5 von 6**
7. **3 von 6**
8. **2 von 7**
9. **7**
10. **4 von 7**
11. **2 von 7**
12. **3 von 7**

1-10	92	83	75	67	58	50	42	33	25	17
11-12	8	0								

Grundwahrscheinlichkeit Name:

Verwenden Sie jedes Diagramm, um die Probleme zu lösen.



1) Welche Form hat eine Wahrscheinlichkeit von 40,00 % (8 von 20), ausgewählt zu werden?

2) Wenn Sie zufällig 1 Form aus dem Array auswählen würden, welche Form haben Sie dann mit der größten Wahrscheinlichkeit auszuwählen?

3) Wie viele Formen gibt es insgesamt im Array?

4) Wenn Sie zufällig 1 Form aus dem Array auswählen würden, wie hoch ist die Wahrscheinlichkeit, dass es ein circle ist?

5) Wenn Sie einmal würfeln würden, wie hoch ist die Wahrscheinlichkeit, dass er auf einem 5 landet?



6) Wenn Sie einmal würfeln würden, wie groß ist die Wahrscheinlichkeit, dass er auf einer ungerade-Zahl landet?

7) Wenn Sie einmal würfeln würden, wie hoch ist die Wahrscheinlichkeit, dass es {NICHT} auf einem 1 landet?

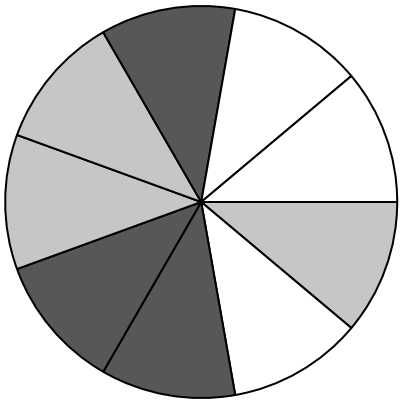

8) Wenn Sie den Spinner 1 Mal drehen, wie groß ist die Wahrscheinlichkeit, auf einem gray-Stück oder einem white-Stück zu landen?

9) Wenn Sie den Spinner 1 Mal drehen, wie groß ist die Wahrscheinlichkeit, dass er auf einem weißen Stein landet?

10) Wenn Sie den Spinner 1 Mal drehen, wie groß ist die Wahrscheinlichkeit, dass er auf einem grauen Stück landet?

11) Wenn Sie den Spinner 1 Mal drehen, wie groß ist die Wahrscheinlichkeit, dass er auf einem schwarzen Stein landet?

12) Wie viele Teile befinden sich insgesamt im Spinner?

Antworten

1. _____
2. _____
3. _____
4. _____
5. _____
6. _____
7. _____
8. _____
9. _____
10. _____
11. _____
12. _____

1-10	92	83	75	67	58	50	42	33	25	17
11-12	8	0								

Grundwahrscheinlichkeit Name: **Lösungsschlüssel**

Verwenden Sie jedes Diagramm, um die Probleme zu lösen.



1) Welche Form hat eine Wahrscheinlichkeit von 40,00 % (8 von 20), ausgewählt zu werden?

2) Wenn Sie zufällig 1 Form aus dem Array auswählen würden, welche Form haben Sie dann mit der größten Wahrscheinlichkeit auszuwählen?

3) Wie viele Formen gibt es insgesamt im Array?

4) Wenn Sie zufällig 1 Form aus dem Array auswählen würden, wie hoch ist die Wahrscheinlichkeit, dass es ein circle ist?

5) Wenn Sie einmal würfeln würden, wie hoch ist die Wahrscheinlichkeit, dass er auf einem 5 landet?



6) Wenn Sie einmal würfeln würden, wie groß ist die Wahrscheinlichkeit, dass er auf einer ungerade-Zahl landet?

7) Wenn Sie einmal würfeln würden, wie hoch ist die Wahrscheinlichkeit, dass es {NICHT} auf einem 1 landet?

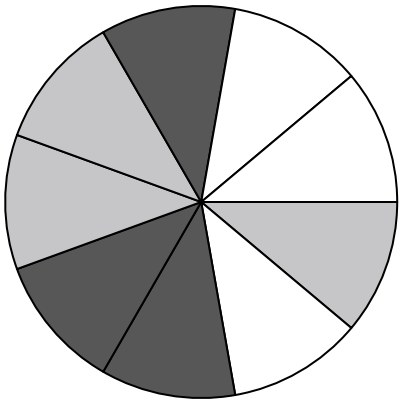

8) Wenn Sie den Spinner 1 Mal drehen, wie groß ist die Wahrscheinlichkeit, auf einem gray-Stück oder einem white-Stück zu landen?

9) Wenn Sie den Spinner 1 Mal drehen, wie groß ist die Wahrscheinlichkeit, dass er auf einem weißen Stein landet?

10) Wenn Sie den Spinner 1 Mal drehen, wie groß ist die Wahrscheinlichkeit, dass er auf einem grauen Stück landet?

11) Wenn Sie den Spinner 1 Mal drehen, wie groß ist die Wahrscheinlichkeit, dass er auf einem schwarzen Stein landet?

12) Wie viele Teile befinden sich insgesamt im Spinner?

Antworten

1. **star**
2. **circle**
3. **20**
4. **5 von 20**
5. **1 von 6**
6. **3 von 6**
7. **5 von 6**
8. **6 von 9**
9. **3 von 9**
10. **3 von 9**
11. **3 von 9**
12. **9**

1-10	92	83	75	67	58	50	42	33	25	17
11-12	8	0								

Verwenden Sie jedes Diagramm, um die Probleme zu lösen.

1) Wenn Sie einmal würfeln würden, wie hoch ist die Wahrscheinlichkeit, dass es {NICHT} auf einem 1 landet?

2) Wenn Sie einmal würfeln würden, wie groß ist die Wahrscheinlichkeit, dass er auf einer gerade-Zahl landet?

3) Wenn Sie einmal würfeln würden, wie hoch ist die Wahrscheinlichkeit, dass er auf einem 4 landet?

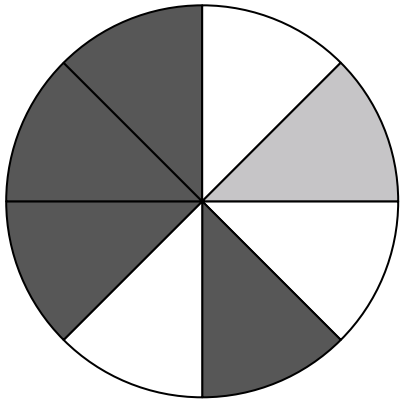

4) Wenn Sie den Spinner 1 Mal drehen, wie groß ist die Wahrscheinlichkeit, dass er auf einem grauen Stück landet?

5) Wenn Sie den Spinner 1 Mal drehen, wie groß ist die Wahrscheinlichkeit, dass er auf einem weißen Stein landet?

6) Wie viele Teile befinden sich insgesamt im Spinner?

7) Wenn Sie den Spinner 1 Mal drehen, wie groß ist die Wahrscheinlichkeit, auf einem gray-Stück oder einem white-Stück zu landen?

8) Wenn Sie den Spinner 1 Mal drehen, wie groß ist die Wahrscheinlichkeit, dass er auf einem schwarzen Stein landet?

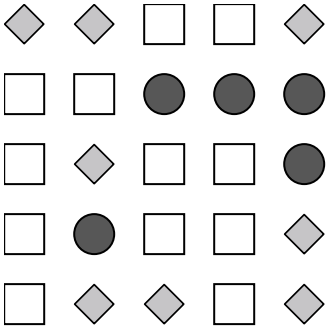

9) Welche Form hat eine Wahrscheinlichkeit von 32,00 % (8 von 25), ausgewählt zu werden?

10) Wenn Sie zufällig 1 Form aus dem Array auswählen würden, wie hoch ist die Wahrscheinlichkeit, dass es ein circle ist?

11) Wie viele Formen gibt es insgesamt im Array?

12) Wenn Sie zufällig 1 Form aus dem Array auswählen würden, welche Form haben Sie dann mit der größten Wahrscheinlichkeit auszuwählen?

Antworten

1. _____
2. _____
3. _____
4. _____
5. _____
6. _____
7. _____
8. _____
9. _____
10. _____
11. _____
12. _____

1-10	92	83	75	67	58	50	42	33	25	17
11-12	8	0								

Verwenden Sie jedes Diagramm, um die Probleme zu lösen.

1) Wenn Sie einmal würfeln würden, wie hoch ist die Wahrscheinlichkeit, dass es {NICHT} auf einem 1 landet?

2) Wenn Sie einmal würfeln würden, wie groß ist die Wahrscheinlichkeit, dass er auf einer gerade-Zahl landet?

3) Wenn Sie einmal würfeln würden, wie hoch ist die Wahrscheinlichkeit, dass er auf einem 4 landet?

4) Wenn Sie den Spinner 1 Mal drehen, wie groß ist die Wahrscheinlichkeit, dass er auf einem grauen Stück landet?

5) Wenn Sie den Spinner 1 Mal drehen, wie groß ist die Wahrscheinlichkeit, dass er auf einem weißen Stein landet?

6) Wie viele Teile befinden sich insgesamt im Spinner?

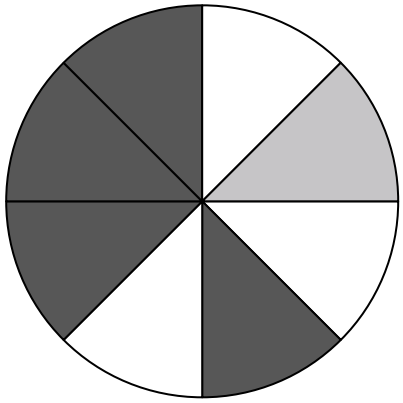

7) Wenn Sie den Spinner 1 Mal drehen, wie groß ist die Wahrscheinlichkeit, auf einem gray-Stück oder einem white-Stück zu landen?

8) Wenn Sie den Spinner 1 Mal drehen, wie groß ist die Wahrscheinlichkeit, dass er auf einem schwarzen Stein landet?

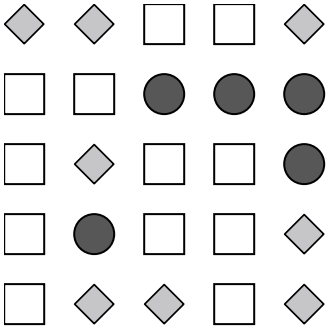

9) Welche Form hat eine Wahrscheinlichkeit von 32,00 % (8 von 25), ausgewählt zu werden?

10) Wenn Sie zufällig 1 Form aus dem Array auswählen würden, wie hoch ist die Wahrscheinlichkeit, dass es ein circle ist?

11) Wie viele Formen gibt es insgesamt im Array?

12) Wenn Sie zufällig 1 Form aus dem Array auswählen würden, welche Form haben Sie dann mit der größten Wahrscheinlichkeit auszuwählen?

Antworten

1. **5 von 6**
2. **3 von 6**
3. **1 von 6**
4. **1 von 8**
5. **3 von 8**
6. **8**
7. **4 von 8**
8. **4 von 8**
9. **diamond**
10. **5 von 25**
11. **25**
12. **circle**

1-10	92	83	75	67	58	50	42	33	25	17
11-12	8	0								

Verwenden Sie jedes Diagramm, um die Probleme zu lösen.



1) Wenn Sie zufällig 1 Form aus dem Array auswählen würden, wie hoch ist die Wahrscheinlichkeit, dass es ein heart ist?

2) Wenn Sie zufällig 1 Form aus dem Array auswählen würden, welche Form haben Sie dann mit der größten Wahrscheinlichkeit auszuwählen?

3) Wie viele Formen gibt es insgesamt im Array?

4) Welche Form hat eine Wahrscheinlichkeit von 36,00 % (9 von 25), ausgewählt zu werden?

5) Wie viele Teile befinden sich insgesamt im Spinner?

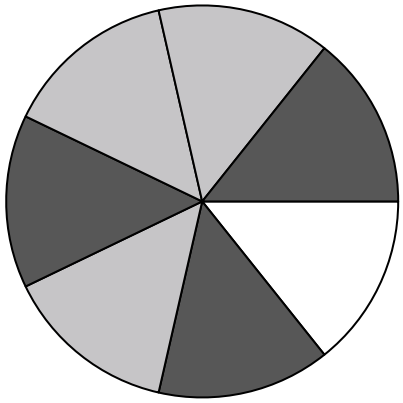

6) Wenn Sie den Spinner 1 Mal drehen, wie groß ist die Wahrscheinlichkeit, dass er auf einem weißen Stein landet?

7) Wenn Sie den Spinner 1 Mal drehen, wie groß ist die Wahrscheinlichkeit, dass er auf einem grauen Stück landet?

8) Wenn Sie den Spinner 1 Mal drehen, wie groß ist die Wahrscheinlichkeit, auf einem black-Stück oder einem white-Stück zu landen?

9) Wenn Sie den Spinner 1 Mal drehen, wie groß ist die Wahrscheinlichkeit, dass er auf einem schwarzen Stein landet?

10) Wenn Sie einmal würfeln würden, wie hoch ist die Wahrscheinlichkeit, dass es {NICHT} auf einem 1 landet?

11) Wenn Sie einmal würfeln würden, wie hoch ist die Wahrscheinlichkeit, dass er auf einem 3 landet?

12) Wenn Sie einmal würfeln würden, wie groß ist die Wahrscheinlichkeit, dass er auf einer ungerade-Zahl landet?

Antworten

1. _____
2. _____
3. _____
4. _____
5. _____
6. _____
7. _____
8. _____
9. _____
10. _____
11. _____
12. _____

1-10	92	83	75	67	58	50	42	33	25	17
11-12	8	0								

Verwenden Sie jedes Diagramm, um die Probleme zu lösen.



1) Wenn Sie zufällig 1 Form aus dem Array auswählen würden, wie hoch ist die Wahrscheinlichkeit, dass es ein heart ist?

2) Wenn Sie zufällig 1 Form aus dem Array auswählen würden, welche Form haben Sie dann mit der größten Wahrscheinlichkeit auszuwählen?

3) Wie viele Formen gibt es insgesamt im Array?

4) Welche Form hat eine Wahrscheinlichkeit von 36,00 % (9 von 25), ausgewählt zu werden?

5) Wie viele Teile befinden sich insgesamt im Spinner?

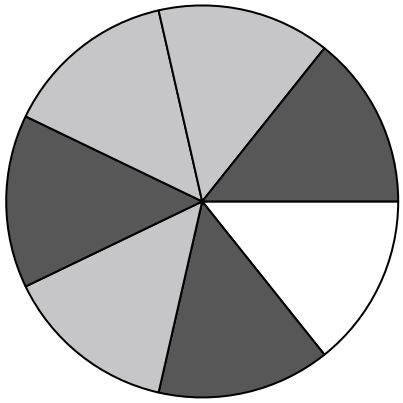

6) Wenn Sie den Spinner 1 Mal drehen, wie groß ist die Wahrscheinlichkeit, dass er auf einem weißen Stein landet?

7) Wenn Sie den Spinner 1 Mal drehen, wie groß ist die Wahrscheinlichkeit, dass er auf einem grauen Stück landet?

8) Wenn Sie den Spinner 1 Mal drehen, wie groß ist die Wahrscheinlichkeit, auf einem black-Stück oder einem white-Stück zu landen?

9) Wenn Sie den Spinner 1 Mal drehen, wie groß ist die Wahrscheinlichkeit, dass er auf einem schwarzen Stein landet?

10) Wenn Sie einmal würfeln würden, wie hoch ist die Wahrscheinlichkeit, dass es {NICHT} auf einem 1 landet?

11) Wenn Sie einmal würfeln würden, wie hoch ist die Wahrscheinlichkeit, dass er auf einem 3 landet?

12) Wenn Sie einmal würfeln würden, wie groß ist die Wahrscheinlichkeit, dass er auf einer ungerade-Zahl landet?

Antworten

1. **8 von 25**
2. **circle**
3. **25**
4. **diamond**
5. **7**
6. **1 von 7**
7. **3 von 7**
8. **4 von 7**
9. **3 von 7**
10. **5 von 6**
11. **1 von 6**
12. **3 von 6**

1-10	92	83	75	67	58	50	42	33	25	17
11-12	8	0								

Grundwahrscheinlichkeit Name:

Verwenden Sie jedes Diagramm, um die Probleme zu lösen.

1) Wenn Sie einmal würfeln würden, wie hoch ist die Wahrscheinlichkeit, dass er auf einem 6 landet?

2) Wenn Sie einmal würfeln würden, wie hoch ist die Wahrscheinlichkeit, dass es {NICHT} auf einem 1 landet?

3) Wenn Sie einmal würfeln würden, wie groß ist die Wahrscheinlichkeit, dass er auf einer ungerade-Zahl landet?

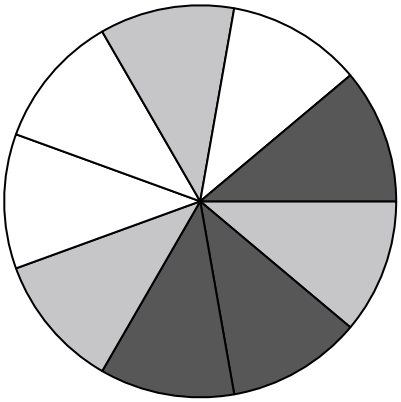

4) Wenn Sie den Spinner 1 Mal drehen, wie groß ist die Wahrscheinlichkeit, auf einem black-Stück oder einem white-Stück zu landen?

5) Wenn Sie den Spinner 1 Mal drehen, wie groß ist die Wahrscheinlichkeit, dass er auf einem schwarzen Stein landet?

6) Wenn Sie den Spinner 1 Mal drehen, wie groß ist die Wahrscheinlichkeit, dass er auf einem grauen Stück landet?

7) Wie viele Teile befinden sich insgesamt im Spinner?

8) Wenn Sie den Spinner 1 Mal drehen, wie groß ist die Wahrscheinlichkeit, dass er auf einem weißen Stein landet?



9) Wie viele Formen gibt es insgesamt im Array?

10) Wenn Sie zufällig 1 Form aus dem Array auswählen würden, wie hoch ist die Wahrscheinlichkeit, dass es ein diamond ist?

11) Wenn Sie zufällig 1 Form aus dem Array auswählen würden, welche Form haben Sie dann mit der größten Wahrscheinlichkeit auszuwählen?

12) Welche Form hat eine Wahrscheinlichkeit von 45,00 % (9 von 20), ausgewählt zu werden?

Antworten

1. _____
2. _____
3. _____
4. _____
5. _____
6. _____
7. _____
8. _____
9. _____
10. _____
11. _____
12. _____

1-10	92	83	75	67	58	50	42	33	25	17
11-12	8	0								

Verwenden Sie jedes Diagramm, um die Probleme zu lösen.

1) Wenn Sie einmal würfeln würden, wie hoch ist die Wahrscheinlichkeit, dass er auf einem 6 landet?

2) Wenn Sie einmal würfeln würden, wie hoch ist die Wahrscheinlichkeit, dass es {NICHT} auf einem 1 landet?

3) Wenn Sie einmal würfeln würden, wie groß ist die Wahrscheinlichkeit, dass er auf einer ungerade-Zahl landet?

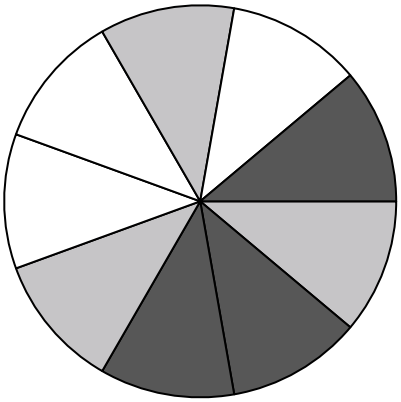

4) Wenn Sie den Spinner 1 Mal drehen, wie groß ist die Wahrscheinlichkeit, auf einem black-Stück oder einem white-Stück zu landen?

5) Wenn Sie den Spinner 1 Mal drehen, wie groß ist die Wahrscheinlichkeit, dass er auf einem schwarzen Stein landet?

6) Wenn Sie den Spinner 1 Mal drehen, wie groß ist die Wahrscheinlichkeit, dass er auf einem grauen Stück landet?

7) Wie viele Teile befinden sich insgesamt im Spinner?

8) Wenn Sie den Spinner 1 Mal drehen, wie groß ist die Wahrscheinlichkeit, dass er auf einem weißen Stein landet?



9) Wie viele Formen gibt es insgesamt im Array?

10) Wenn Sie zufällig 1 Form aus dem Array auswählen würden, wie hoch ist die Wahrscheinlichkeit, dass es ein diamond ist?

11) Wenn Sie zufällig 1 Form aus dem Array auswählen würden, welche Form haben Sie dann mit der größten Wahrscheinlichkeit auszuwählen?

12) Welche Form hat eine Wahrscheinlichkeit von 45,00 % (9 von 20), ausgewählt zu werden?

Antworten

1. **1 von 6**
2. **5 von 6**
3. **3 von 6**
4. **6 von 9**
5. **3 von 9**
6. **3 von 9**
7. **9**
8. **3 von 9**
9. **20**
10. **4 von 20**
11. **diamond**
12. **star**

1-10	92	83	75	67	58	50	42	33	25	17
11-12	8	0								

Grundwahrscheinlichkeit Name:

Verwenden Sie jedes Diagramm, um die Probleme zu lösen.



1) Wenn Sie zufällig 1 Form aus dem Array auswählen würden, wie hoch ist die Wahrscheinlichkeit, dass es ein diamond ist?

2) Wenn Sie zufällig 1 Form aus dem Array auswählen würden, welche Form haben Sie dann mit der größten Wahrscheinlichkeit auszuwählen?

3) Wie viele Formen gibt es insgesamt im Array?

4) Welche Form hat eine Wahrscheinlichkeit von 30,00 % (6 von 20), ausgewählt zu werden?

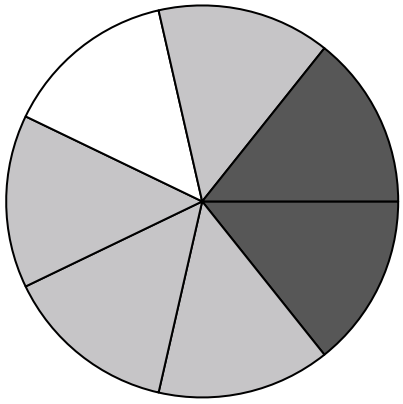

5) Wenn Sie den Spinner 1 Mal drehen, wie groß ist die Wahrscheinlichkeit, dass er auf einem schwarzen Stein landet?

6) Wenn Sie den Spinner 1 Mal drehen, wie groß ist die Wahrscheinlichkeit, dass er auf einem grauen Stück landet?

7) Wenn Sie den Spinner 1 Mal drehen, wie groß ist die Wahrscheinlichkeit, auf einem white-Stück oder einem gray-Stück zu landen?

8) Wie viele Teile befinden sich insgesamt im Spinner?

9) Wenn Sie den Spinner 1 Mal drehen, wie groß ist die Wahrscheinlichkeit, dass er auf einem weißen Stein landet?

10) Wenn Sie einmal würfeln würden, wie groß ist die Wahrscheinlichkeit, dass er auf einer gerade-Zahl landet?

11) Wenn Sie einmal würfeln würden, wie hoch ist die Wahrscheinlichkeit, dass es {NICHT} auf einem 1 landet?

12) Wenn Sie einmal würfeln würden, wie hoch ist die Wahrscheinlichkeit, dass er auf einem 5 landet?

Antworten

1. _____
2. _____
3. _____
4. _____
5. _____
6. _____
7. _____
8. _____
9. _____
10. _____
11. _____
12. _____

1-10	92	83	75	67	58	50	42	33	25	17
11-12	8	0								

Verwenden Sie jedes Diagramm, um die Probleme zu lösen.



1) Wenn Sie zufällig 1 Form aus dem Array auswählen würden, wie hoch ist die Wahrscheinlichkeit, dass es ein diamond ist?

2) Wenn Sie zufällig 1 Form aus dem Array auswählen würden, welche Form haben Sie dann mit der größten Wahrscheinlichkeit auszuwählen?

3) Wie viele Formen gibt es insgesamt im Array?

4) Welche Form hat eine Wahrscheinlichkeit von 30,00 % (6 von 20), ausgewählt zu werden?

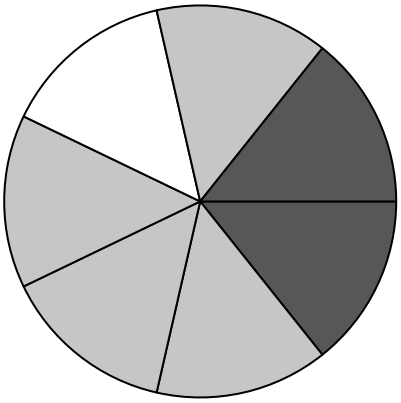

5) Wenn Sie den Spinner 1 Mal drehen, wie groß ist die Wahrscheinlichkeit, dass er auf einem schwarzen Stein landet?

6) Wenn Sie den Spinner 1 Mal drehen, wie groß ist die Wahrscheinlichkeit, dass er auf einem grauen Stück landet?

7) Wenn Sie den Spinner 1 Mal drehen, wie groß ist die Wahrscheinlichkeit, auf einem white-Stück oder einem gray-Stück zu landen?

8) Wie viele Teile befinden sich insgesamt im Spinner?

9) Wenn Sie den Spinner 1 Mal drehen, wie groß ist die Wahrscheinlichkeit, dass er auf einem weißen Stein landet?

10) Wenn Sie einmal würfeln würden, wie groß ist die Wahrscheinlichkeit, dass er auf einer gerade-Zahl landet?

11) Wenn Sie einmal würfeln würden, wie hoch ist die Wahrscheinlichkeit, dass es {NICHT} auf einem 1 landet?

12) Wenn Sie einmal würfeln würden, wie hoch ist die Wahrscheinlichkeit, dass er auf einem 5 landet?

Antworten

1. **5 von 20**
2. **diamond**
3. **20**
4. **square**
5. **2 von 7**
6. **4 von 7**
7. **5 von 7**
8. **7**
9. **1 von 7**
10. **3 von 6**
11. **5 von 6**
12. **1 von 6**

1-10	92	83	75	67	58	50	42	33	25	17
11-12	8	0								

Verwenden Sie jedes Diagramm, um die Probleme zu lösen.

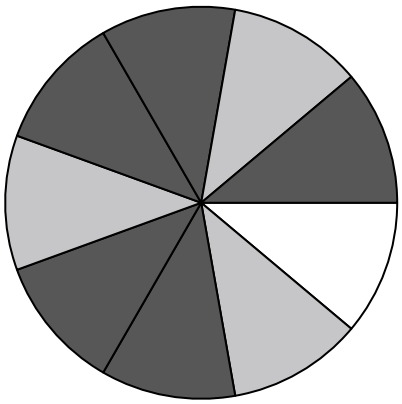

1) Wie viele Teile befinden sich insgesamt im Spinner?

2) Wenn Sie den Spinner 1 Mal drehen, wie groß ist die Wahrscheinlichkeit, dass er auf einem weißen Stein landet?

3) Wenn Sie den Spinner 1 Mal drehen, wie groß ist die Wahrscheinlichkeit, dass er auf einem grauen Stück landet?

4) Wenn Sie den Spinner 1 Mal drehen, wie groß ist die Wahrscheinlichkeit, dass er auf einem schwarzen Stein landet?

5) Wenn Sie den Spinner 1 Mal drehen, wie groß ist die Wahrscheinlichkeit, auf einem black-Stück oder einem gray-Stück zu landen?

6) Welche Form hat eine Wahrscheinlichkeit von 37,50 % (6 von 16), ausgewählt zu werden?

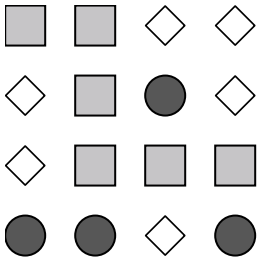

7) Wenn Sie zufällig 1 Form aus dem Array auswählen würden, wie hoch ist die Wahrscheinlichkeit, dass es ein diamond ist?

8) Wenn Sie zufällig 1 Form aus dem Array auswählen würden, welche Form haben Sie dann mit der größten Wahrscheinlichkeit auszuwählen?

9) Wie viele Formen gibt es insgesamt im Array?

10) Wenn Sie einmal würfeln würden, wie hoch ist die Wahrscheinlichkeit, dass es {NICHT} auf einem 1 landet?

11) Wenn Sie einmal würfeln würden, wie groß ist die Wahrscheinlichkeit, dass er auf einer ungerade-Zahl landet?

12) Wenn Sie einmal würfeln würden, wie hoch ist die Wahrscheinlichkeit, dass er auf einem 4 landet?

Antworten

1. _____
2. _____
3. _____
4. _____
5. _____
6. _____
7. _____
8. _____
9. _____
10. _____
11. _____
12. _____

1-10	92	83	75	67	58	50	42	33	25	17
11-12	8	0								

Verwenden Sie jedes Diagramm, um die Probleme zu lösen.

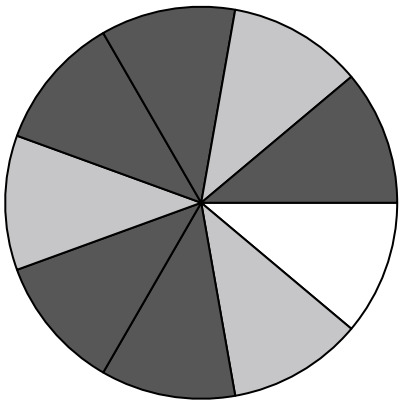

1) Wie viele Teile befinden sich insgesamt im Spinner?

2) Wenn Sie den Spinner 1 Mal drehen, wie groß ist die Wahrscheinlichkeit, dass er auf einem weißen Stein landet?

3) Wenn Sie den Spinner 1 Mal drehen, wie groß ist die Wahrscheinlichkeit, dass er auf einem grauen Stück landet?

4) Wenn Sie den Spinner 1 Mal drehen, wie groß ist die Wahrscheinlichkeit, dass er auf einem schwarzen Stein landet?

5) Wenn Sie den Spinner 1 Mal drehen, wie groß ist die Wahrscheinlichkeit, auf einem black-Stück oder einem gray-Stück zu landen?

6) Welche Form hat eine Wahrscheinlichkeit von 37,50 % (6 von 16), ausgewählt zu werden?

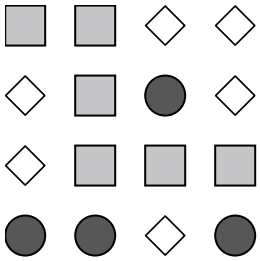

7) Wenn Sie zufällig 1 Form aus dem Array auswählen würden, wie hoch ist die Wahrscheinlichkeit, dass es ein diamond ist?

8) Wenn Sie zufällig 1 Form aus dem Array auswählen würden, welche Form haben Sie dann mit der größten Wahrscheinlichkeit auszuwählen?

9) Wie viele Formen gibt es insgesamt im Array?

10) Wenn Sie einmal würfeln würden, wie hoch ist die Wahrscheinlichkeit, dass es {NICHT} auf einem 1 landet?

11) Wenn Sie einmal würfeln würden, wie groß ist die Wahrscheinlichkeit, dass er auf einer ungerade-Zahl landet?

12) Wenn Sie einmal würfeln würden, wie hoch ist die Wahrscheinlichkeit, dass er auf einem 4 landet?

Antworten

1. **9**
2. **1 von 9**
3. **3 von 9**
4. **5 von 9**
5. **8 von 9**
6. **square**
7. **6 von 16**
8. **circle**
9. **16**
10. **5 von 6**
11. **3 von 6**
12. **1 von 6**

1-10	92	83	75	67	58	50	42	33	25	17
11-12	8	0								

Grundwahrscheinlichkeit Name:

Verwenden Sie jedes Diagramm, um die Probleme zu lösen.



1) Wie viele Formen gibt es insgesamt im Array?

2) Wenn Sie zufällig 1 Form aus dem Array auswählen würden, wie hoch ist die Wahrscheinlichkeit, dass es ein diamond ist?

3) Welche Form hat eine Wahrscheinlichkeit von 45,00 % (9 von 20), ausgewählt zu werden?

4) Wenn Sie zufällig 1 Form aus dem Array auswählen würden, welche Form haben Sie dann mit der größten Wahrscheinlichkeit auszuwählen?

5) Wenn Sie den Spinner 1 Mal drehen, wie groß ist die Wahrscheinlichkeit, dass er auf einem schwarzen Stein landet?

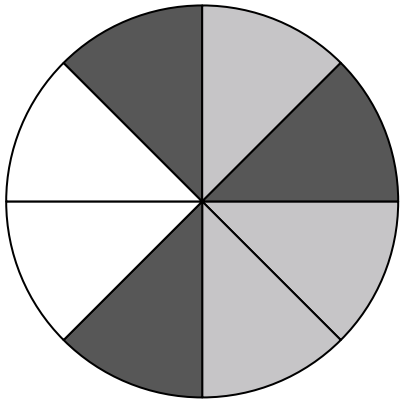

6) Wie viele Teile befinden sich insgesamt im Spinner?

7) Wenn Sie den Spinner 1 Mal drehen, wie groß ist die Wahrscheinlichkeit, dass er auf einem grauen Stück landet?

8) Wenn Sie den Spinner 1 Mal drehen, wie groß ist die Wahrscheinlichkeit, dass er auf einem weißen Stein landet?

9) Wenn Sie den Spinner 1 Mal drehen, wie groß ist die Wahrscheinlichkeit, auf einem gray-Stück oder einem white-Stück zu landen?

10) Wenn Sie einmal würfeln würden, wie hoch ist die Wahrscheinlichkeit, dass er auf einem 5 landet?

11) Wenn Sie einmal würfeln würden, wie hoch ist die Wahrscheinlichkeit, dass es {NICHT} auf einem 1 landet?

12) Wenn Sie einmal würfeln würden, wie groß ist die Wahrscheinlichkeit, dass er auf einer ungerade-Zahl landet?

Antworten

1. _____
2. _____
3. _____
4. _____
5. _____
6. _____
7. _____
8. _____
9. _____
10. _____
11. _____
12. _____

1-10	92	83	75	67	58	50	42	33	25	17
11-12	8	0								

Verwenden Sie jedes Diagramm, um die Probleme zu lösen.



1) Wie viele Formen gibt es insgesamt im Array?

2) Wenn Sie zufällig 1 Form aus dem Array auswählen würden, wie hoch ist die Wahrscheinlichkeit, dass es ein diamond ist?

3) Welche Form hat eine Wahrscheinlichkeit von 45,00 % (9 von 20), ausgewählt zu werden?

4) Wenn Sie zufällig 1 Form aus dem Array auswählen würden, welche Form haben Sie dann mit der größten Wahrscheinlichkeit auszuwählen?

5) Wenn Sie den Spinner 1 Mal drehen, wie groß ist die Wahrscheinlichkeit, dass er auf einem schwarzen Stein landet?

6) Wie viele Teile befinden sich insgesamt im Spinner?

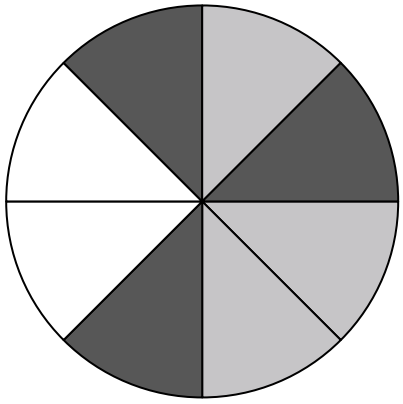

7) Wenn Sie den Spinner 1 Mal drehen, wie groß ist die Wahrscheinlichkeit, dass er auf einem grauen Stück landet?

8) Wenn Sie den Spinner 1 Mal drehen, wie groß ist die Wahrscheinlichkeit, dass er auf einem weißen Stein landet?

9) Wenn Sie den Spinner 1 Mal drehen, wie groß ist die Wahrscheinlichkeit, auf einem gray-Stück oder einem white-Stück zu landen?

10) Wenn Sie einmal würfeln würden, wie hoch ist die Wahrscheinlichkeit, dass er auf einem 5 landet?

11) Wenn Sie einmal würfeln würden, wie hoch ist die Wahrscheinlichkeit, dass es {NICHT} auf einem 1 landet?

12) Wenn Sie einmal würfeln würden, wie groß ist die Wahrscheinlichkeit, dass er auf einer ungerade-Zahl landet?

Antworten

1. **20**
2. **4 von 20**
3. **circle**
4. **diamond**
5. **3 von 8**
6. **8**
7. **3 von 8**
8. **2 von 8**
9. **5 von 8**
10. **1 von 6**
11. **5 von 6**
12. **3 von 6**

1-10	92	83	75	67	58	50	42	33	25	17
11-12	8	0								