Grundwahrscheinlichkeit Name:

Verwenden Sie jedes Diagramm, um die Probleme zu lösen.



1) Welche Form hat eine Wahrscheinlichkeit von 40,00 % (8 von 20), ausgewählt zu werden?

2) Wenn Sie zufällig 1 Form aus dem Array auswählen würden, welche Form haben Sie dann mit der größten Wahrscheinlichkeit auszuwählen?

3) Wie viele Formen gibt es insgesamt im Array?

4) Wenn Sie zufällig 1 Form aus dem Array auswählen würden, wie hoch ist die Wahrscheinlichkeit, dass es ein circle ist?

5) Wenn Sie einmal würfeln würden, wie hoch ist die Wahrscheinlichkeit, dass er auf einem 5 landet?



6) Wenn Sie einmal würfeln würden, wie groß ist die Wahrscheinlichkeit, dass er auf einer ungerade-Zahl landet?

7) Wenn Sie einmal würfeln würden, wie hoch ist die Wahrscheinlichkeit, dass es {NICHT} auf einem 1 landet?

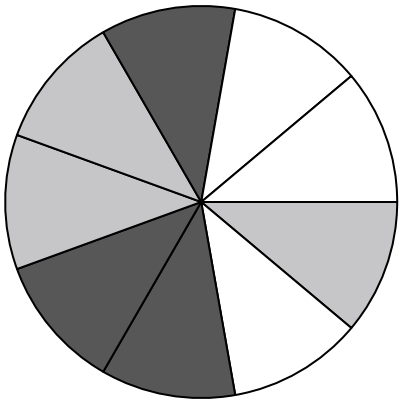

8) Wenn Sie den Spinner 1 Mal drehen, wie groß ist die Wahrscheinlichkeit, auf einem gray-Stück oder einem white-Stück zu landen?

9) Wenn Sie den Spinner 1 Mal drehen, wie groß ist die Wahrscheinlichkeit, dass er auf einem weißen Stein landet?

10) Wenn Sie den Spinner 1 Mal drehen, wie groß ist die Wahrscheinlichkeit, dass er auf einem grauen Stück landet?

11) Wenn Sie den Spinner 1 Mal drehen, wie groß ist die Wahrscheinlichkeit, dass er auf einem schwarzen Stein landet?

12) Wie viele Teile befinden sich insgesamt im Spinner?

Antworten

1. _____
2. _____
3. _____
4. _____
5. _____
6. _____
7. _____
8. _____
9. _____
10. _____
11. _____
12. _____

1-10	92	83	75	67	58	50	42	33	25	17
11-12	8	0								

Grundwahrscheinlichkeit Name: **Lösungsschlüssel**

Verwenden Sie jedes Diagramm, um die Probleme zu lösen.



1) Welche Form hat eine Wahrscheinlichkeit von 40,00 % (8 von 20), ausgewählt zu werden?

2) Wenn Sie zufällig 1 Form aus dem Array auswählen würden, welche Form haben Sie dann mit der größten Wahrscheinlichkeit auszuwählen?

3) Wie viele Formen gibt es insgesamt im Array?

4) Wenn Sie zufällig 1 Form aus dem Array auswählen würden, wie hoch ist die Wahrscheinlichkeit, dass es ein circle ist?

5) Wenn Sie einmal würfeln würden, wie hoch ist die Wahrscheinlichkeit, dass er auf einem 5 landet?



6) Wenn Sie einmal würfeln würden, wie groß ist die Wahrscheinlichkeit, dass er auf einer ungerade-Zahl landet?

7) Wenn Sie einmal würfeln würden, wie hoch ist die Wahrscheinlichkeit, dass es {NICHT} auf einem 1 landet?

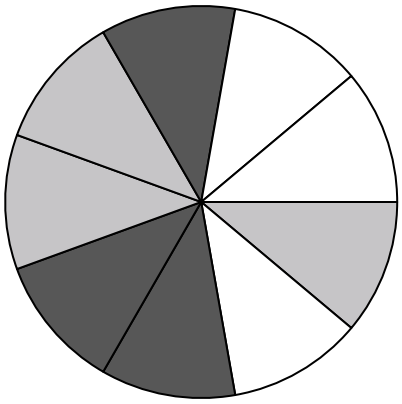

8) Wenn Sie den Spinner 1 Mal drehen, wie groß ist die Wahrscheinlichkeit, auf einem gray-Stück oder einem white-Stück zu landen?

9) Wenn Sie den Spinner 1 Mal drehen, wie groß ist die Wahrscheinlichkeit, dass er auf einem weißen Stein landet?

10) Wenn Sie den Spinner 1 Mal drehen, wie groß ist die Wahrscheinlichkeit, dass er auf einem grauen Stück landet?

11) Wenn Sie den Spinner 1 Mal drehen, wie groß ist die Wahrscheinlichkeit, dass er auf einem schwarzen Stein landet?

12) Wie viele Teile befinden sich insgesamt im Spinner?

Antworten

1. **star**
2. **circle**
3. **20**
4. **5 von 20**
5. **1 von 6**
6. **3 von 6**
7. **5 von 6**
8. **6 von 9**
9. **3 von 9**
10. **3 von 9**
11. **3 von 9**
12. **9**

1-10	92	83	75	67	58	50	42	33	25	17
11-12	8	0								