Spiegelungen im Koordinatenkreuz Name:

Spiegle jede Figur wie beschrieben.

Antworten

1. ___ ___ ___ ___

2. ___ ___ ___ ___ ___

3. ___ ___ ___ ___

4. ___ ___ ___ ___ ___

1)

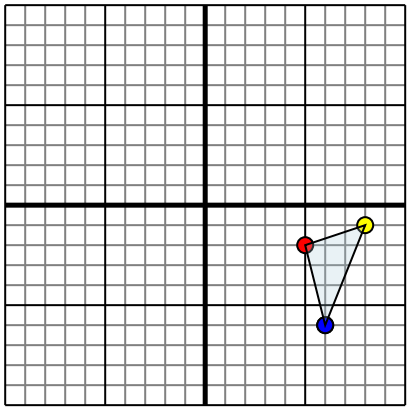

Die obige Figur hat die folgenden Koordinaten:

A. (5,-2)

B. (8,-1)

C. (6,-6)

Spiegle die Figur an der X-Achse.

2)

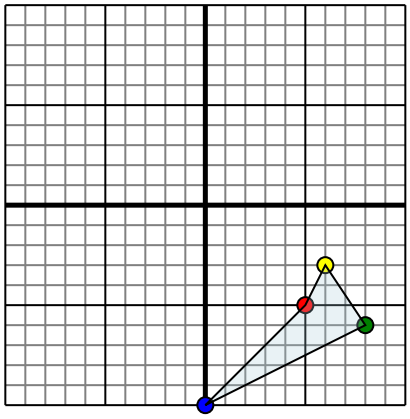

Die obige Figur hat die folgenden Koordinaten:

A. (5,-5)

B. (6,-3)

C. (8,-6)

D. (0,-10)

Spiegle die Figur an der Y-Achse.

3)

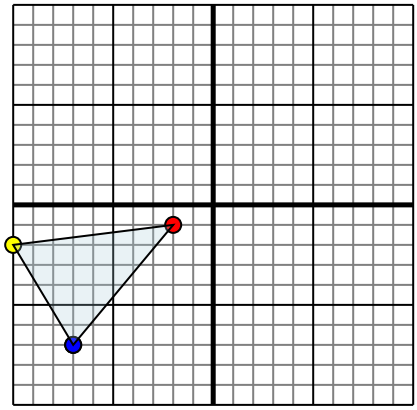

Die obige Figur hat die folgenden Koordinaten:

A. (-2,-1)

B. (-10,-2)

C. (-7,-7)

Spiegle die Figur an der X-Achse.

4)

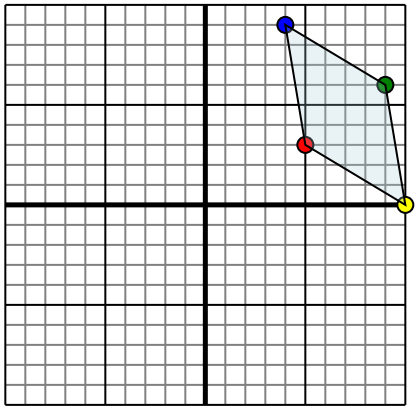

Die obige Figur hat die folgenden Koordinaten:

A. (5,3)

B. (10,0)

C. (9,6)

D. (4,9)

Spiegle die Figur an der X-Achse.

1-4	75	50	25	0

Spiegle jede Figur wie beschrieben.

1)

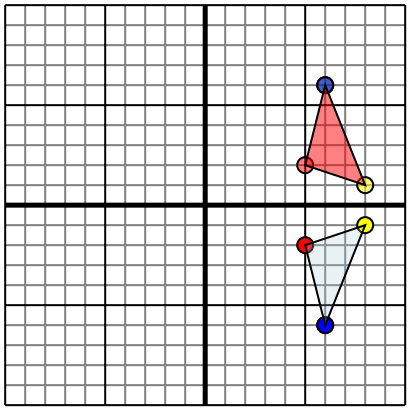

Die obige Figur hat die folgenden Koordinaten:

A. (5,-2)

B. (8,-1)

C. (6,-6)

Spiegle die Figur an der X-Achse.

2)

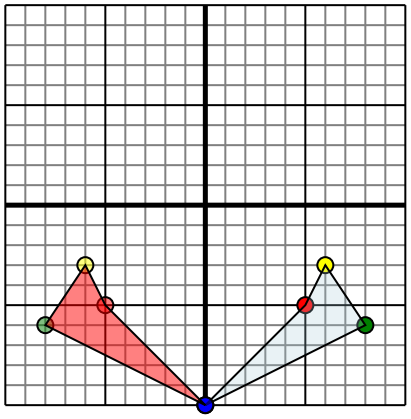

Die obige Figur hat die folgenden Koordinaten:

A. (5,-5)

B. (6,-3)

C. (8,-6)

D. (0,-10)

Spiegle die Figur an der Y-Achse.

3)

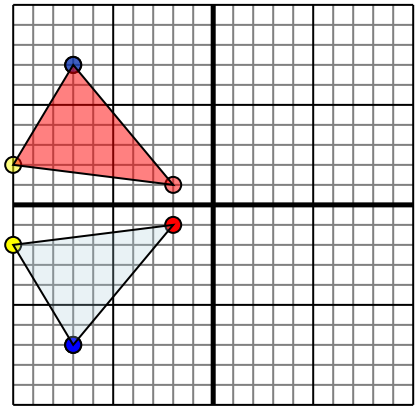

Die obige Figur hat die folgenden Koordinaten:

A. (-2,-1)

B. (-10,-2)

C. (-7,-7)

Spiegle die Figur an der X-Achse.

4)

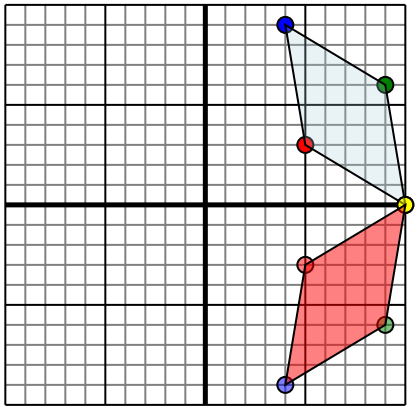

Die obige Figur hat die folgenden Koordinaten:

A. (5,3)

B. (10,0)

C. (9,6)

D. (4,9)

Spiegle die Figur an der X-Achse.

Antworten

1. 5.2 8.1 6.6 Graph
2. -5.-5 -6.-3 -8.-6 0.-10 Graph
3. -2.1 -10.2 -7.7 Graph
4. 5.-3 10.0 9.-6 4.-9 Graph

1-4	75	50	25	0