Bestimmen Sie, welche Aussagen über den Graphen wahr sind.

Antworten

1. _____
2. _____
3. _____

1)

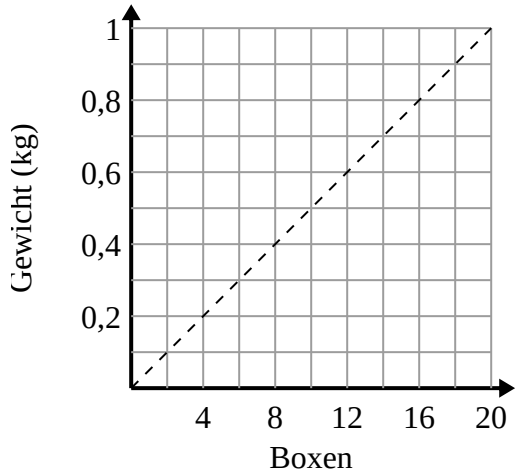

A. Der Punkt (0.4 , 8) zeigt an, dass 8 Kisten 0.4 Kilogramm wiegen.

B. Der Punkt (0.6 , 12) zeigt an, dass 0.6 Kilogramm das Gewicht von 12 Kisten ist.

C. Der Punkt (10 , 0.5) zeigt an, dass 0.5 Kilogramm das Gewicht von 10 Kisten ist.

D. Der Punkt (6 , 0.3) zeigt an, dass 0.3 Kilogramm das Gewicht von 6 Kisten ist.

2)

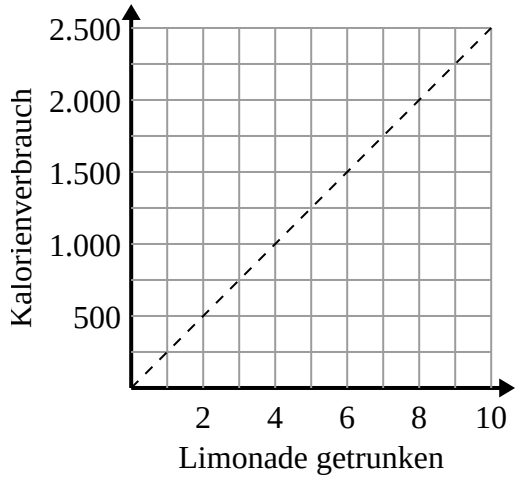

A. Der Punkt (2 , 500) zeigt, dass das Trinken von 2 Limonaden bedeutet, dass Sie 500 Kalorien verbraucht haben.

B. Der Punkt (8 , 2000) zeigt, dass Sie 8 Limonaden trinken müssen, um 2000 Kalorien zu konsumieren.

C. Der Punkt (750 , 3) zeigt, dass Sie 3 Limonaden trinken müssen, um 750 Kalorien zu konsumieren.

D. Der Punkt (500 , 2) zeigt, dass das Trinken von 2 Limonaden bedeutet, dass Sie 500 Kalorien verbraucht haben.

3)

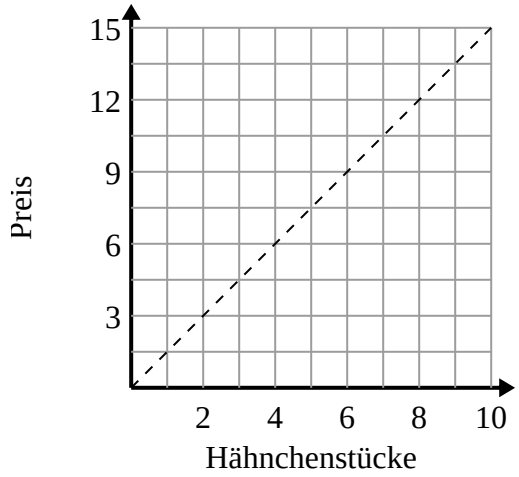

A. Der Punkt (12 , 8) zeigt, dass 8 Hühnchenstücke 12 $ kosten.

B. Der Punkt (4.5 , 3) zeigt, dass 3 Hühnchenstücke 4.5 $ kosten.

C. Der Punkt (7 , 10.5) zeigt, dass 7 Hühnchenstücke 10.5 $ kosten.

D. Der Punkt (1 , 1.5) zeigt, dass 1 Hühnchenstücke 1.5 $ kosten.

1-3	67	33	0

Bestimmen Sie, welche Aussagen über den Graphen wahr sind.

1)

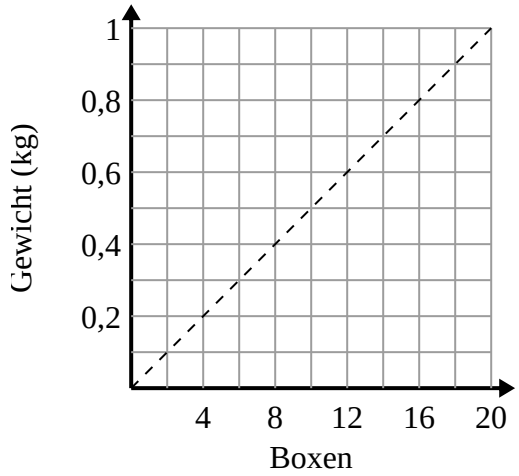

A. Der Punkt (0.4 , 8) zeigt an, dass 8 Kisten 0.4 Kilogramm wiegen.

B. Der Punkt (0.6 , 12) zeigt an, dass 0.6 Kilogramm das Gewicht von 12 Kisten ist.

C. Der Punkt (10 , 0.5) zeigt an, dass 0.5 Kilogramm das Gewicht von 10 Kisten ist.

D. Der Punkt (6 , 0.3) zeigt an, dass 0.3 Kilogramm das Gewicht von 6 Kisten ist.

2)

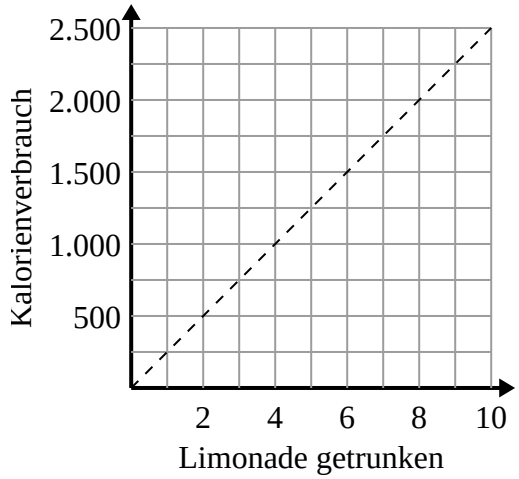

A. Der Punkt (2 , 500) zeigt, dass das Trinken von 2 Limonaden bedeutet, dass Sie 500 Kalorien verbraucht haben.

B. Der Punkt (8 , 2000) zeigt, dass Sie 8 Limonaden trinken müssen, um 2000 Kalorien zu konsumieren.

C. Der Punkt (750 , 3) zeigt, dass Sie 3 Limonaden trinken müssen, um 750 Kalorien zu konsumieren.

D. Der Punkt (500 , 2) zeigt, dass das Trinken von 2 Limonaden bedeutet, dass Sie 500 Kalorien verbraucht haben.

3)

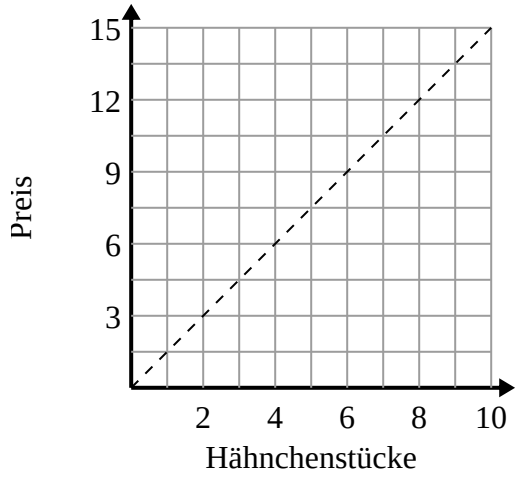

A. Der Punkt (12 , 8) zeigt, dass 8 Hühnchenstücke 12 $ kosten.

B. Der Punkt (4.5 , 3) zeigt, dass 3 Hühnchenstücke 4.5 $ kosten.

C. Der Punkt (7 , 10.5) zeigt, dass 7 Hühnchenstücke 10.5 $ kosten.

D. Der Punkt (1 , 1.5) zeigt, dass 1 Hühnchenstücke 1.5 $ kosten.

Antworten

1. **C,D**
2. **A,B**
3. **C,D**

1-3	67	33	0