Bruch-Lage auf dem Zahlenstrahl

Name:

Löse jede Aufgabe.

Bsp)

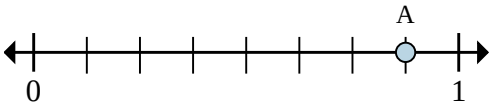

a. In wie viele Teile ist dieser Zahlenstrahl aufgeteilt?

b. Was ist die Lage von A (geschrieben als Bruch)?

1)

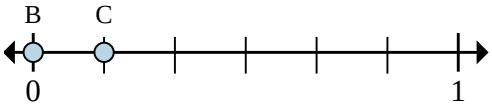

a. Was ist der Wert von 1 als Bruch auf diesem Zahlenstrahl?

b. Wie weit ist es auf diesem Zahlenstrahl von B nach C (geschrieben als Bruch)?

2)

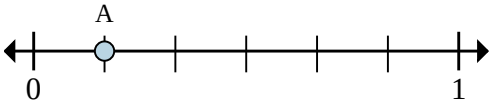

a. In wie viele Teile ist dieser Zahlenstrahl aufgeteilt?

b. Was ist die Lage von A (geschrieben als Bruch)?

3)

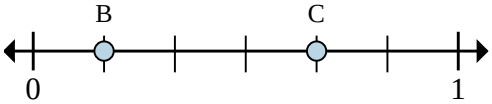

a. Was ist der Wert von 0 als Bruch auf diesem Zahlenstrahl?

b. Wie weit ist es auf diesem Zahlenstrahl von B nach C (geschrieben als Bruch)?

4)

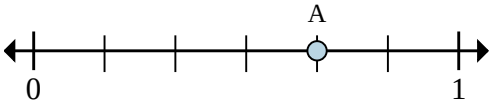

a. In wie viele Teile ist dieser Zahlenstrahl aufgeteilt?

b. Was ist die Lage von A (geschrieben als Bruch)?

5)

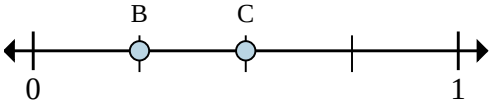

a. Was ist der Wert von 0 als Bruch auf diesem Zahlenstrahl?

b. Wie weit ist es auf diesem Zahlenstrahl von B nach C (geschrieben als Bruch)?

6)

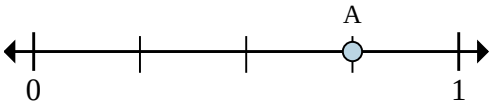

a. In wie viele Teile ist dieser Zahlenstrahl aufgeteilt?

b. Was ist die Lage von A (geschrieben als Bruch)?

7)

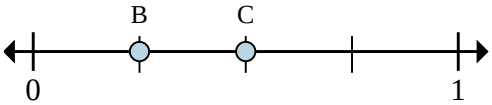

a. Was ist der Wert von 0 als Bruch auf diesem Zahlenstrahl?

b. Wie weit ist es auf diesem Zahlenstrahl von B nach C (geschrieben als Bruch)?

Antworten

Bsp.	8	7/8
1.		
2.		
3.		
4.		
5.		
6.		
7.		

1-7	86	71	57	43	29	14	0

Bruch-Lage auf dem Zahlenstrahl Name: **Lösungsschlüssel**

Löse jede Aufgabe.

Bsp)

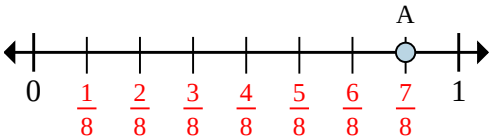

a. In wie viele Teile ist dieser Zahlenstrahl aufgeteilt?

b. Was ist die Lage von A (geschrieben als Bruch)?

1)

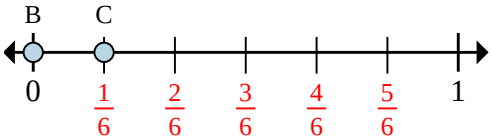

a. Was ist der Wert von 1 als Bruch auf diesem Zahlenstrahl?

b. Wie weit ist es auf diesem Zahlenstrahl von B nach C (geschrieben als Bruch)?

2)

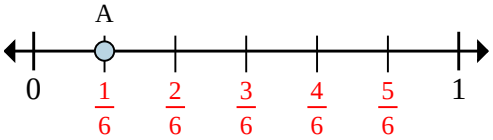

a. In wie viele Teile ist dieser Zahlenstrahl aufgeteilt?

b. Was ist die Lage von A (geschrieben als Bruch)?

3)

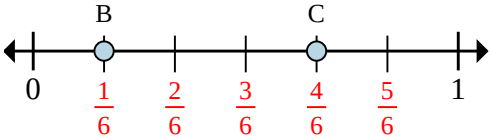

a. Was ist der Wert von 0 als Bruch auf diesem Zahlenstrahl?

b. Wie weit ist es auf diesem Zahlenstrahl von B nach C (geschrieben als Bruch)?

4)

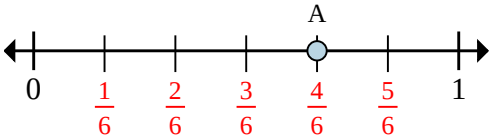

a. In wie viele Teile ist dieser Zahlenstrahl aufgeteilt?

b. Was ist die Lage von A (geschrieben als Bruch)?

5)

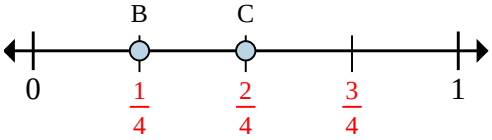

a. Was ist der Wert von 0 als Bruch auf diesem Zahlenstrahl?

b. Wie weit ist es auf diesem Zahlenstrahl von B nach C (geschrieben als Bruch)?

6)

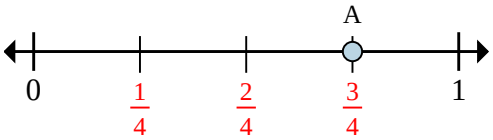

a. In wie viele Teile ist dieser Zahlenstrahl aufgeteilt?

b. Was ist die Lage von A (geschrieben als Bruch)?

7)

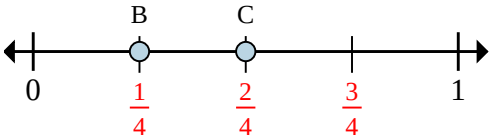

a. Was ist der Wert von 0 als Bruch auf diesem Zahlenstrahl?

b. Wie weit ist es auf diesem Zahlenstrahl von B nach C (geschrieben als Bruch)?

Antworten

Bsp.	8	7/8
1.	6/6	1/6
2.	6	1/6
3.	0/6	3/6
4.	6	4/6
5.	0/4	1/4
6.	4	3/4
7.	0/4	1/4

1-7	86	71	57	43	29	14	0

Bruch-Lage auf dem Zahlenstrahl

Name:

Löse jede Aufgabe.

Bsp)

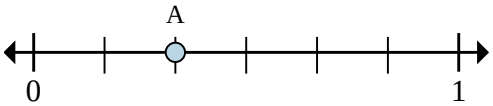

a. In wie viele Teile ist dieser Zahlenstrahl aufgeteilt?

b. Was ist die Lage von A (geschrieben als Bruch)?

1)

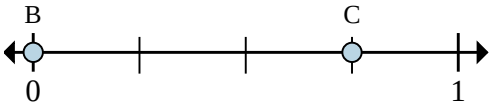

a. Was ist der Wert von 1 als Bruch auf diesem Zahlenstrahl?

b. Wie weit ist es auf diesem Zahlenstrahl von B nach C (geschrieben als Bruch)?

2)

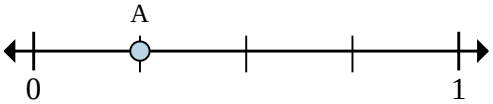

a. In wie viele Teile ist dieser Zahlenstrahl aufgeteilt?

b. Was ist die Lage von A (geschrieben als Bruch)?

3)

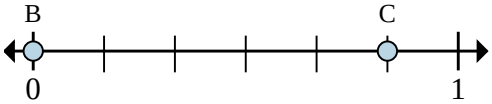

a. Was ist der Wert von 1 als Bruch auf diesem Zahlenstrahl?

b. Wie weit ist es auf diesem Zahlenstrahl von B nach C (geschrieben als Bruch)?

4)

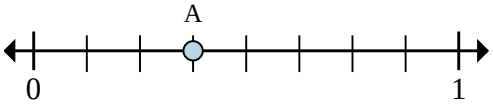

a. In wie viele Teile ist dieser Zahlenstrahl aufgeteilt?

b. Was ist die Lage von A (geschrieben als Bruch)?

5)

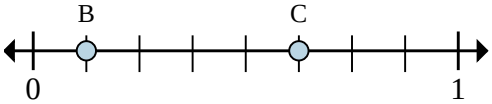

a. Was ist der Wert von 0 als Bruch auf diesem Zahlenstrahl?

b. Wie weit ist es auf diesem Zahlenstrahl von B nach C (geschrieben als Bruch)?

6)

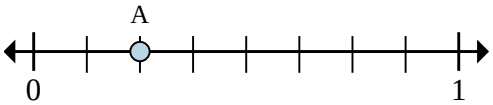

a. In wie viele Teile ist dieser Zahlenstrahl aufgeteilt?

b. Was ist die Lage von A (geschrieben als Bruch)?

7)

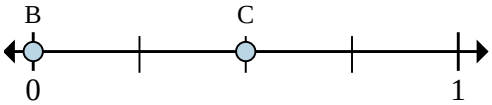

a. Was ist der Wert von 1 als Bruch auf diesem Zahlenstrahl?

b. Wie weit ist es auf diesem Zahlenstrahl von B nach C (geschrieben als Bruch)?

Antworten

Bsp.	6	$^{2}/_{6}$
1.		
2.		
3.		
4.		
5.		
6.		
7.		

1-7	86	71	57	43	29	14	0

Löse jede Aufgabe.

Bsp)

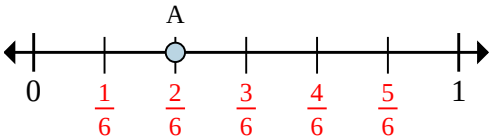

a. In wie viele Teile ist dieser Zahlenstrahl aufgeteilt?

b. Was ist die Lage von A (geschrieben als Bruch)?

1)

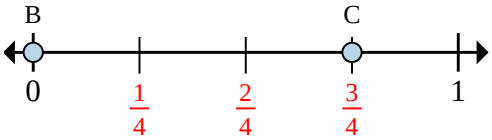

a. Was ist der Wert von 1 als Bruch auf diesem Zahlenstrahl?

b. Wie weit ist es auf diesem Zahlenstrahl von B nach C (geschrieben als Bruch)?

2)

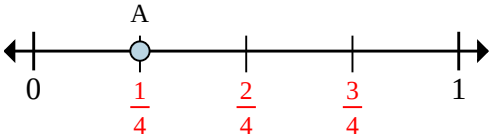

a. In wie viele Teile ist dieser Zahlenstrahl aufgeteilt?

b. Was ist die Lage von A (geschrieben als Bruch)?

3)

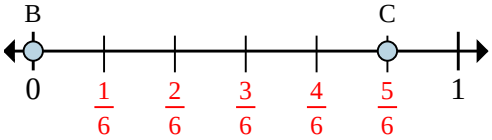

a. Was ist der Wert von 1 als Bruch auf diesem Zahlenstrahl?

b. Wie weit ist es auf diesem Zahlenstrahl von B nach C (geschrieben als Bruch)?

4)

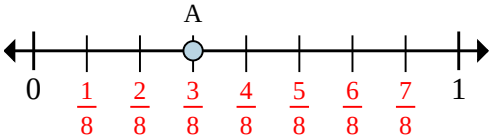

a. In wie viele Teile ist dieser Zahlenstrahl aufgeteilt?

b. Was ist die Lage von A (geschrieben als Bruch)?

5)

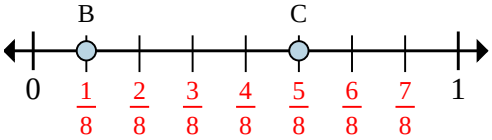

a. Was ist der Wert von 0 als Bruch auf diesem Zahlenstrahl?

b. Wie weit ist es auf diesem Zahlenstrahl von B nach C (geschrieben als Bruch)?

6)

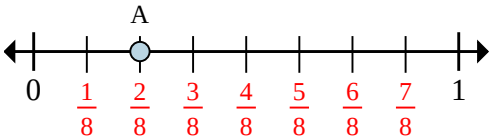

a. In wie viele Teile ist dieser Zahlenstrahl aufgeteilt?

b. Was ist die Lage von A (geschrieben als Bruch)?

7)

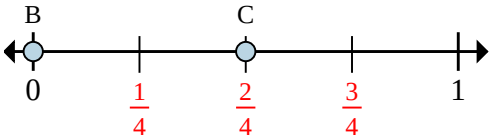

a. Was ist der Wert von 1 als Bruch auf diesem Zahlenstrahl?

b. Wie weit ist es auf diesem Zahlenstrahl von B nach C (geschrieben als Bruch)?

Antworten

Bsp.	6	2/6
1.	4/4	3/4
2.	4	1/4
3.	6/6	5/6
4.	8	3/8
5.	0/8	4/8
6.	8	2/8
7.	4/4	2/4

1-7	86	71	57	43	29	14	0

Bruch-Lage auf dem Zahlenstrahl

Name:

Löse jede Aufgabe.

Bsp)

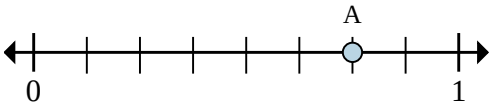

a. In wie viele Teile ist dieser Zahlenstrahl aufgeteilt?

b. Was ist die Lage von A (geschrieben als Bruch)?

1)

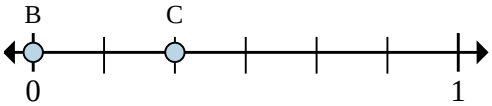

a. Was ist der Wert von 0 als Bruch auf diesem Zahlenstrahl?

b. Wie weit ist es auf diesem Zahlenstrahl von B nach C (geschrieben als Bruch)?

2)

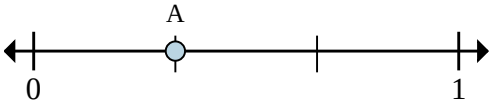

a. In wie viele Teile ist dieser Zahlenstrahl aufgeteilt?

b. Was ist die Lage von A (geschrieben als Bruch)?

3)

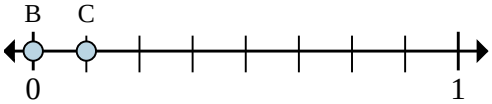

a. Was ist der Wert von 1 als Bruch auf diesem Zahlenstrahl?

b. Wie weit ist es auf diesem Zahlenstrahl von B nach C (geschrieben als Bruch)?

4)

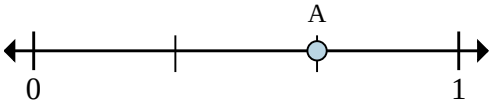

a. In wie viele Teile ist dieser Zahlenstrahl aufgeteilt?

b. Was ist die Lage von A (geschrieben als Bruch)?

5)

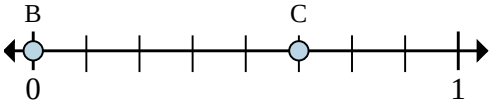

a. Was ist der Wert von 0 als Bruch auf diesem Zahlenstrahl?

b. Wie weit ist es auf diesem Zahlenstrahl von B nach C (geschrieben als Bruch)?

6)

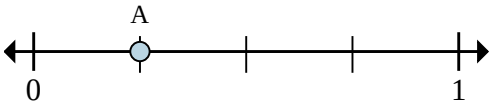

a. In wie viele Teile ist dieser Zahlenstrahl aufgeteilt?

b. Was ist die Lage von A (geschrieben als Bruch)?

7)

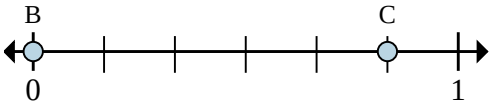

a. Was ist der Wert von 0 als Bruch auf diesem Zahlenstrahl?

b. Wie weit ist es auf diesem Zahlenstrahl von B nach C (geschrieben als Bruch)?

Antworten

Bsp.	8	6/8
1.		
2.		
3.		
4.		
5.		
6.		
7.		

1-7	86	71	57	43	29	14	0

Bruch-Lage auf dem Zahlenstrahl Name: **Lösungsschlüssel**

Löse jede Aufgabe.

Bsp)

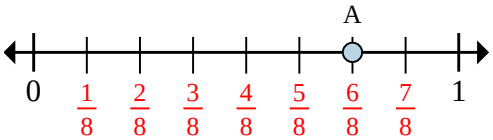

a. In wie viele Teile ist dieser Zahlenstrahl aufgeteilt?

b. Was ist die Lage von A (geschrieben als Bruch)?

1)

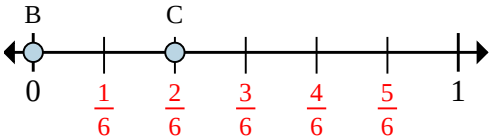

a. Was ist der Wert von 0 als Bruch auf diesem Zahlenstrahl?

b. Wie weit ist es auf diesem Zahlenstrahl von B nach C (geschrieben als Bruch)?

2)

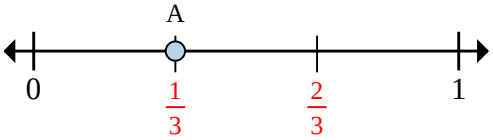

a. In wie viele Teile ist dieser Zahlenstrahl aufgeteilt?

b. Was ist die Lage von A (geschrieben als Bruch)?

3)

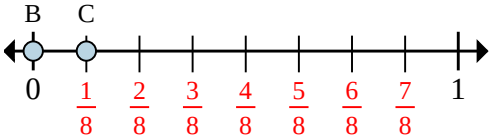

a. Was ist der Wert von 1 als Bruch auf diesem Zahlenstrahl?

b. Wie weit ist es auf diesem Zahlenstrahl von B nach C (geschrieben als Bruch)?

4)

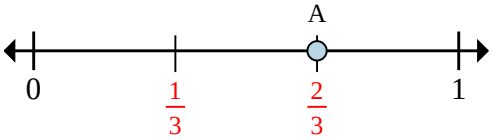

a. In wie viele Teile ist dieser Zahlenstrahl aufgeteilt?

b. Was ist die Lage von A (geschrieben als Bruch)?

5)

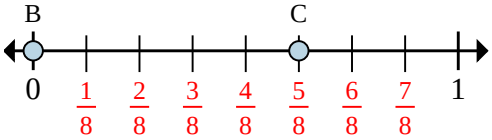

a. Was ist der Wert von 0 als Bruch auf diesem Zahlenstrahl?

b. Wie weit ist es auf diesem Zahlenstrahl von B nach C (geschrieben als Bruch)?

6)

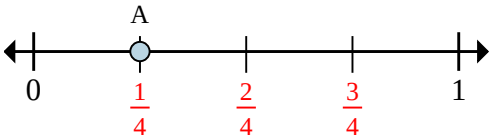

a. In wie viele Teile ist dieser Zahlenstrahl aufgeteilt?

b. Was ist die Lage von A (geschrieben als Bruch)?

7)

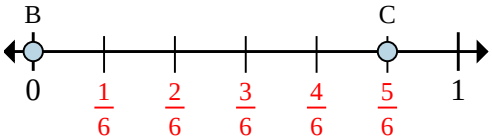

a. Was ist der Wert von 0 als Bruch auf diesem Zahlenstrahl?

b. Wie weit ist es auf diesem Zahlenstrahl von B nach C (geschrieben als Bruch)?

Antworten

Bsp.	8	6/8
1.	0/6	2/6
2.	3	1/3
3.	8/8	1/8
4.	3	2/3
5.	0/8	5/8
6.	4	1/4
7.	0/6	5/6

1-7	86	71	57	43	29	14	0

Bruch-Lage auf dem Zahlenstrahl

Name:

Löse jede Aufgabe.

Bsp)

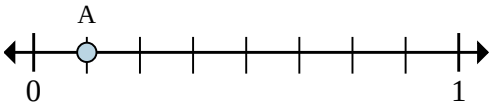

a. In wie viele Teile ist dieser Zahlenstrahl aufgeteilt?

b. Was ist die Lage von A (geschrieben als Bruch)?

1)

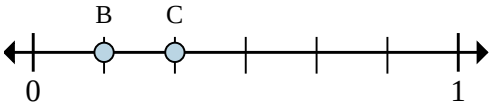

a. Was ist der Wert von 1 als Bruch auf diesem Zahlenstrahl?

b. Wie weit ist es auf diesem Zahlenstrahl von B nach C (geschrieben als Bruch)?

2)

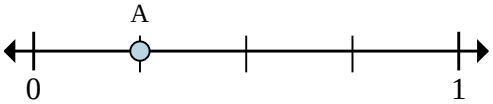

a. In wie viele Teile ist dieser Zahlenstrahl aufgeteilt?

b. Was ist die Lage von A (geschrieben als Bruch)?

3)

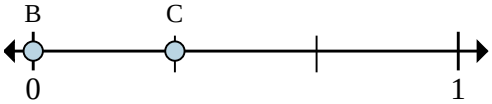

a. Was ist der Wert von 0 als Bruch auf diesem Zahlenstrahl?

b. Wie weit ist es auf diesem Zahlenstrahl von B nach C (geschrieben als Bruch)?

4)

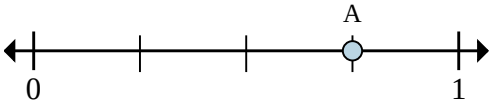

a. In wie viele Teile ist dieser Zahlenstrahl aufgeteilt?

b. Was ist die Lage von A (geschrieben als Bruch)?

5)

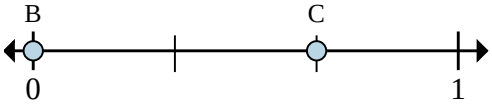

a. Was ist der Wert von 1 als Bruch auf diesem Zahlenstrahl?

b. Wie weit ist es auf diesem Zahlenstrahl von B nach C (geschrieben als Bruch)?

6)

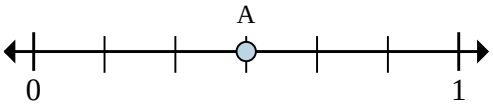

a. In wie viele Teile ist dieser Zahlenstrahl aufgeteilt?

b. Was ist die Lage von A (geschrieben als Bruch)?

7)

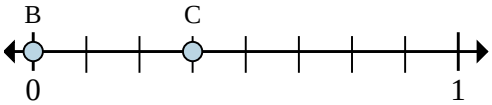

a. Was ist der Wert von 1 als Bruch auf diesem Zahlenstrahl?

b. Wie weit ist es auf diesem Zahlenstrahl von B nach C (geschrieben als Bruch)?

Antworten

Bsp.	8	$\frac{1}{8}$
1.		
2.		
3.		
4.		
5.		
6.		
7.		

1-7	86	71	57	43	29	14	0

Bruch-Lage auf dem Zahlenstrahl

Name: **Lösungsschlüssel**

Löse jede Aufgabe.

Bsp)

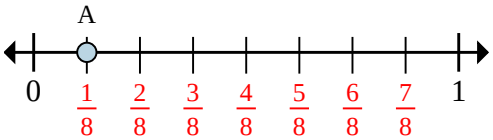

a. In wie viele Teile ist dieser Zahlenstrahl aufgeteilt?

b. Was ist die Lage von A (geschrieben als Bruch)?

1)

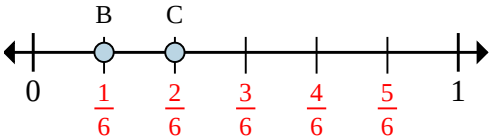

a. Was ist der Wert von 1 als Bruch auf diesem Zahlenstrahl?

b. Wie weit ist es auf diesem Zahlenstrahl von B nach C (geschrieben als Bruch)?

2)

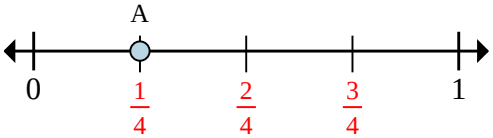

a. In wie viele Teile ist dieser Zahlenstrahl aufgeteilt?

b. Was ist die Lage von A (geschrieben als Bruch)?

3)

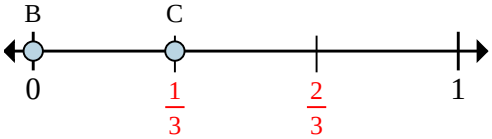

a. Was ist der Wert von 0 als Bruch auf diesem Zahlenstrahl?

b. Wie weit ist es auf diesem Zahlenstrahl von B nach C (geschrieben als Bruch)?

4)

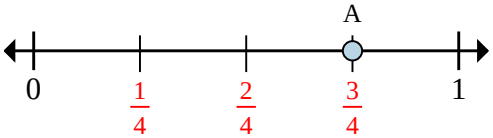

a. In wie viele Teile ist dieser Zahlenstrahl aufgeteilt?

b. Was ist die Lage von A (geschrieben als Bruch)?

5)

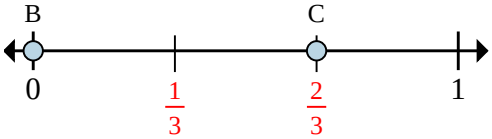

a. Was ist der Wert von 1 als Bruch auf diesem Zahlenstrahl?

b. Wie weit ist es auf diesem Zahlenstrahl von B nach C (geschrieben als Bruch)?

6)

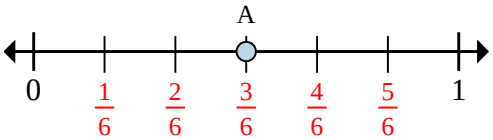

a. In wie viele Teile ist dieser Zahlenstrahl aufgeteilt?

b. Was ist die Lage von A (geschrieben als Bruch)?

7)

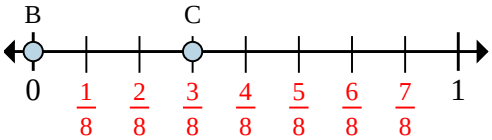

a. Was ist der Wert von 1 als Bruch auf diesem Zahlenstrahl?

b. Wie weit ist es auf diesem Zahlenstrahl von B nach C (geschrieben als Bruch)?

Antworten

Bsp.	8	1/8
1.	6/6	1/6
2.	4	1/4
3.	0/3	1/3
4.	4	3/4
5.	3/3	2/3
6.	6	3/6
7.	8/8	3/8

1-7	86	71	57	43	29	14	0

Bruch-Lage auf dem Zahlenstrahl

Name:

Löse jede Aufgabe.

Bsp)

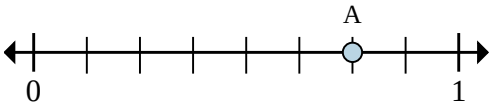

a. In wie viele Teile ist dieser Zahlenstrahl aufgeteilt?

b. Was ist die Lage von A (geschrieben als Bruch)?

1)

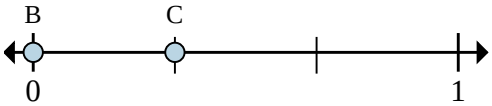

a. Was ist der Wert von 0 als Bruch auf diesem Zahlenstrahl?

b. Wie weit ist es auf diesem Zahlenstrahl von B nach C (geschrieben als Bruch)?

2)

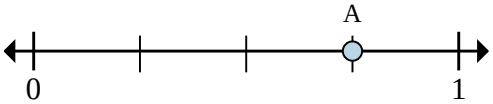

a. In wie viele Teile ist dieser Zahlenstrahl aufgeteilt?

b. Was ist die Lage von A (geschrieben als Bruch)?

3)

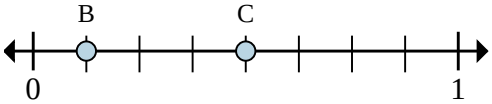

a. Was ist der Wert von 1 als Bruch auf diesem Zahlenstrahl?

b. Wie weit ist es auf diesem Zahlenstrahl von B nach C (geschrieben als Bruch)?

4)

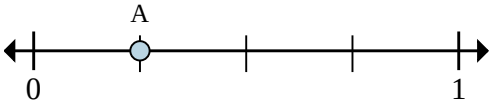

a. In wie viele Teile ist dieser Zahlenstrahl aufgeteilt?

b. Was ist die Lage von A (geschrieben als Bruch)?

5)

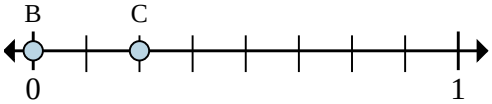

a. Was ist der Wert von 0 als Bruch auf diesem Zahlenstrahl?

b. Wie weit ist es auf diesem Zahlenstrahl von B nach C (geschrieben als Bruch)?

6)

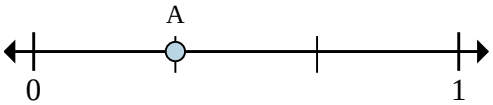

a. In wie viele Teile ist dieser Zahlenstrahl aufgeteilt?

b. Was ist die Lage von A (geschrieben als Bruch)?

7)

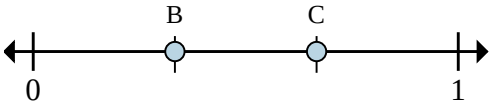

a. Was ist der Wert von 0 als Bruch auf diesem Zahlenstrahl?

b. Wie weit ist es auf diesem Zahlenstrahl von B nach C (geschrieben als Bruch)?

Antworten

Bsp.	8	6/8
1.		
2.		
3.		
4.		
5.		
6.		
7.		

1-7	86	71	57	43	29	14	0

Löse jede Aufgabe.

Bsp)

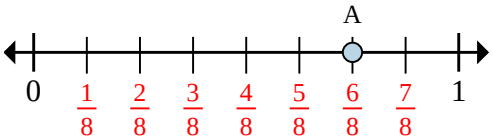

a. In wie viele Teile ist dieser Zahlenstrahl aufgeteilt?

b. Was ist die Lage von A (geschrieben als Bruch)?

1)

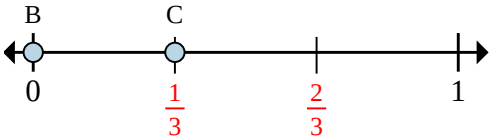

a. Was ist der Wert von 0 als Bruch auf diesem Zahlenstrahl?

b. Wie weit ist es auf diesem Zahlenstrahl von B nach C (geschrieben als Bruch)?

2)

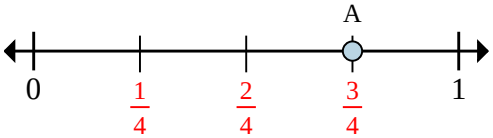

a. In wie viele Teile ist dieser Zahlenstrahl aufgeteilt?

b. Was ist die Lage von A (geschrieben als Bruch)?

3)

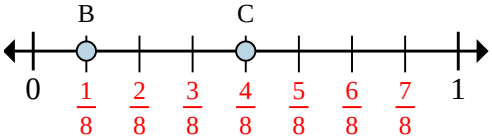

a. Was ist der Wert von 1 als Bruch auf diesem Zahlenstrahl?

b. Wie weit ist es auf diesem Zahlenstrahl von B nach C (geschrieben als Bruch)?

4)

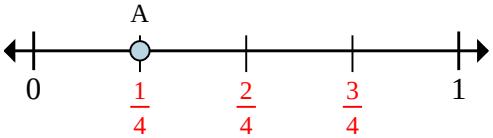

a. In wie viele Teile ist dieser Zahlenstrahl aufgeteilt?

b. Was ist die Lage von A (geschrieben als Bruch)?

5)

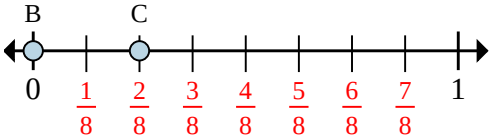

a. Was ist der Wert von 0 als Bruch auf diesem Zahlenstrahl?

b. Wie weit ist es auf diesem Zahlenstrahl von B nach C (geschrieben als Bruch)?

6)

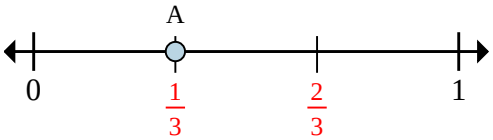

a. In wie viele Teile ist dieser Zahlenstrahl aufgeteilt?

b. Was ist die Lage von A (geschrieben als Bruch)?

7)

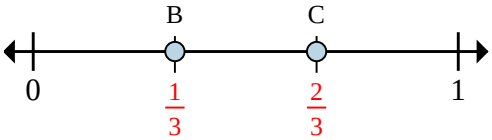

a. Was ist der Wert von 0 als Bruch auf diesem Zahlenstrahl?

b. Wie weit ist es auf diesem Zahlenstrahl von B nach C (geschrieben als Bruch)?

Antworten

Bsp.	8	6/8
1.	0/3	1/3
2.	4	3/4
3.	8/8	3/8
4.	4	1/4
5.	0/8	2/8
6.	3	1/3
7.	0/3	1/3

1-7	86	71	57	43	29	14	0

Bruch-Lage auf dem Zahlenstrahl

Name:

Löse jede Aufgabe.

Bsp)

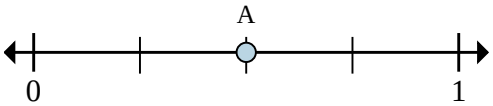

a. In wie viele Teile ist dieser Zahlenstrahl aufgeteilt?

b. Was ist die Lage von A (geschrieben als Bruch)?

1)

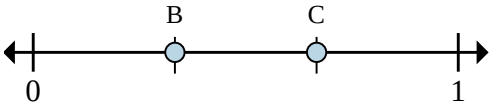

a. Was ist der Wert von 1 als Bruch auf diesem Zahlenstrahl?

b. Wie weit ist es auf diesem Zahlenstrahl von B nach C (geschrieben als Bruch)?

2)

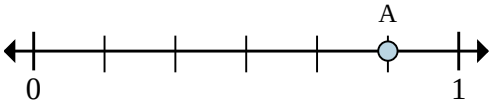

a. In wie viele Teile ist dieser Zahlenstrahl aufgeteilt?

b. Was ist die Lage von A (geschrieben als Bruch)?

3)

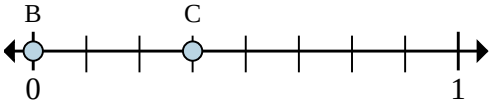

a. Was ist der Wert von 0 als Bruch auf diesem Zahlenstrahl?

b. Wie weit ist es auf diesem Zahlenstrahl von B nach C (geschrieben als Bruch)?

4)

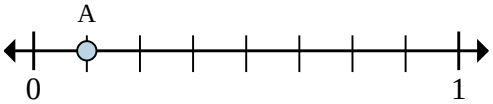

a. In wie viele Teile ist dieser Zahlenstrahl aufgeteilt?

b. Was ist die Lage von A (geschrieben als Bruch)?

5)

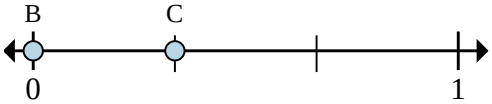

a. Was ist der Wert von 1 als Bruch auf diesem Zahlenstrahl?

b. Wie weit ist es auf diesem Zahlenstrahl von B nach C (geschrieben als Bruch)?

6)

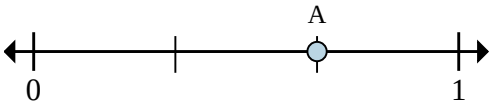

a. In wie viele Teile ist dieser Zahlenstrahl aufgeteilt?

b. Was ist die Lage von A (geschrieben als Bruch)?

7)

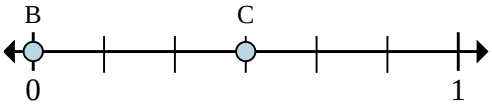

a. Was ist der Wert von 0 als Bruch auf diesem Zahlenstrahl?

b. Wie weit ist es auf diesem Zahlenstrahl von B nach C (geschrieben als Bruch)?

Antworten

Bsp.	4	2/4
1.		
2.		
3.		
4.		
5.		
6.		
7.		

1-7	86	71	57	43	29	14	0

Bruch-Lage auf dem Zahlenstrahl Name: **Lösungsschlüssel**

Löse jede Aufgabe.

Bsp)

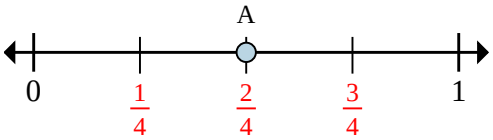

a. In wie viele Teile ist dieser Zahlenstrahl aufgeteilt?

b. Was ist die Lage von A (geschrieben als Bruch)?

1)

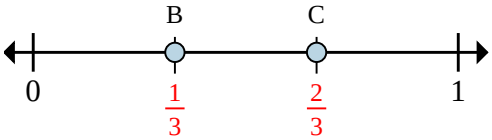

a. Was ist der Wert von 1 als Bruch auf diesem Zahlenstrahl?

b. Wie weit ist es auf diesem Zahlenstrahl von B nach C (geschrieben als Bruch)?

2)

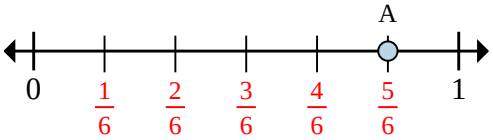

a. In wie viele Teile ist dieser Zahlenstrahl aufgeteilt?

b. Was ist die Lage von A (geschrieben als Bruch)?

3)

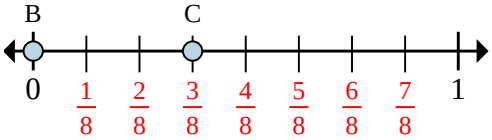

a. Was ist der Wert von 0 als Bruch auf diesem Zahlenstrahl?

b. Wie weit ist es auf diesem Zahlenstrahl von B nach C (geschrieben als Bruch)?

4)

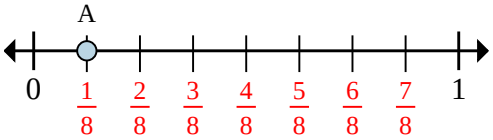

a. In wie viele Teile ist dieser Zahlenstrahl aufgeteilt?

b. Was ist die Lage von A (geschrieben als Bruch)?

5)

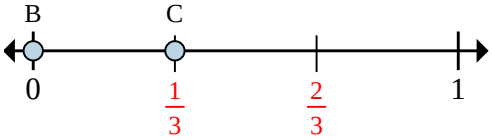

a. Was ist der Wert von 1 als Bruch auf diesem Zahlenstrahl?

b. Wie weit ist es auf diesem Zahlenstrahl von B nach C (geschrieben als Bruch)?

6)

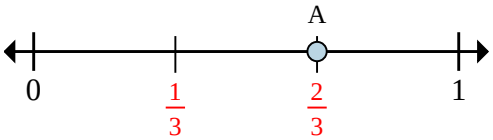

a. In wie viele Teile ist dieser Zahlenstrahl aufgeteilt?

b. Was ist die Lage von A (geschrieben als Bruch)?

7)

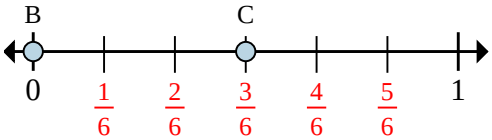

a. Was ist der Wert von 0 als Bruch auf diesem Zahlenstrahl?

b. Wie weit ist es auf diesem Zahlenstrahl von B nach C (geschrieben als Bruch)?

Antworten

Bsp.	4	2/4
1.	3/3	1/3
2.	6	5/6
3.	0/8	3/8
4.	8	1/8
5.	3/3	1/3
6.	3	2/3
7.	0/6	3/6

1-7	86	71	57	43	29	14	0

Bruch-Lage auf dem Zahlenstrahl

Name:

Löse jede Aufgabe.

Bsp)

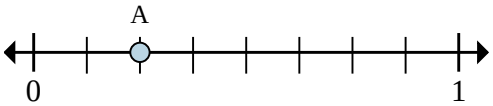

a. In wie viele Teile ist dieser Zahlenstrahl aufgeteilt?

b. Was ist die Lage von A (geschrieben als Bruch)?

1)

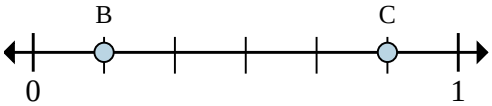

a. Was ist der Wert von 0 als Bruch auf diesem Zahlenstrahl?

b. Wie weit ist es auf diesem Zahlenstrahl von B nach C (geschrieben als Bruch)?

2)

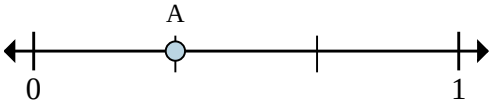

a. In wie viele Teile ist dieser Zahlenstrahl aufgeteilt?

b. Was ist die Lage von A (geschrieben als Bruch)?

3)

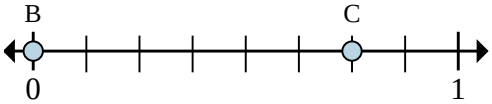

a. Was ist der Wert von 1 als Bruch auf diesem Zahlenstrahl?

b. Wie weit ist es auf diesem Zahlenstrahl von B nach C (geschrieben als Bruch)?

4)

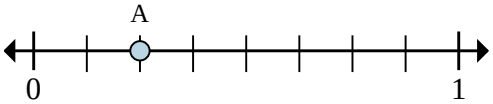

a. In wie viele Teile ist dieser Zahlenstrahl aufgeteilt?

b. Was ist die Lage von A (geschrieben als Bruch)?

5)

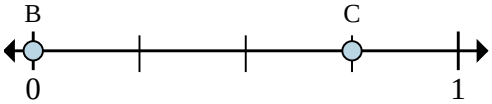

a. Was ist der Wert von 0 als Bruch auf diesem Zahlenstrahl?

b. Wie weit ist es auf diesem Zahlenstrahl von B nach C (geschrieben als Bruch)?

6)

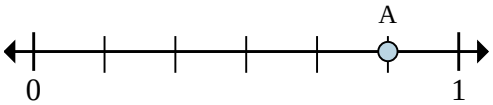

a. In wie viele Teile ist dieser Zahlenstrahl aufgeteilt?

b. Was ist die Lage von A (geschrieben als Bruch)?

7)

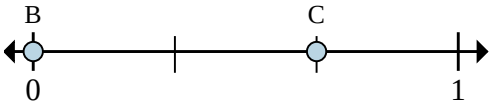

a. Was ist der Wert von 1 als Bruch auf diesem Zahlenstrahl?

b. Wie weit ist es auf diesem Zahlenstrahl von B nach C (geschrieben als Bruch)?

Antworten

Bsp.	8	$^{2}/_{8}$
1.		
2.		
3.		
4.		
5.		
6.		
7.		

1-7	86	71	57	43	29	14	0

Löse jede Aufgabe.

Bsp)

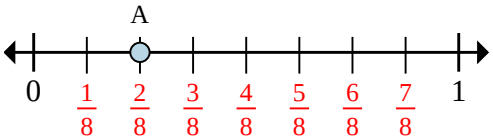

a. In wie viele Teile ist dieser Zahlenstrahl aufgeteilt?

b. Was ist die Lage von A (geschrieben als Bruch)?

1)

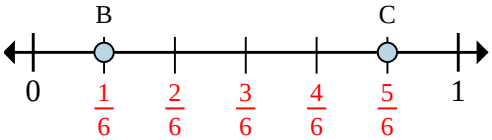

a. Was ist der Wert von 0 als Bruch auf diesem Zahlenstrahl?

b. Wie weit ist es auf diesem Zahlenstrahl von B nach C (geschrieben als Bruch)?

2)

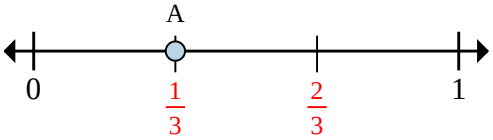

a. In wie viele Teile ist dieser Zahlenstrahl aufgeteilt?

b. Was ist die Lage von A (geschrieben als Bruch)?

3)

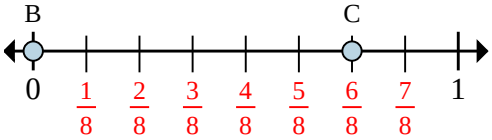

a. Was ist der Wert von 1 als Bruch auf diesem Zahlenstrahl?

b. Wie weit ist es auf diesem Zahlenstrahl von B nach C (geschrieben als Bruch)?

4)

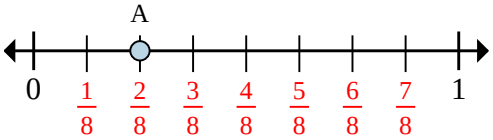

a. In wie viele Teile ist dieser Zahlenstrahl aufgeteilt?

b. Was ist die Lage von A (geschrieben als Bruch)?

5)

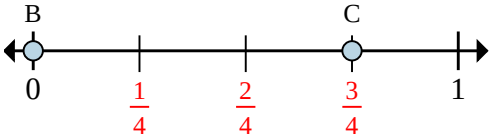

a. Was ist der Wert von 0 als Bruch auf diesem Zahlenstrahl?

b. Wie weit ist es auf diesem Zahlenstrahl von B nach C (geschrieben als Bruch)?

6)

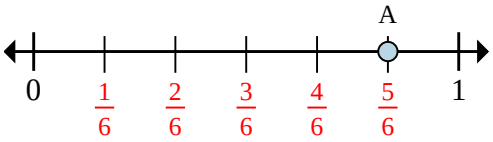

a. In wie viele Teile ist dieser Zahlenstrahl aufgeteilt?

b. Was ist die Lage von A (geschrieben als Bruch)?

7)

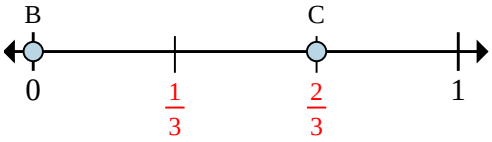

a. Was ist der Wert von 1 als Bruch auf diesem Zahlenstrahl?

b. Wie weit ist es auf diesem Zahlenstrahl von B nach C (geschrieben als Bruch)?

Antworten

Bsp.	8	2/8
1.	0/6	4/6
2.	3	1/3
3.	8/8	6/8
4.	8	2/8
5.	0/4	3/4
6.	6	5/6
7.	3/3	2/3

1-7	86	71	57	43	29	14	0

Bruch-Lage auf dem Zahlenstrahl

Name:

Löse jede Aufgabe.

Bsp)

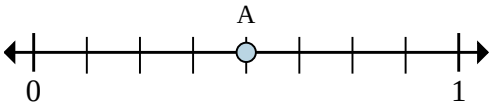

a. In wie viele Teile ist dieser Zahlenstrahl aufgeteilt?

b. Was ist die Lage von A (geschrieben als Bruch)?

1)

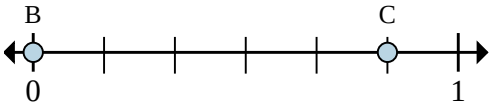

a. Was ist der Wert von 0 als Bruch auf diesem Zahlenstrahl?

b. Wie weit ist es auf diesem Zahlenstrahl von B nach C (geschrieben als Bruch)?

2)

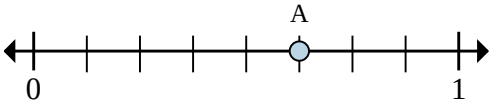

a. In wie viele Teile ist dieser Zahlenstrahl aufgeteilt?

b. Was ist die Lage von A (geschrieben als Bruch)?

3)

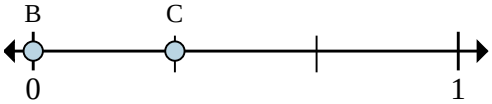

a. Was ist der Wert von 0 als Bruch auf diesem Zahlenstrahl?

b. Wie weit ist es auf diesem Zahlenstrahl von B nach C (geschrieben als Bruch)?

4)

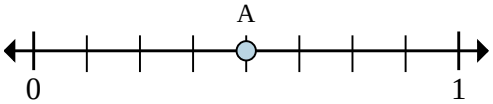

a. In wie viele Teile ist dieser Zahlenstrahl aufgeteilt?

b. Was ist die Lage von A (geschrieben als Bruch)?

5)

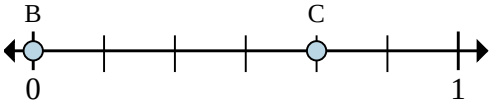

a. Was ist der Wert von 0 als Bruch auf diesem Zahlenstrahl?

b. Wie weit ist es auf diesem Zahlenstrahl von B nach C (geschrieben als Bruch)?

6)

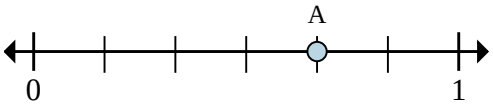

a. In wie viele Teile ist dieser Zahlenstrahl aufgeteilt?

b. Was ist die Lage von A (geschrieben als Bruch)?

7)

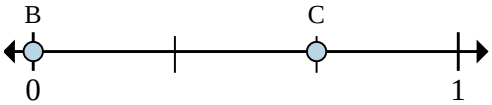

a. Was ist der Wert von 1 als Bruch auf diesem Zahlenstrahl?

b. Wie weit ist es auf diesem Zahlenstrahl von B nach C (geschrieben als Bruch)?

Antworten

Bsp.	8	$\frac{4}{8}$
1.		
2.		
3.		
4.		
5.		
6.		
7.		

1-7	86	71	57	43	29	14	0

Löse jede Aufgabe.

Bsp)

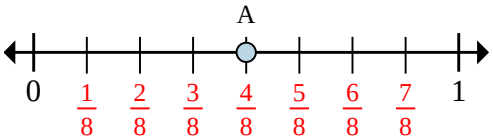

a. In wie viele Teile ist dieser Zahlenstrahl aufgeteilt?

b. Was ist die Lage von A (geschrieben als Bruch)?

1)

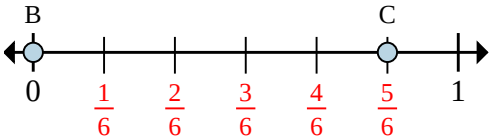

a. Was ist der Wert von 0 als Bruch auf diesem Zahlenstrahl?

b. Wie weit ist es auf diesem Zahlenstrahl von B nach C (geschrieben als Bruch)?

2)

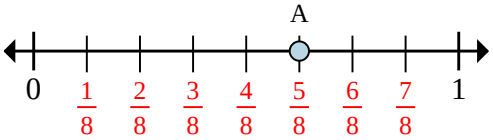

a. In wie viele Teile ist dieser Zahlenstrahl aufgeteilt?

b. Was ist die Lage von A (geschrieben als Bruch)?

3)

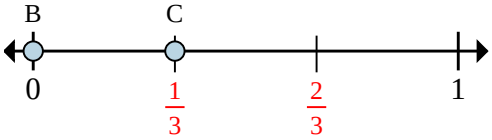

a. Was ist der Wert von 0 als Bruch auf diesem Zahlenstrahl?

b. Wie weit ist es auf diesem Zahlenstrahl von B nach C (geschrieben als Bruch)?

4)

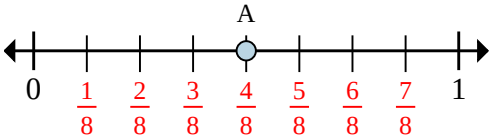

a. In wie viele Teile ist dieser Zahlenstrahl aufgeteilt?

b. Was ist die Lage von A (geschrieben als Bruch)?

5)

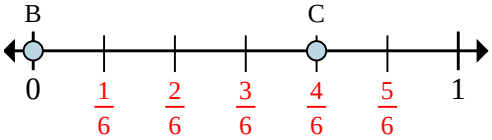

a. Was ist der Wert von 0 als Bruch auf diesem Zahlenstrahl?

b. Wie weit ist es auf diesem Zahlenstrahl von B nach C (geschrieben als Bruch)?

6)

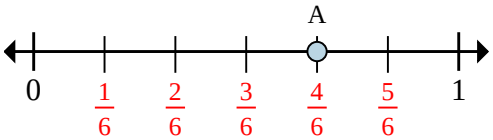

a. In wie viele Teile ist dieser Zahlenstrahl aufgeteilt?

b. Was ist die Lage von A (geschrieben als Bruch)?

7)

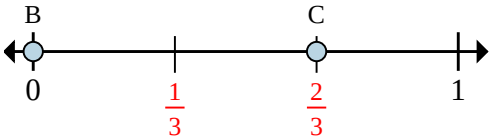

a. Was ist der Wert von 1 als Bruch auf diesem Zahlenstrahl?

b. Wie weit ist es auf diesem Zahlenstrahl von B nach C (geschrieben als Bruch)?

Antworten

Bsp.	8	4/8
1.	0/6	5/6
2.	8	5/8
3.	0/3	1/3
4.	8	4/8
5.	0/6	4/6
6.	6	4/6
7.	3/3	2/3

1-7	86	71	57	43	29	14	0

Bruch-Lage auf dem Zahlenstrahl

Name:

Löse jede Aufgabe.

Bsp)

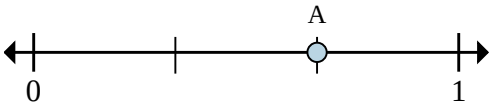

a. In wie viele Teile ist dieser Zahlenstrahl aufgeteilt?

b. Was ist die Lage von A (geschrieben als Bruch)?

1)

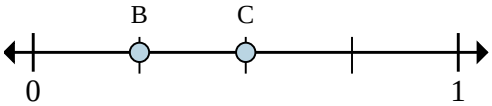

a. Was ist der Wert von 1 als Bruch auf diesem Zahlenstrahl?

b. Wie weit ist es auf diesem Zahlenstrahl von B nach C (geschrieben als Bruch)?

2)

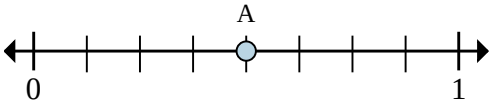

a. In wie viele Teile ist dieser Zahlenstrahl aufgeteilt?

b. Was ist die Lage von A (geschrieben als Bruch)?

3)

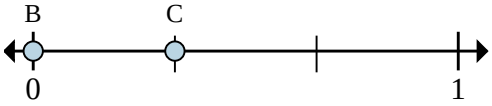

a. Was ist der Wert von 1 als Bruch auf diesem Zahlenstrahl?

b. Wie weit ist es auf diesem Zahlenstrahl von B nach C (geschrieben als Bruch)?

4)

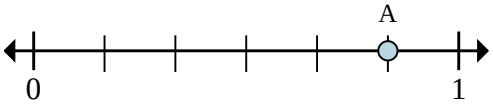

a. In wie viele Teile ist dieser Zahlenstrahl aufgeteilt?

b. Was ist die Lage von A (geschrieben als Bruch)?

5)

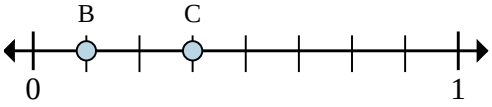

a. Was ist der Wert von 1 als Bruch auf diesem Zahlenstrahl?

b. Wie weit ist es auf diesem Zahlenstrahl von B nach C (geschrieben als Bruch)?

6)

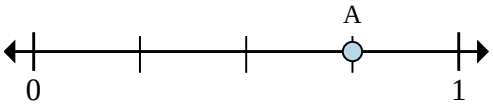

a. In wie viele Teile ist dieser Zahlenstrahl aufgeteilt?

b. Was ist die Lage von A (geschrieben als Bruch)?

7)

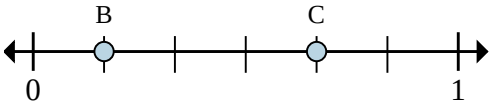

a. Was ist der Wert von 1 als Bruch auf diesem Zahlenstrahl?

b. Wie weit ist es auf diesem Zahlenstrahl von B nach C (geschrieben als Bruch)?

Antworten

Bsp.	3	$^2/_3$
1.		
2.		
3.		
4.		
5.		
6.		
7.		

1-7	86	71	57	43	29	14	0

Löse jede Aufgabe.

Bsp)

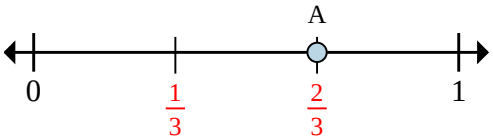

a. In wie viele Teile ist dieser Zahlenstrahl aufgeteilt?

b. Was ist die Lage von A (geschrieben als Bruch)?

1)

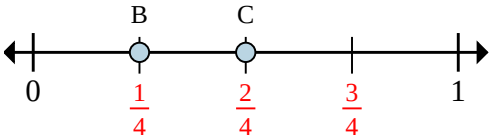

a. Was ist der Wert von 1 als Bruch auf diesem Zahlenstrahl?

b. Wie weit ist es auf diesem Zahlenstrahl von B nach C (geschrieben als Bruch)?

2)

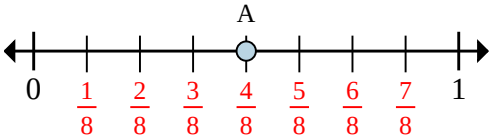

a. In wie viele Teile ist dieser Zahlenstrahl aufgeteilt?

b. Was ist die Lage von A (geschrieben als Bruch)?

3)

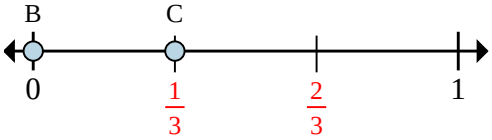

a. Was ist der Wert von 1 als Bruch auf diesem Zahlenstrahl?

b. Wie weit ist es auf diesem Zahlenstrahl von B nach C (geschrieben als Bruch)?

4)

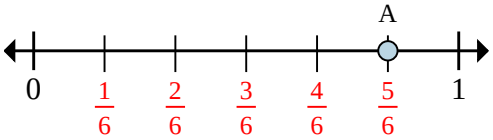

a. In wie viele Teile ist dieser Zahlenstrahl aufgeteilt?

b. Was ist die Lage von A (geschrieben als Bruch)?

5)

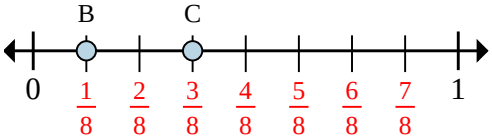

a. Was ist der Wert von 1 als Bruch auf diesem Zahlenstrahl?

b. Wie weit ist es auf diesem Zahlenstrahl von B nach C (geschrieben als Bruch)?

6)

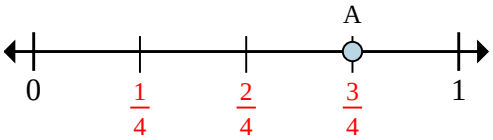

a. In wie viele Teile ist dieser Zahlenstrahl aufgeteilt?

b. Was ist die Lage von A (geschrieben als Bruch)?

7)

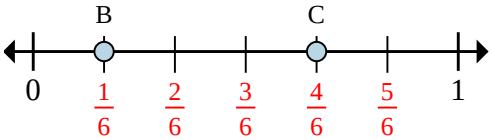

a. Was ist der Wert von 1 als Bruch auf diesem Zahlenstrahl?

b. Wie weit ist es auf diesem Zahlenstrahl von B nach C (geschrieben als Bruch)?

Antworten

Bsp.	3	2/3
1.	4/4	1/4
2.	8	4/8
3.	3/3	1/3
4.	6	5/6
5.	8/8	2/8
6.	4	3/4
7.	6/6	3/6

1-7	86	71	57	43	29	14	0

Bruch-Lage auf dem Zahlenstrahl

Name:

Löse jede Aufgabe.

Bsp)

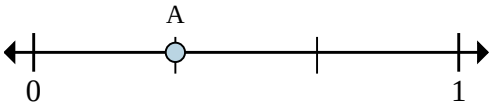

a. In wie viele Teile ist dieser Zahlenstrahl aufgeteilt?

b. Was ist die Lage von A (geschrieben als Bruch)?

1)

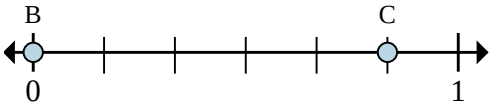

a. Was ist der Wert von 1 als Bruch auf diesem Zahlenstrahl?

b. Wie weit ist es auf diesem Zahlenstrahl von B nach C (geschrieben als Bruch)?

2)

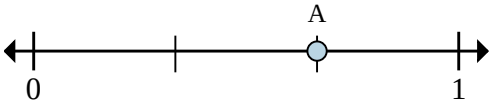

a. In wie viele Teile ist dieser Zahlenstrahl aufgeteilt?

b. Was ist die Lage von A (geschrieben als Bruch)?

3)

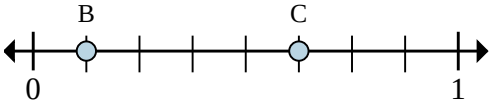

a. Was ist der Wert von 0 als Bruch auf diesem Zahlenstrahl?

b. Wie weit ist es auf diesem Zahlenstrahl von B nach C (geschrieben als Bruch)?

4)

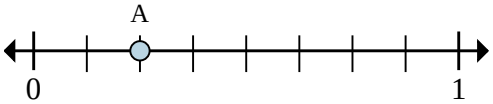

a. In wie viele Teile ist dieser Zahlenstrahl aufgeteilt?

b. Was ist die Lage von A (geschrieben als Bruch)?

5)

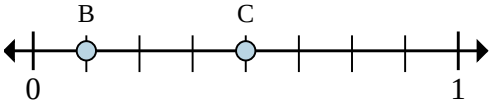

a. Was ist der Wert von 1 als Bruch auf diesem Zahlenstrahl?

b. Wie weit ist es auf diesem Zahlenstrahl von B nach C (geschrieben als Bruch)?

6)

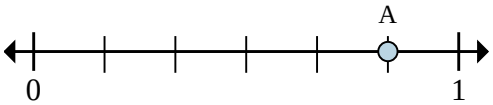

a. In wie viele Teile ist dieser Zahlenstrahl aufgeteilt?

b. Was ist die Lage von A (geschrieben als Bruch)?

7)

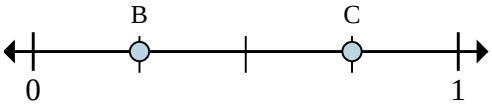

a. Was ist der Wert von 1 als Bruch auf diesem Zahlenstrahl?

b. Wie weit ist es auf diesem Zahlenstrahl von B nach C (geschrieben als Bruch)?

Antworten

Bsp.	3	$\frac{1}{3}$
1.		
2.		
3.		
4.		
5.		
6.		
7.		

1-7	86	71	57	43	29	14	0

Löse jede Aufgabe.

Bsp)

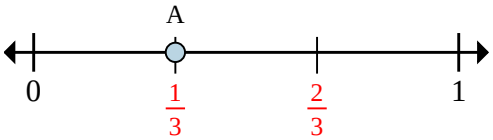

a. In wie viele Teile ist dieser Zahlenstrahl aufgeteilt?

b. Was ist die Lage von A (geschrieben als Bruch)?

1)

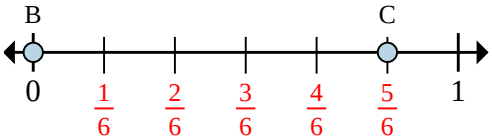

a. Was ist der Wert von 1 als Bruch auf diesem Zahlenstrahl?

b. Wie weit ist es auf diesem Zahlenstrahl von B nach C (geschrieben als Bruch)?

2)

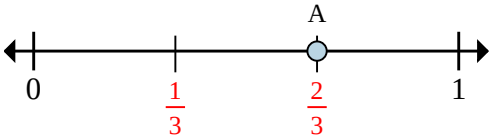

a. In wie viele Teile ist dieser Zahlenstrahl aufgeteilt?

b. Was ist die Lage von A (geschrieben als Bruch)?

3)

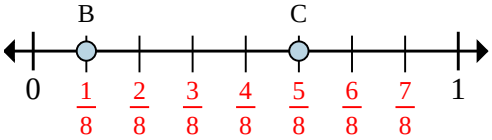

a. Was ist der Wert von 0 als Bruch auf diesem Zahlenstrahl?

b. Wie weit ist es auf diesem Zahlenstrahl von B nach C (geschrieben als Bruch)?

4)

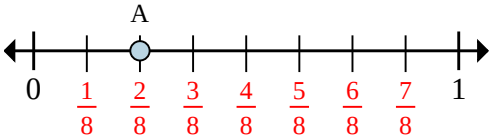

a. In wie viele Teile ist dieser Zahlenstrahl aufgeteilt?

b. Was ist die Lage von A (geschrieben als Bruch)?

5)

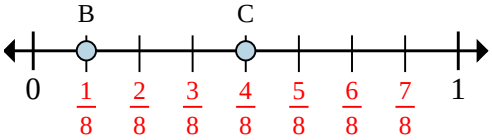

a. Was ist der Wert von 1 als Bruch auf diesem Zahlenstrahl?

b. Wie weit ist es auf diesem Zahlenstrahl von B nach C (geschrieben als Bruch)?

6)

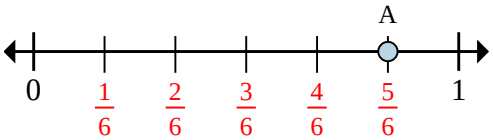

a. In wie viele Teile ist dieser Zahlenstrahl aufgeteilt?

b. Was ist die Lage von A (geschrieben als Bruch)?

7)

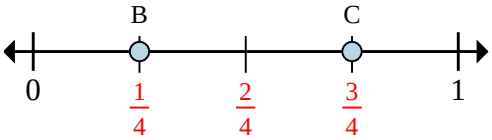

a. Was ist der Wert von 1 als Bruch auf diesem Zahlenstrahl?

b. Wie weit ist es auf diesem Zahlenstrahl von B nach C (geschrieben als Bruch)?

Antworten

Bsp.	3	1/3
1.	6/6	5/6
2.	3	2/3
3.	0/8	4/8
4.	8	2/8
5.	8/8	3/8
6.	6	5/6
7.	4/4	2/4

1-7	86	71	57	43	29	14	0