Brüche identifizieren

Name:

Stelle fest, welcher Buchstabe jeden Bruch darstellt.

1) Durch welche Möglichkeit wird $^{2}/_{3}$ dargestellt?

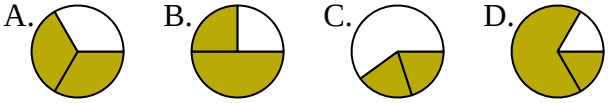

2) Durch welche Möglichkeit wird $^{1}/_{4}$ dargestellt?

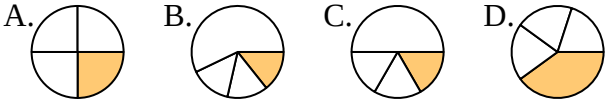

3) Durch welche Möglichkeit wird $^{5}/_{6}$ dargestellt?

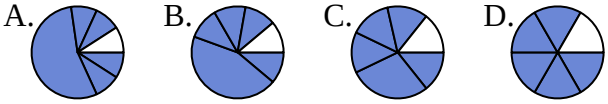

4) Durch welche Möglichkeit wird $^{3}/_{8}$ dargestellt?

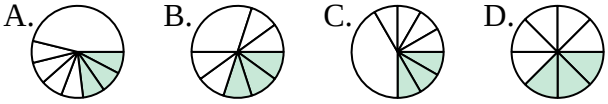

5) Durch welche Möglichkeit wird $^{1}/_{3}$ dargestellt?

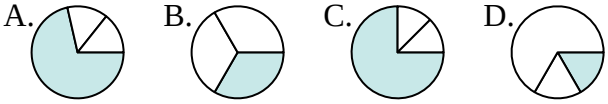

6) Durch welche Möglichkeit wird $^{2}/_{4}$ dargestellt?

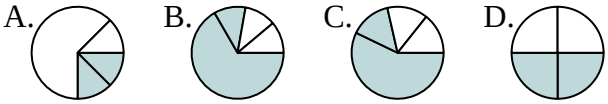

7) Durch welche Möglichkeit wird $^{3}/_{6}$ dargestellt?

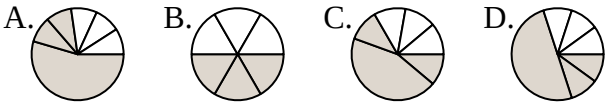

8) Durch welche Möglichkeit wird $^{7}/_{8}$ dargestellt?

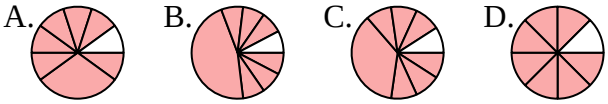

9) Durch welche Möglichkeit wird $^{3}/_{4}$ dargestellt?

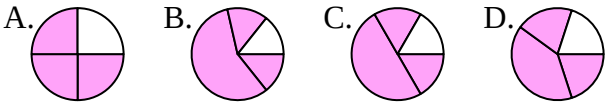

10) Durch welche Möglichkeit wird $^{1}/_{6}$ dargestellt?

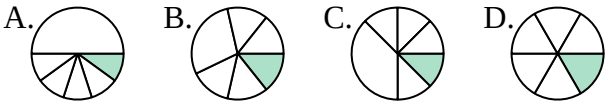

11) Durch welche Möglichkeit wird $^{2}/_{8}$ dargestellt?

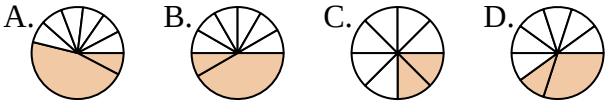

12) Durch welche Möglichkeit wird $^{2}/_{6}$ dargestellt?

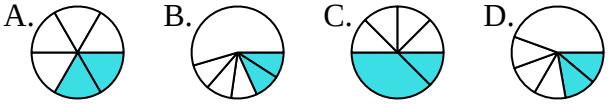

Antworten

1. _____
2. _____
3. _____
4. _____
5. _____
6. _____
7. _____
8. _____
9. _____
10. _____
11. _____
12. _____

1-10	92	83	75	67	58	50	42	33	25	17
11-12	8	0								

Brüche identifizieren

Name: **Lösungsschlüssel**

Stelle fest, welcher Buchstabe jeden Bruch darstellt.

1) Durch welche Möglichkeit wird $^{2}/_{3}$ dargestellt?

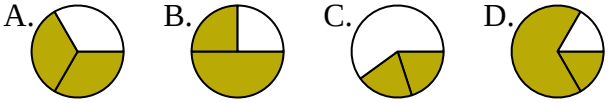

2) Durch welche Möglichkeit wird $^{1}/_{4}$ dargestellt?

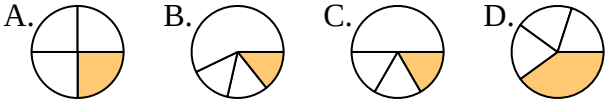

3) Durch welche Möglichkeit wird $^{5}/_{6}$ dargestellt?

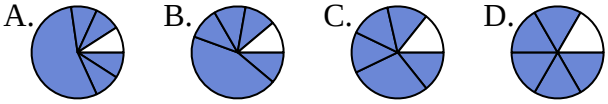

4) Durch welche Möglichkeit wird $^{3}/_{8}$ dargestellt?

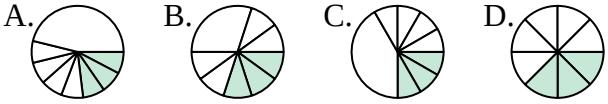

5) Durch welche Möglichkeit wird $^{1}/_{3}$ dargestellt?

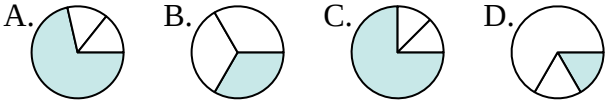

6) Durch welche Möglichkeit wird $^{2}/_{4}$ dargestellt?

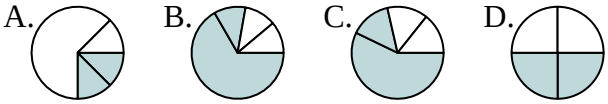

7) Durch welche Möglichkeit wird $^{3}/_{6}$ dargestellt?

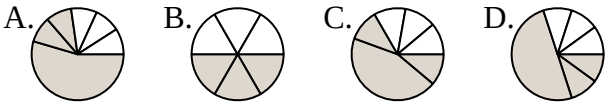

8) Durch welche Möglichkeit wird $^{7}/_{8}$ dargestellt?

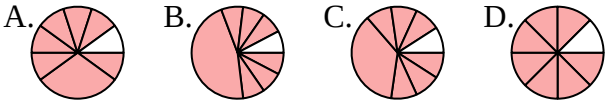

9) Durch welche Möglichkeit wird $^{3}/_{4}$ dargestellt?

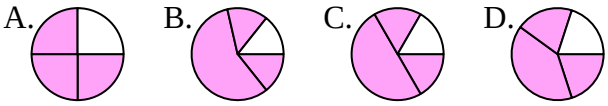

10) Durch welche Möglichkeit wird $^{1}/_{6}$ dargestellt?

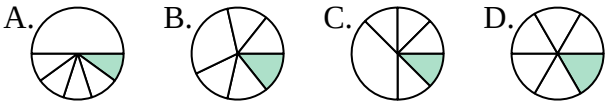

11) Durch welche Möglichkeit wird $^{2}/_{8}$ dargestellt?

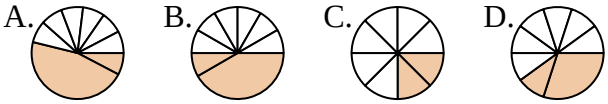

12) Durch welche Möglichkeit wird $^{2}/_{6}$ dargestellt?

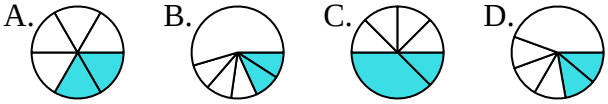

Antworten

1. **A**
2. **A**
3. **D**
4. **D**
5. **B**
6. **D**
7. **B**
8. **D**
9. **A**
10. **D**
11. **C**
12. **A**

1-10	92	83	75	67	58	50	42	33	25	17
11-12	8	0								