Brüche und Dezimalzahlen von einem Zahlenrad ausdrücken Name:

Löse jede Aufgabe.

1) Drücken Sie den nicht beschattet-Anteil als Bruchteil des Ganzen mit einem 100 als Nenner aus.

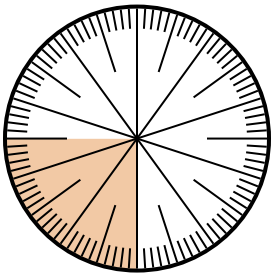

2) Drücken Sie den nicht beschattet-Anteil als Dezimalzahl des Ganzen aus.

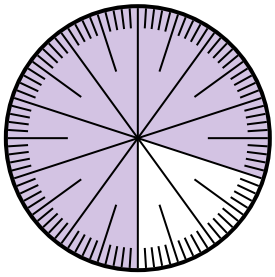

3) Drücken Sie den schattiert-Anteil als Bruchteil des Ganzen mit einem 100 als Nenner aus.

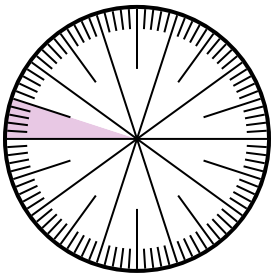

4) Drücken Sie den schattiert-Anteil als Bruchteil des Ganzen mit einem 100 als Nenner aus.

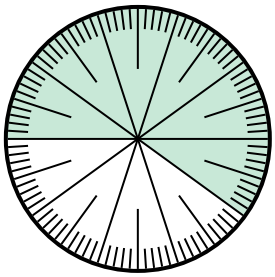

5) Drücken Sie den nicht beschattet-Anteil als Bruchteil des Ganzen mit einem 100 als Nenner aus.

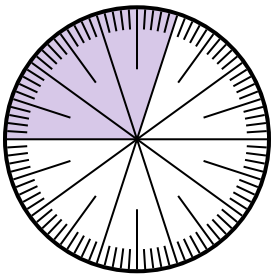

6) Drücken Sie den nicht beschattet-Anteil als Bruchteil des Ganzen mit einem 100 als Nenner aus.

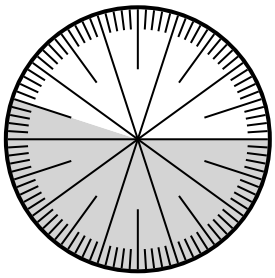

7) Drücken Sie den nicht beschattet-Anteil als Bruchteil des Ganzen mit einem 100 als Nenner aus.

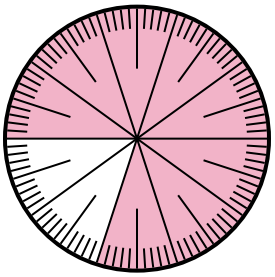

8) Drücken Sie den nicht beschattet-Anteil als Dezimalzahl des Ganzen aus.



Antworten

1. _____
2. _____
3. _____
4. _____
5. _____
6. _____
7. _____
8. _____

1-8	88	75	63	50	38	25	13	0

Brüche und Dezimalzahlen von einem Zahlenrad ausdrücken Name: **Lösungsschlüssel**

Löse jede Aufgabe.

1) Drücken Sie den nicht beschattet-Anteil als Bruchteil des Ganzen mit einem 100 als Nenner aus.

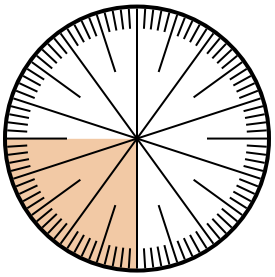

2) Drücken Sie den nicht beschattet-Anteil als Dezimalzahl des Ganzen aus.

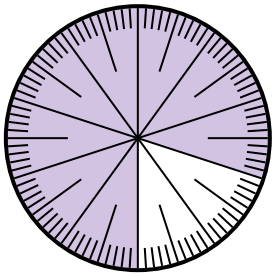

3) Drücken Sie den schattiert-Anteil als Bruchteil des Ganzen mit einem 100 als Nenner aus.

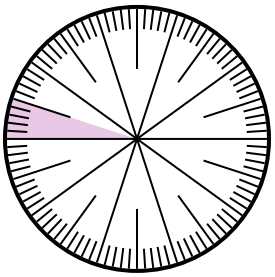

4) Drücken Sie den schattiert-Anteil als Bruchteil des Ganzen mit einem 100 als Nenner aus.

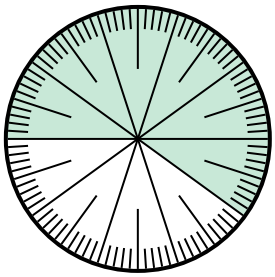

5) Drücken Sie den nicht beschattet-Anteil als Bruchteil des Ganzen mit einem 100 als Nenner aus.

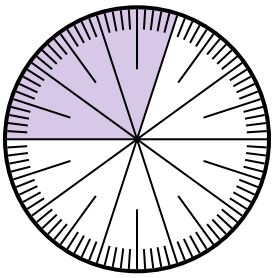

6) Drücken Sie den nicht beschattet-Anteil als Bruchteil des Ganzen mit einem 100 als Nenner aus.

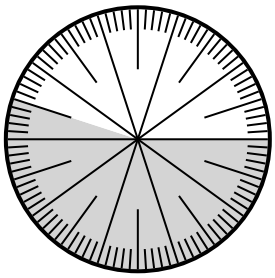

7) Drücken Sie den nicht beschattet-Anteil als Bruchteil des Ganzen mit einem 100 als Nenner aus.

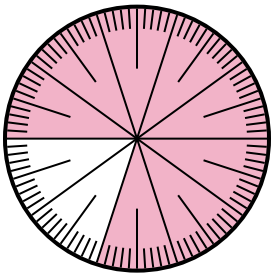

8) Drücken Sie den nicht beschattet-Anteil als Dezimalzahl des Ganzen aus.



Antworten

1. $^{75}/_{100}$
2. **0,2**
3. $^{5}/_{100}$
4. $^{60}/_{100}$
5. $^{70}/_{100}$
6. $^{45}/_{100}$
7. $^{20}/_{100}$
8. **0,6**

1-8	88	75	63	50	38	25	13	0