Visuelle Division

Name:

Benutze die vorgegebenen Figuren zur Beantwortung der Fragen.

Bsp) Wie viele Gruppen von 6 kannst du machen mit den 18 Figuren unten?

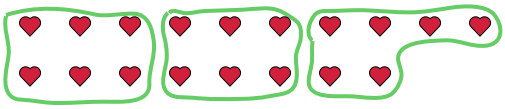

1) Wie viele Gruppen von 7 kannst du machen mit den 21 Figuren unten?

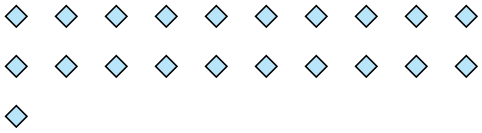

2) Wie viele Gruppen von 6 kannst du machen mit den 30 Figuren unten?

3) Wie viele Gruppen von 4 kannst du machen mit den 28 Figuren unten?

4) Wie viele Gruppen von 9 kannst du machen mit den 27 Figuren unten?



5) Wie viele Gruppen von 6 kannst du machen mit den 24 Figuren unten?

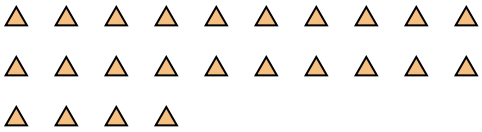

6) Wie viele Gruppen von 3 kannst du machen mit den 30 Figuren unten?



7) Wie viele Gruppen von 5 kannst du machen mit den 30 Figuren unten?

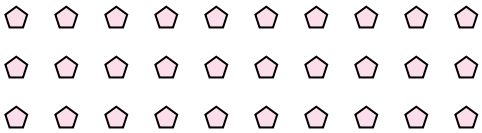

8) Wie viele Gruppen von 7 kannst du machen mit den 14 Figuren unten?

9) Wie viele Gruppen von 5 kannst du machen mit den 40 Figuren unten?

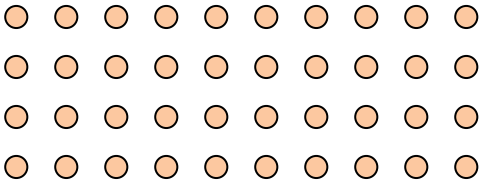

10) Wie viele Gruppen von 2 kannst du machen mit den 16 Figuren unten?

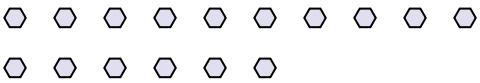

11) Wie viele Gruppen von 5 kannst du machen mit den 30 Figuren unten?



Antworten

Bsp. 3

1. _____
2. _____
3. _____
4. _____
5. _____
6. _____
7. _____
8. _____
9. _____
10. _____
11. _____

1-10	91	82	73	64	55	45	36	27	18	9
11	0									

Visuelle Division

Name: **Lösungsschlüssel**

Benutze die vorgegebenen Figuren zur Beantwortung der Fragen.

Bsp) Wie viele Gruppen von 6 kannst du machen mit den 18 Figuren unten?

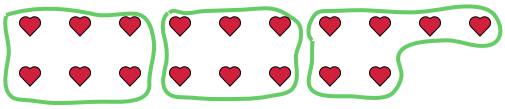

1) Wie viele Gruppen von 7 kannst du machen mit den 21 Figuren unten?

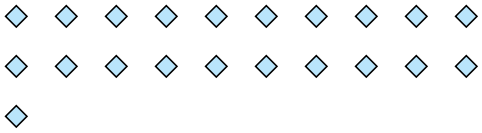

2) Wie viele Gruppen von 6 kannst du machen mit den 30 Figuren unten?

3) Wie viele Gruppen von 4 kannst du machen mit den 28 Figuren unten?

4) Wie viele Gruppen von 9 kannst du machen mit den 27 Figuren unten?



5) Wie viele Gruppen von 6 kannst du machen mit den 24 Figuren unten?

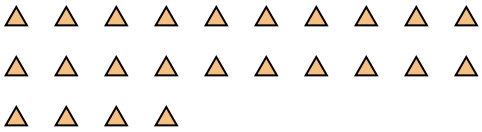

6) Wie viele Gruppen von 3 kannst du machen mit den 30 Figuren unten?



7) Wie viele Gruppen von 5 kannst du machen mit den 30 Figuren unten?

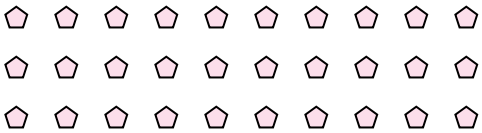

8) Wie viele Gruppen von 7 kannst du machen mit den 14 Figuren unten?

9) Wie viele Gruppen von 5 kannst du machen mit den 40 Figuren unten?

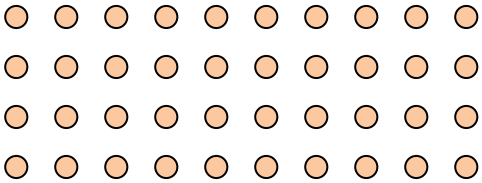

10) Wie viele Gruppen von 2 kannst du machen mit den 16 Figuren unten?

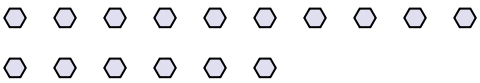

11) Wie viele Gruppen von 5 kannst du machen mit den 30 Figuren unten?



Antworten

Bsp.	3
1.	3
2.	5
3.	7
4.	3
5.	4
6.	10
7.	6
8.	2
9.	8
10.	8
11.	6

1-10	91	82	73	64	55	45	36	27	18	9
11	0									